BAHAN BACAAN GURU & SISWA

TOPIK BANGUN DATAR
SUB TOPIK LUAS JAJARGENJANG

Kelas V

Rahayu Fitriyani (K7120213)

LIVEWORKSHEETS

Amati Gambar Berikut ini!

Di bawah ini manakah bangun datar jajargenjang?

LIVEWORKSHEETS

Pengertian Jajargenjang

- **Pengertian Bangun Datar**

Bangun datar adalah bangun dua dimensi yang yang tersusun atas kumpulan titik, garis, dan bidang, memiliki panjang serta lebar sehingga memiliki keliling dan luas.

- **Pengertian Jajargenjang**

Jajargenjang adalah segi empat yang memiliki kedua pasang sisi yang sejajar dan sama panjang.

- **Sifat Bangun Datar Jajargenjang**

Untuk mengetahui sifat bangun datar, jajargenjang perhatikan video berikut ini!

LIVEWORKSHEETS

Menentukan Dua Luas Bangun Datar

Potongan kue lapis persegi panjang

Potongan kue lapis Jajargenjang

Bagaimana cara mencari luas kue tersebut? Pehatikan dua kue diatas! Dua kue tersebut memiliki panjang dan tinggi yang sama yaitu panjang 6 cm dan tinggi 5 cm.



LIVEWORKSHEETS

Luas Persegi Panjang

Karena ⓐ persegi panjang, luasnya dapat dihitung dengan rumus luas.

Luas ⓐ = panjang×lebar

= ☐ × ☐

= ☐

Jawab ☐ cm^2

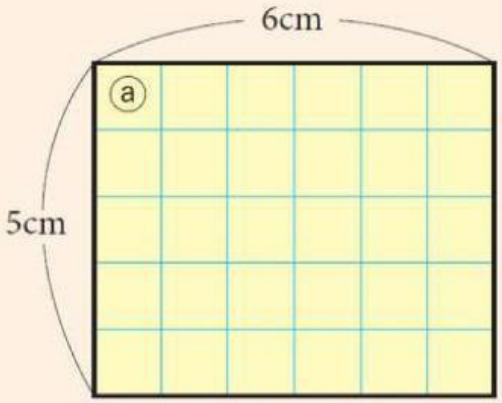

Luas Jajargenjang

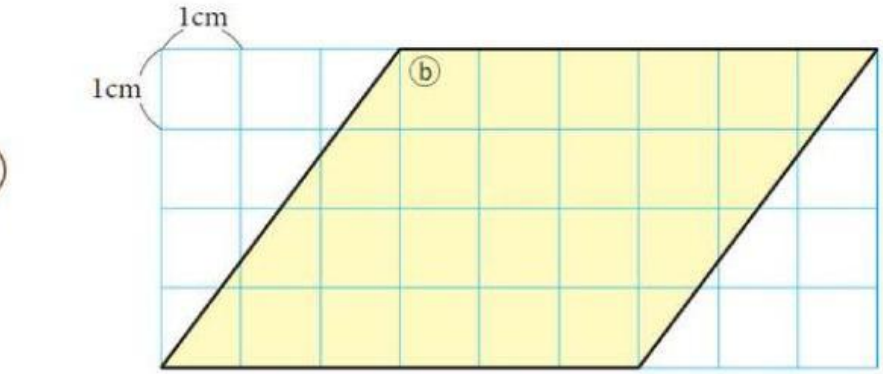

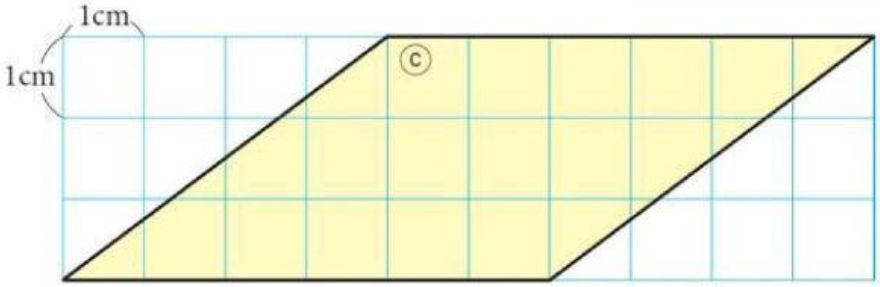

❸ Ayo, pikirkan bagaimana cara menghitung luas jajargenjang.

Ayo, pikirkan cara menemukan luas segitiga dan jajargenjang.

LIVEWORKSHEETS

Luas Jajargenjang

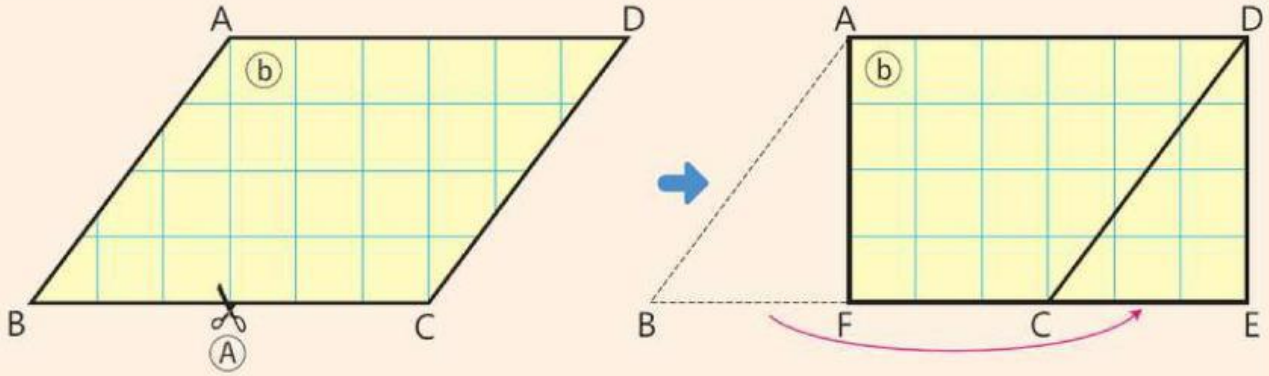

Luas jajargenjang ABCD sama dengan luas persegi panjang AFED.

Luas jajargenjang ⓑ = luas persegi panjang AFED

= AF × FE

= ☐ × ☐

= ☐

Jawab ☐ cm^2

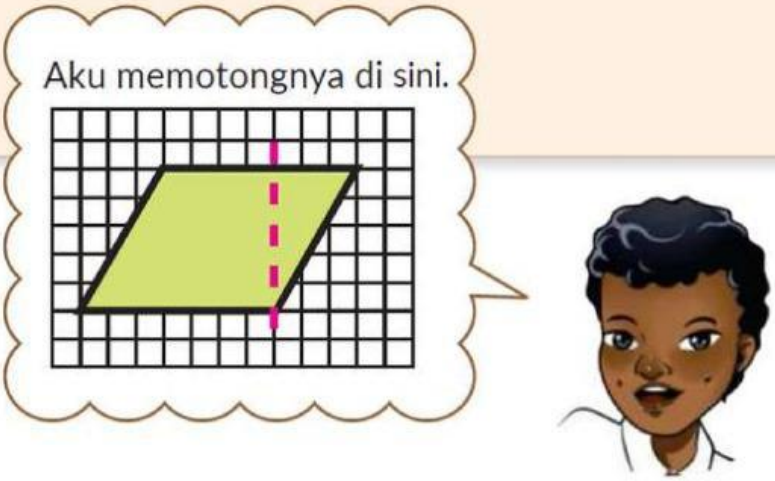

LIVEWORKSHEETS