نشاط ختامي (استراتيجيات عمليات الضرب)

صل كل بالونة بالطفل الذي يحمل الإجابة الصحيحة.



LIVEWORKSHEETS

صل صنارة الصياد بالسمكة المناسبة لإكمال العبارة :

١٥ × ١٩ = ١٥ × ٢٠ [؟]



أكمل الفراغات في اللوحات التي تحملها الفراشات.



أعداد :- الاستاذه أمل الروشدية

LIVEWORKSHEETS