Діагностична робота № 1 (1 варіант)

Числа. Дії з числами. Сюжетні задачі.

Прізвище ім'я

Дата

1 Робочі мурахи живуть до 3 років, тоді як мурашина королева може царювати до 30 років. Встав пропущені числа. Вибери в якому порядку розташовані числа.

3, __, 5, 6, 7, ___, 9, 10, ___, ___, 13, ___, 15, __, 17, __, 19, __, 21, 22, ___, ___, 25, ___, 27, ___, ___, 30.

Прямий Зворотній

2 Мурашина королева займається виключно тим, що відкладає яйця. Турбота про них – обов'язок мурах-няньок. Запиши числа в порядку зростання.

3 Мурахи-солдати дуже часто використовують свої голови, щоб закрити вхід/вихід з мурашника. Порівняй числа.

89 ◯ 100

12 ◯ 22

77 ◯ 66

7 дес. ◯ 70

4 Мурахи-будівельники займаються ремонтом мурашника. Протягом усього життя вони риють нові тунелі, переносять хвою і гілочки, підтримують мурашник у доброму стані. Запиши «сусідів» чисел.

___, 2, ___; ___, 99, ___; ___, 47, ___.

LIVEWORKSHEETS

5 Це цікаво! Мураха сильніша за слона! Слон насилу піднімає вантаж у 3 рази більший від своєї маси, а мураха – у 50 разів більший.

Додай і відніми числа, які розміщенні на однакових геометричних фігурах.

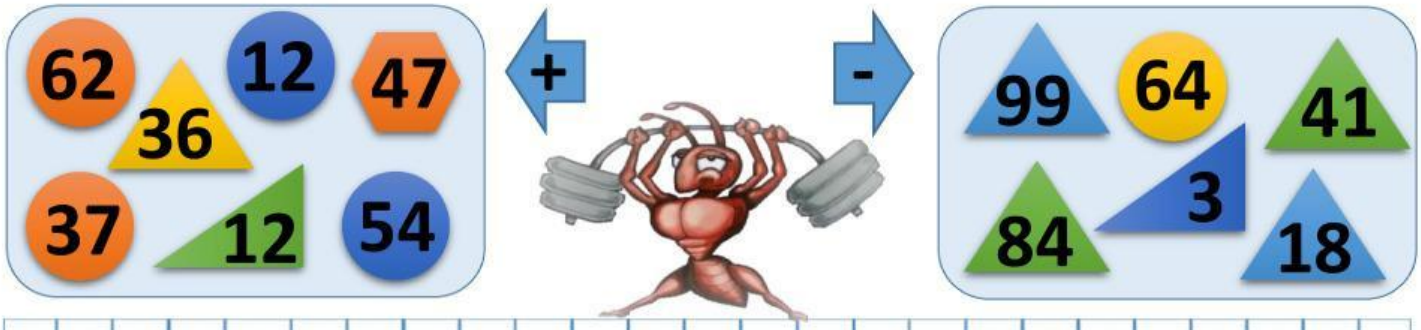

6 Мурахи – “санітари лісу”. П'яти мурашників на гектар лісу достатньо, щоб захистити дерева від комах-шкідників. Розсортуй числа. Запиши.



Парні	Непарні	Круглі

7 Мурашник — гніздо мурашок, що споруджується з різноманітного матеріалу в землі, між камінням, у трухлявій деревині, іноді у вигляді надземного конусу. Прочитай задачу. Вибери опорну схему до задачі. Впиши відповідні числа.

У мурашник зайшло 10 мурах-санітарів і 7 мурах-няньок. На скільки більше санітарів, ніж няньок у мурашкику?

I — □
II — □
На ?

I — □
II — ?, на □

LIVEWORKSHEETS

8 Мурахи-«пастухи» виганяють «стада» попелиць пастися, а потім знову заганяють їх у підземні галереї гнізда. Вони захищають своїх «корів» від ворогів, переносять з однієї рослини на інше, споруджують для них спеціальні укриття.

Creative bees

Розглянь скорочений запис. Розв'яжи задачу.



Понеділок – 16 п.
Середа – 33 п.
} ? п.

9 Деякі мурахи не будують мурашників, а ведуть кочовий спосіб життя. Коли приходить час рухатися далі, вони збирають своїх личинок, запас їжі, яйця і королеву, а потім вирушають у дорогу. Запиши число, у запису якого є цифра 3 в розряді одиниць. Воно менше, ніж 21, але більше, ніж 12. Яке це число?

Перевір свою роботу. Виправ охайно помилки.
Після перевірки постав «+» у клітинці ☐
Як я оцінюю свою роботу?

Мені було легко виконувати завдання (вкажи номери завдань)	
Я мав проблему із завданням	
Найскладнішим було завдання	

Creative bees
LIVEWORKSHEETS