Завдання 1

Множина - це?

- ☐ об'єднання в одну «групу» об'єктів, які мають спільні ознаки.
- ☐ предмети, з яких складається множина
- ☐ багато різних об'єктів в колі

Завдання 2

Заповни схему с колами Ейлера.

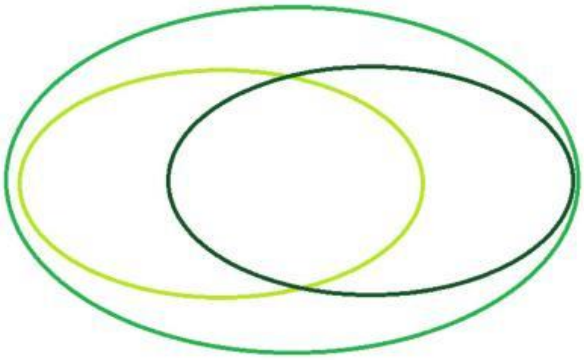

Завдання 3

На перерві діти їли фрукти. 5 їли мандарини, 8 їли помаранчі. 3 їли і апельсини і помаранчі. Скільки дітей їли фрукти?

- ☐ 3+5=8
- ☐ 5+8=13
- ☐ 3+8=11

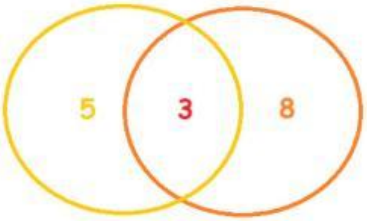

Завдання 4

Які літери треба поставити замість знаків питань щоб схема була правильною?

Корова, город.

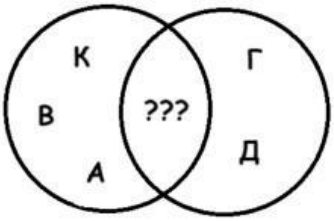

- ☐ ово
- ☐ одо
- ☐ оро
- ☐ аво

Завдання 5

Виконай завдання на відповідність

Солодощі *Солодощі/солодощі на паличці* *Солодощі/Печиво*

Завдання 6

Виконай завдання на відповідність

Об`єднання «U»	Множина від якої відняли елементи іншої множини.
Переріз «∩»	Множина, яка складається з елементів, які водночас належать обом множинам і тільки ним.
Різниця «/»	Множина що поєднала в собі декілька множин

LIVEWORKSHEETS