Thứ ..... ngày ..... tháng 11 năm 2023

PHIẾU ÔN HỌC PHẦN 2-SỐ 4
MÔN: TOÁN

Họ và tên:.....

Lớp: 1A...

Nhận xét của giáo viên: .....

Câu 1: Khoanh vào đáp án đúng. Hình bên là hình:

A. Hình lập phương B. Hình hộp chữ nhật C. Hình trụ

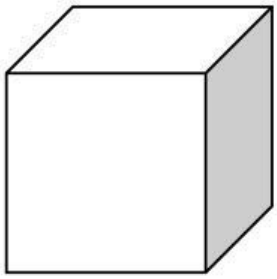

Câu 2. Đánh dấu x ô trống dưới hình đa giác đều; Tô màu vào hình nhiều hơn 4 cạnh:

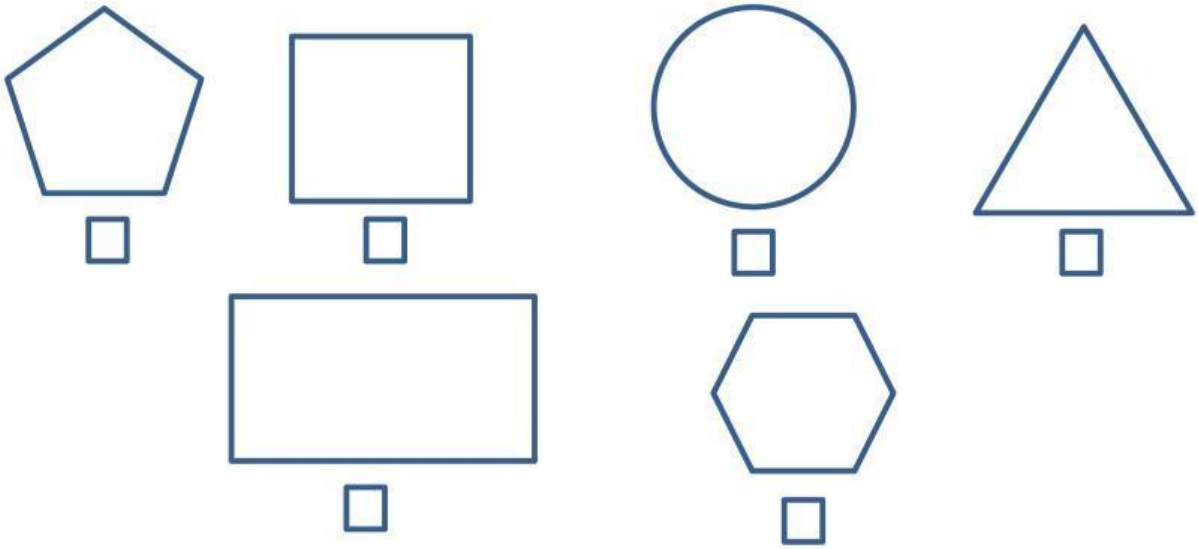

Câu 3. Nối:



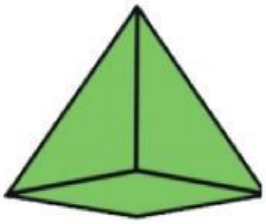



6 mặt, 8 đỉnh, 12 cạnh

0 cạnh, 0 đỉnh, 2 mặt

5 mặt, 8 cạnh, 5 đỉnh

LIVEWORKSHEETS

Câu 4. Nối tên hình phẳng và hình khối với các đồ vật:

Hình cầu	**Hình chóp đáy vuông**	**Hình trụ**	**Hình hộp chữ nhật**	**Hình tròn**

Câu 5. Tô màu vào các hình chữ nhật:

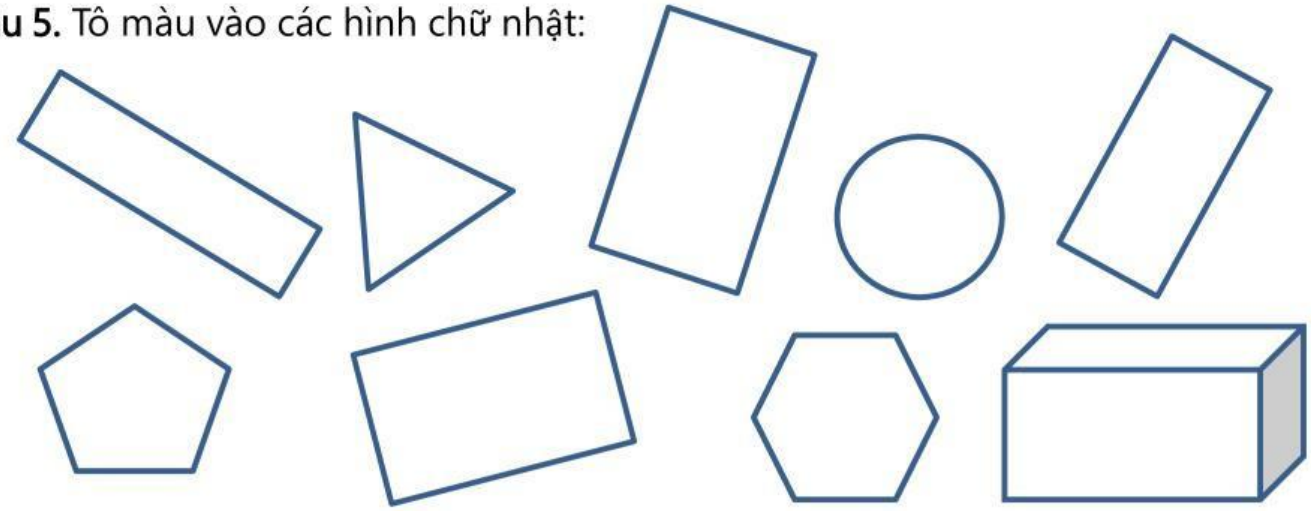

Câu 6. Vẽ trục đối xứng cho các hình sau: (2 điểm)



Câu 7. Nối hình có phần tô màu với ô tương ứng: (2 điểm)

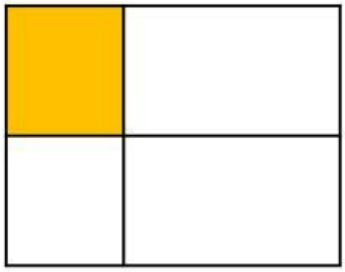

$\frac{1}{4}$
Không phải $\frac{1}{4}$



LIVEWORKSHEETS

Câu 8. Vẽ phần hình đối xứng để được hình tổng thể: (2 điểm)

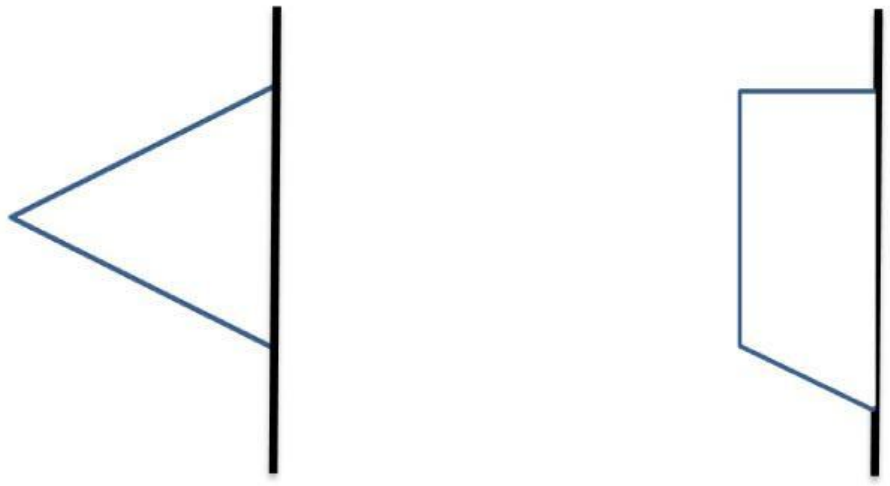

Câu 9. Nối các hình để tạo thành 1 hình tổng thể:



Câu 10. Tô màu các hình đúng với phân số:



$\frac{1}{4}$

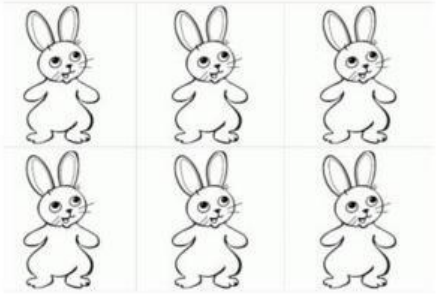

$\frac{1}{}$

LIVEWORKSHEETS

Câu 11. Vẽ 1 hình tam giác:

Câu 12. Vẽ 1 đoạn thẳng dài 4 cm:

Câu 13.

a. Đo chiều dài hộp bút màu và điền số đo vào chỗ chấm:

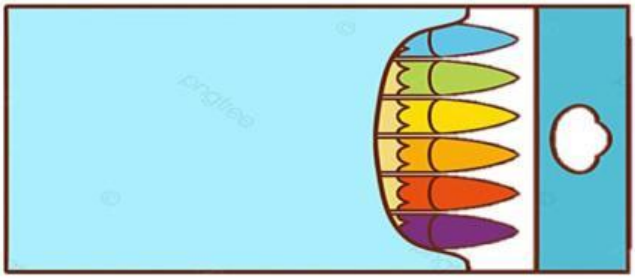

.....

b. Ước lượng độ dài của cột cờ trong thực tế và khoanh vào độ dài thích hợp:

15cm **5m**

LIVEWORKSHEETS