1-العلم الذي يهتم بفن رسم الخرائط وصناعتها:

أ-الفَلك ب- الطب ج- الرياضيات د- الخرائط

2- الحضارة التي رَسمَت خريطة الأرض التي أمامك هم:

أ-المصرية ب- الرومانية ج- البابلية د- الإغريقية

3-المادة التي استخدمها المصريون لرسم خرائطهم والتي تُمثّله الصورة التي أمامك:

أ-ورق البُردي ب- الصلصال المحروق ج- الرمل د- قطع الجلد

4-الرقم الذي يُشير إلى الحضارة التي رسمَت خرائطها وفق أسسٍ علميَّةٍ دقيقةٍ:

أ- (1) ب- (2) ج- (3) د-(4)

5-الهيئة العُمانية التي قامت بمعالجة خريطة الإدريسي وترميمها:

أ-هيئة المعادن ب- هيئة البيئة ج- هيئة الطيران المدني د- هيئة الوثائق والمحفوظات الوطنية

6-المفهوم الذي يُطلق على جزء من محصول الأرض أو مبلغ مالي تحصلُ عليه الدولة من المزارعين مقابل زراعة أراضيها :

أ-خطوط الطول ب- ضريبة الأرض الزراعية ج- دوائر العرض د- علم الخرائط

LIVEWORKSHEETS

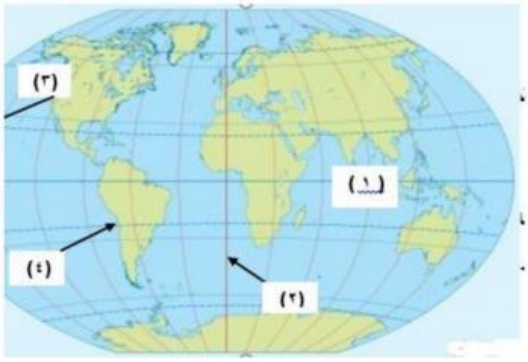

8- الرقم الذي يُشير إلى دائرة الاستواء في الشكل المُقابل:

أ- (1) ب- (2) ج- (3) د- (4)

9-الحضارة التي رَسَمَ شعبها خرائط لمواقع المناجم والطرق المؤدية إليها للبحث عن المعادن:

أ-الرومانية ب- المصرية ج- البابلية د- الإغريقية

10-عدد خطوط الطول:

أ- 90 خط ب- 180 خط ج- 360 خط د- 400 خط

11-الجغرافي المسلم الذي رسمَ خريطة العالم التي أمامك:

أ-المسعودي ب- الإدريسي

ج-المقدسي د-ابن حوقل

12-درجة خط الطول الرئيس (خط غرينتش) تبلغ :

أ- صفر ب- 23.5 ج- 66.5 د- 90

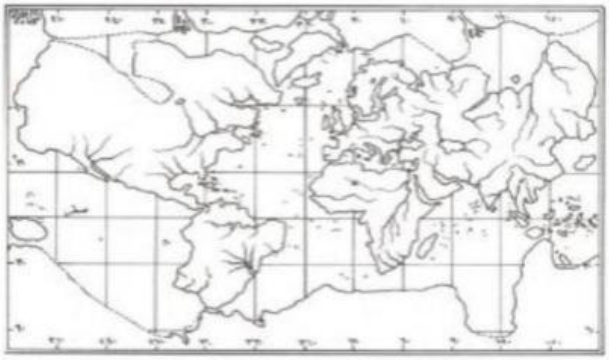

13-الحضارة التي رسمَ شعبها الخريطة المُقابلة:

أ-الإسلامية ب- الإغريقية

ج- المصرية د- الأوروبية

LIVEWORKSHEETS

15-الرقم الذي يُشير إلى الحضارة التي رسمَ شعبُها خرائطهُ على لوحات من الصِلصال المحروق:

أ- (1) ب- (2) ج- (3) د-(4)

16-الفرق الزمني بين كل خط طول والذي يليه:

أ- دقيقتين ب- أربع دقائق ج- نصف ساعة د- ساعة واحدة

17-الملَّاح العُماني صاحب كتاب (الفوائد في أصول علم البحر والقواعد):

أ-سليمان المهري ب- ناصر بن علي الخضوري ج- أحمد بن ماجد د- الإدريسي

18-الرقم الذي يُشير إلى جهة الشمال في خريطة الأرض التي رسمها الجغرافي الإدريسي:

أ-(1) ب-(2)

ج-(3) د-(4)

19-الدائرة العرضية التي يُشير إليها الرمز (ج) :

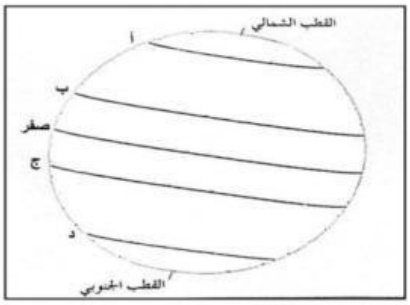

أ- مدار الجدي ب- دائرة الاستواء

ج- مدار السرطان د- الدائرة القطبية الشمالية

LIVEWORKSHEETS

20-عدد خطوط الطول التي تقع شرق خط غرينتش:

أ- 90 خط ب- 100 خط ج- 180 خط ج- 360 خط

21-الدولة التي تحتل المرتبة الثالثة في شبه الجزيرة العربية من حيث المساحة:

أ- سلطنة عُمان ب- اليمن ج- السعودية د- الإمارات

22-الدولة العربية التي تمر بها دائرة الاستواء في الخريطة المُقابلة:

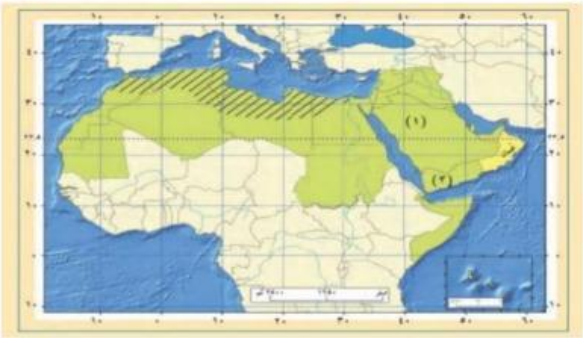

أ-الجزائر

ب- سلطنة عُمان

ج- اليمن

د- الصومال

23-الدولة التي تحتل المرتبة الأولى في شبه الجزيرة العربية من حيث المساحة:

أ-سلطنة عُمان ب- اليمن ج-السعودية د-الإمارات

24-عدد دوائر العرض التي تُحيط بالكرة الأرضية:

أ-90 دائرة ب- 180 دائرة ج- 360 دائرة د- 4 دوائر

25-الدائرة العرضية التي يُشير إليها الرقم (3) في الشكل المُقابل:

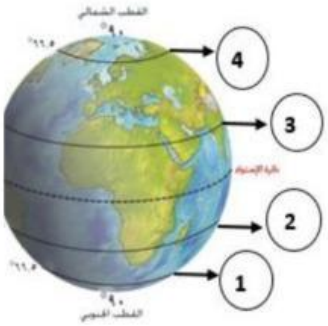

أ-مدار السرطان ب- الدائرة القطبية الجنوبية

ج- مدار الجدي د- الدائرة القطبية الشمالية

26-الشكل الذي يُعبر على أن خطوط الطول تُفيدنا في معرفة التوقيت في العالم:

أ ب ج د

LIVEWORKSHEETS