Nombre y Apellido: _____

Ejercicios de Distribuciones Numéricas

¡Resolvemos!

1. Halla el valor de "X" en cada una de las siguientes distribuciones numéricas (20 pts.)

1)

7	35	5
8	56	7
10	x	9

2)

12	14	26
17	19	36
8	25	x

3)

4	3	24
2	9	36
5	7	x

4)

8	3	5
9	6	1
3	10	x

5)

1	9	100
2	5	49
11	1	x

6)

3	4	5	17
2	8	6	22
4	9	0	x

LIVEWORKSHEETS

Nombre y Apellido: _____

7)

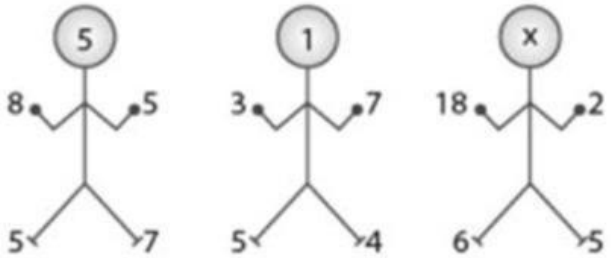

8)

9)

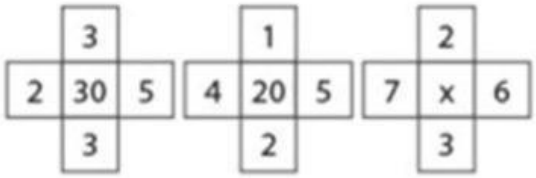

10)

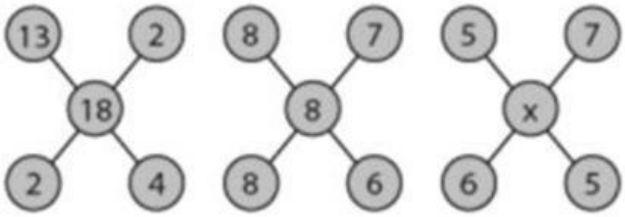

LIVEWORKSHEETS