Repaso de fracciones

1.- Escribe en cada caso la fracción que representa la parte sombreada:



2.- Escribe la fracción que representa cada porción:

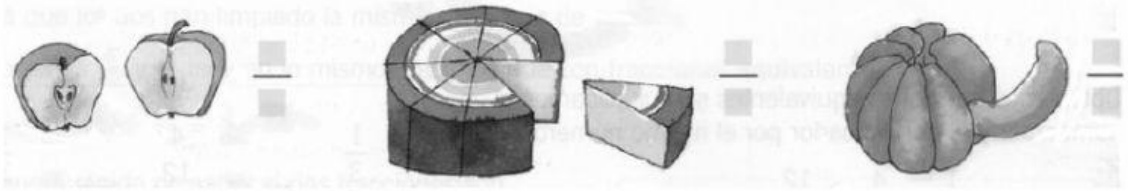

3.- Escribe en cada caso la fracción que representa la parte sombreada:

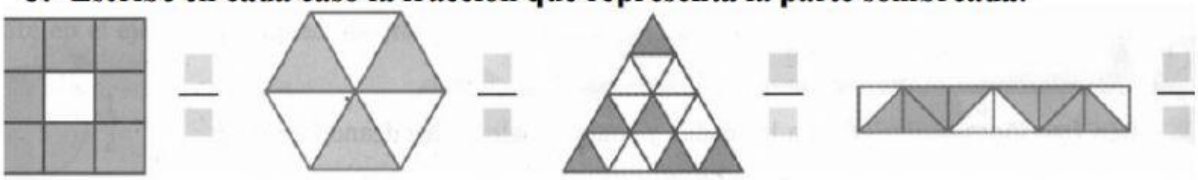

11.- Rodea con un círculo los números mayores que la unidad.

$\frac{3}{5}$ $\frac{4}{3}$ $\frac{4}{7}$ $\frac{1}{6}$ $\frac{5}{6}$ $\frac{7}{6}$

12.- Calcula

$\frac{12}{2}$ = ___ : ___ = ___ $\frac{18}{3}$ = ___ : ___ = ___ $\frac{27}{3}$ = ___ : ___ = ___ $\frac{36}{36}$ = ___ : ___ = ___

17.- Multiplicando en cruz señala cuáles de las siguientes parejas de fracciones son equivalentes.

$\frac{3}{4}$ y $\frac{6}{8}$ $\frac{2}{5}$ y $\frac{1}{2}$ $\frac{4}{8}$ y $\frac{3}{6}$

LIVEWORKSHEETS

18.- Señala, en cada grupo, la fracción que no es equivalente a las otras dos:

$\frac{2}{4}$ $\frac{4}{8}$ $\frac{8}{4}$	$\frac{3}{5}$ $\frac{4}{9}$ $\frac{6}{10}$
$\frac{1}{3}$ $\frac{2}{5}$ $\frac{4}{10}$	$\frac{2}{3}$ $\frac{4}{9}$ $\frac{4}{6}$

19.- Escribe 5 fracciones equivalentes a cada una de las siguientes:

Por amplificación	Por simplificación
$\frac{2}{3} =$	$\frac{90}{90} =$
$\frac{1}{4} =$	$\frac{24}{36} =$
$\frac{6}{5} =$	$\frac{80}{100} =$

21.- Escribe la fracción que representa la parte sombreada de cada círculo.

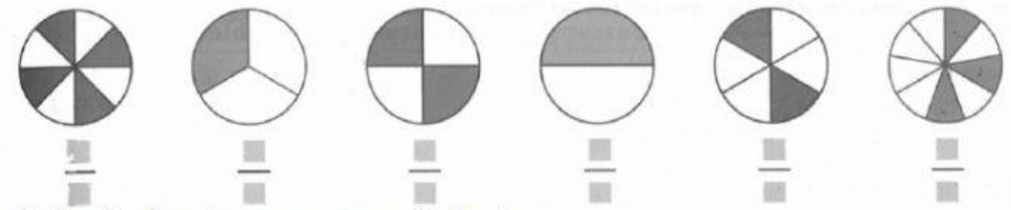

Indica las fracciones que son equivalentes.

22.- Compara los siguientes números:

$\frac{3}{5}$ $\frac{2}{5}$ $\frac{3}{7}$ $\frac{3}{9}$ $\frac{2}{6}$ $\frac{5}{6}$ $\frac{5}{10}$ $\frac{5}{12}$ $\frac{7}{10}$ $\frac{5}{10}$ $\frac{5}{6}$ $\frac{5}{6}$

23.- Ordena estos números de menor a mayor:

$\frac{2}{7}$, $\frac{8}{7}$ y $\frac{1}{7}$

$\frac{3}{4}$, $\frac{3}{8}$ y $\frac{3}{9}$

24.- Compara los siguientes números:

$\frac{3}{10}$, $\frac{4}{9}$

$\frac{2}{3}$, $\frac{3}{4}$

$\frac{5}{7}$, $\frac{6}{9}$

$\frac{7}{3}$, $\frac{11}{5}$

LIVEWORKSHEETS