LEMBAR KERJA PESERTA DIDIK (LKPD)

PELAJARAN : MATEMATIKA

MATERI : BANGUN DATAR

NAMA :

KELAS :

A. Cermati video pembelajaran berikut ini

B. Kerjakan soal-soal berikut ini

1. Bangun datar yang dibentuk oleh 2 pasang sisi yang masing-masing sama panjang dan sejajar serta memiliki 4 buah sudut siku-siku disebut....
   a. Lingkaran
   b. Belah ketupat
   c. Persegi
   d. Persegi panjang

2. Perhatikan gambar berikut

   Nama bangun disamping adalah
   a. Jajar genjang
   b. Belah ketupat
   c. Lingkaran
   d. Persegi

3. Isilah nama yang sesuai dengan nama bangun datar berikut

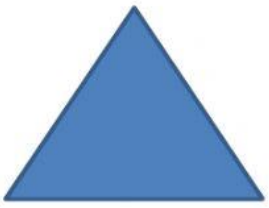



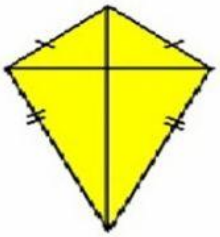

LIVEWORKSHEETS

4. **Jodohkan dengan menarik garis pada jawaban yang benar !**

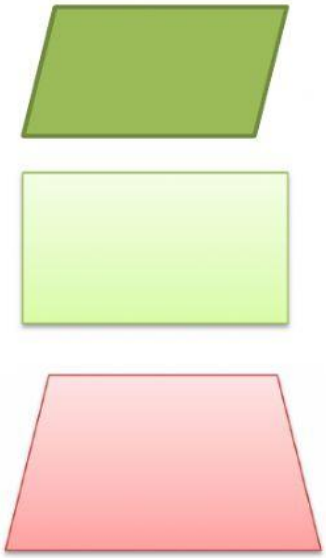

Jajar genjang

Persegi Panjang

persegi

Trapesium

5. Tariklah rumus luas bangun datar sesuai dengan gambar berikut !

Bangun datar **Rumus luas**

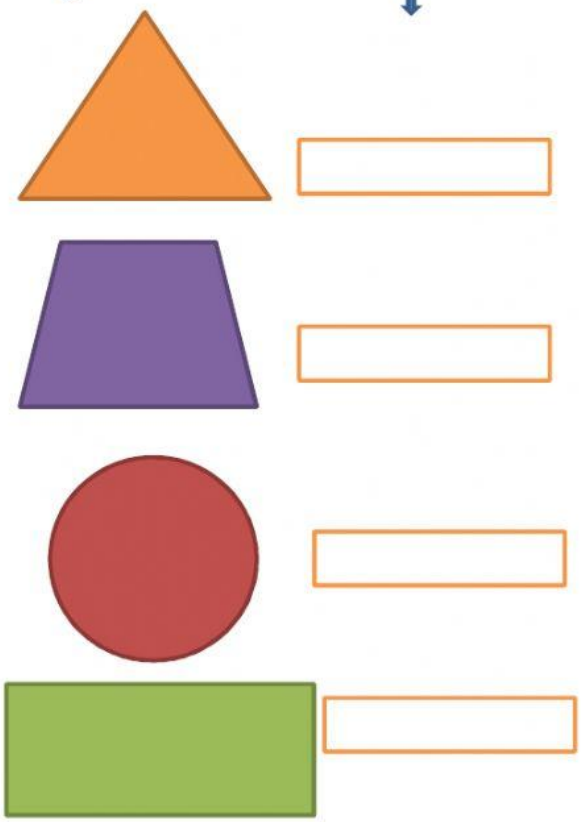

L = ½ x a x t

L = πr2

L = P x l

L = s x s

L=1/2 x Jml sisi sejajar x tinggi

SELAMAT MENGERJAKAN,TERIMA KASIH

LIVEWORKSHEETS