Прізвище, ім'я Клас

Практична робота №4.

Визначення географічної широти та географічної довготи позначених на карті об'єктів

Завдання 1. За контурною картою світу визнач географічну широту точок, для цього перетягни правильні відповіді до точки

60⁰ пн.ш.	**60⁰ пд.ш.**	**30⁰ пн.ш.**	**20⁰ пд.ш.**	**10⁰ пд.ш.**	**10⁰ пн.ш.**

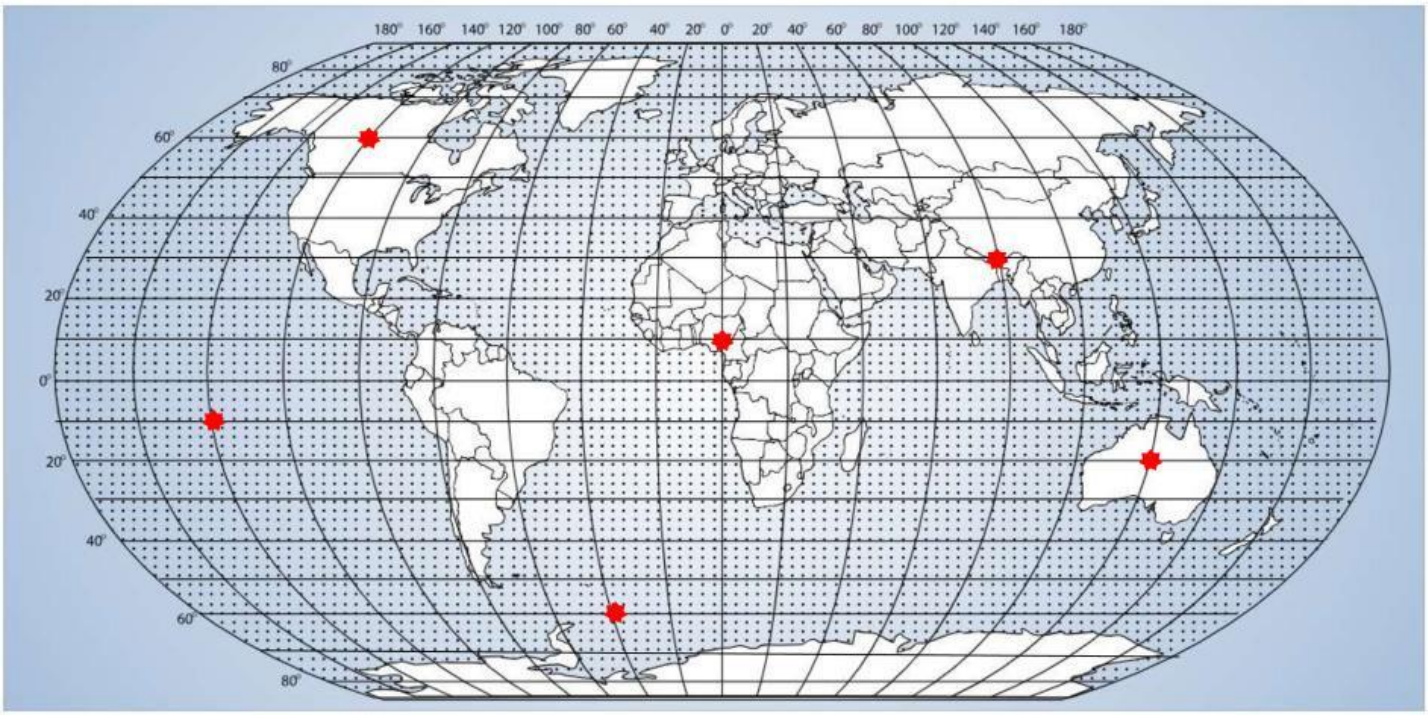

Завдання 2. За контурною картою світу визнач географічну довготу точок, для цього перетягни правильні відповіді до точки

120⁰ зх.д.	**120⁰ сх.д.**	**140⁰ зх.д.**	**80⁰ сх.д.**	**40⁰ зх.д.**	**0⁰ д.**

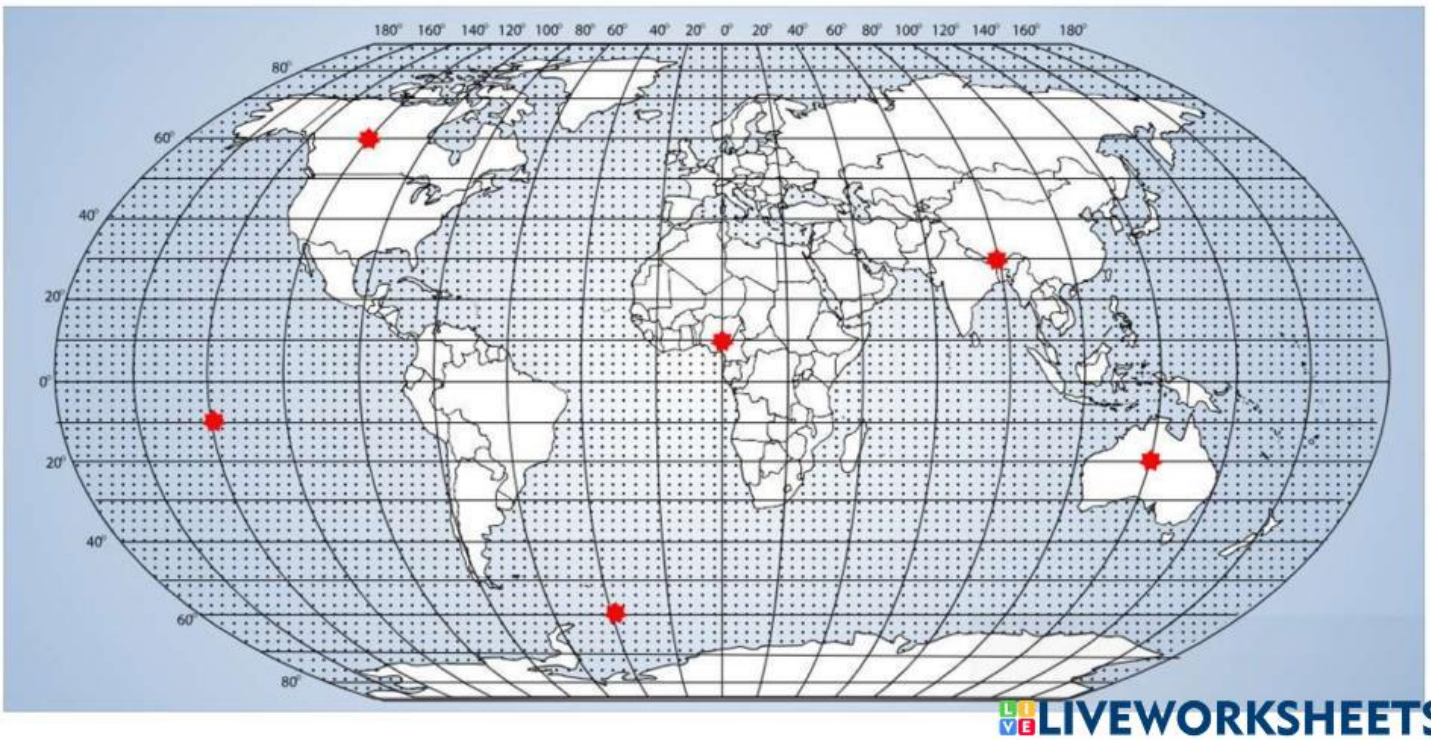

LIVEWORKSHEETS

Завдання 3. За контурною картою світу визнач географічні об'єкти за їх координатами, для цього з'єднай точки на карті з відповідними координатами в прямокутниках

30⁰ пд.ш. 20⁰ сх.д.	**70⁰ пн.ш. 60⁰ зх.д.**	**10⁰ пн.ш. 140⁰ сх.д.**	**10⁰ пд.ш. 80⁰ зх.д.**	**60⁰ пн.ш. 80⁰ сх.д.**	**40⁰ пн.ш. 120⁰ зх.д.**

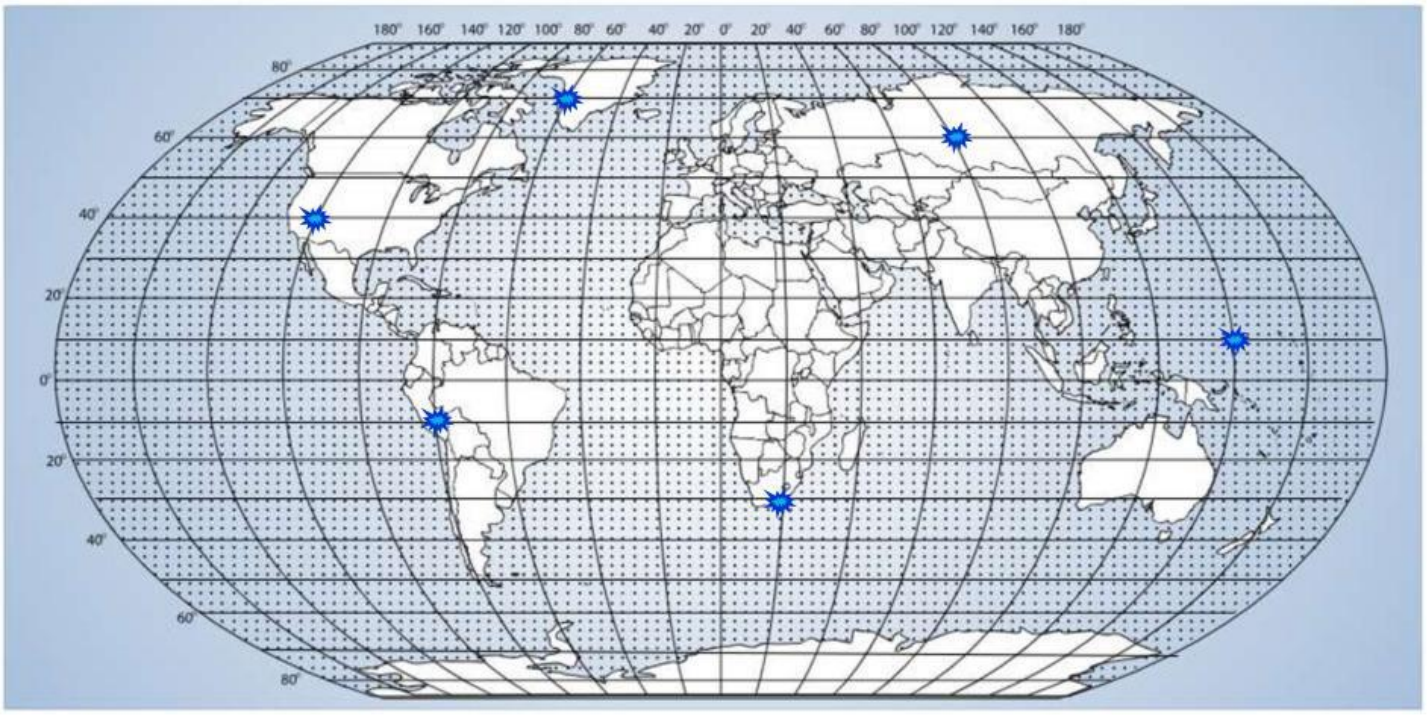

2.2. За контурною картою світу визнач географічні координати точок, для цього перетягни правильні відповіді до точки

70⁰ пн.ш.	**120⁰ сх.д.**	**60⁰ пн.ш.**	**60⁰ зх.д.**	**20⁰ пн.ш.**	**40⁰ зх.д.**
0⁰ ш.	**0⁰ д.**	**30⁰ пд.ш.**	**50⁰ пд.ш.**	**160⁰ зх.д.**	**60⁰ сх.д.**

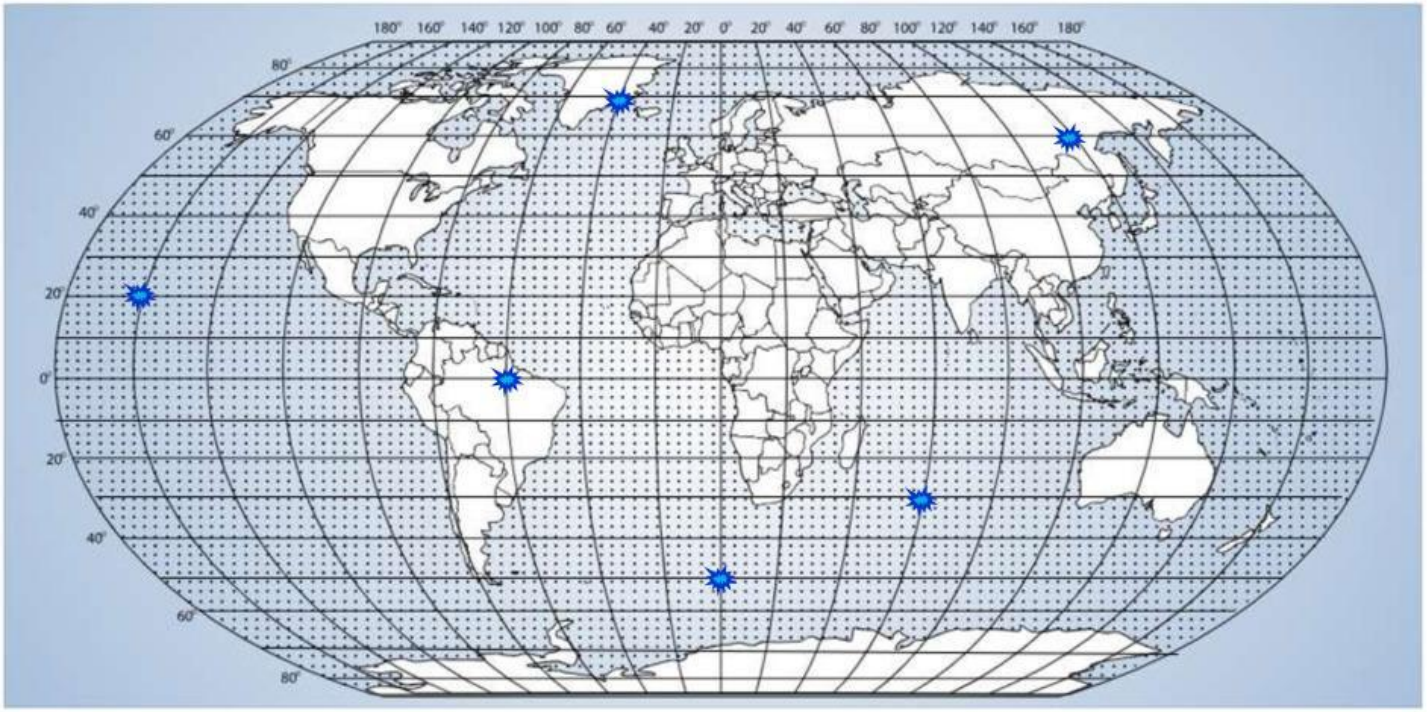

LIVEWORKSHEETS