Lớn thầy Sĩ

LỚP THẦY SĨ
LỚP 3.6

BÀI TẬP TOÁN HÀNG NGÀY
Tên bài: Bài 18. Góc, góc vuông, góc không vuông

Số: 18/BTTHN-LTS **(nội dung ôn tập)**

Tên:……..

Bài 1 Dùng ê ke xác định, điền dấu (✔) vào ô trống dưới những góc vuông.



Bài 2 Dùng ê ke để xác định góc vuông và góc không vuông.

a. Chọn tên đỉnh, cạnh các góc không vuông:

Góc đỉnh A, cạnh AE và AB	Góc đỉnh E, cạnh EA và ED
Góc đỉnh B, cạnh BA và BC	Góc đỉnh D, cạnh DE và DB
Góc đỉnh B, cạnh BD và BC	Góc đỉnh C, cạnh CB và CD

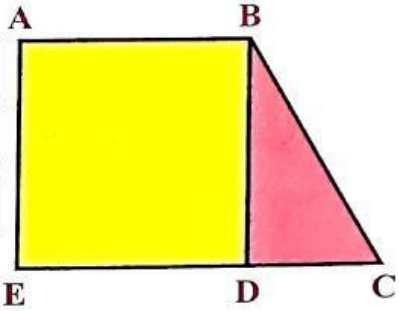

b. Chọn tên đỉnh, cạnh các góc vuông:

Góc đỉnh A, cạnh AE và AB	Góc đỉnh E, cạnh EA và ED
Góc đỉnh B, cạnh BA và BC	Góc đỉnh D, cạnh DE và DB
Góc đỉnh B, cạnh BD và BC	Góc đỉnh D, cạnh DB và DC

Bài 3 Dùng ê ke để xác định góc vuông và góc không vuông.

Chọn tên đỉnh, cạnh các góc vuông:

Góc đỉnh M, cạnh MN và MQ
Góc đỉnh N, cạnh NM và NQ
Góc đỉnh P, cạnh PN và PQ
Góc đỉnh Q, cạnh QM và QP

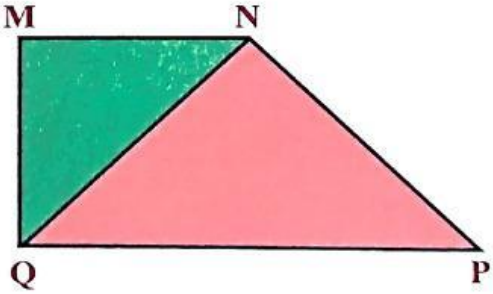

LIVEWORKSHEETS