

Прізвище ім'я _____ *Клас* _____

Чому бувають землетруси та відбувається виверження вулканів

1. Розгляньте схему землетрусу та визначте, що означає кожна цифра:

(оберіть вірну відповідь)

1 - _____

2 - _____

3 - _____

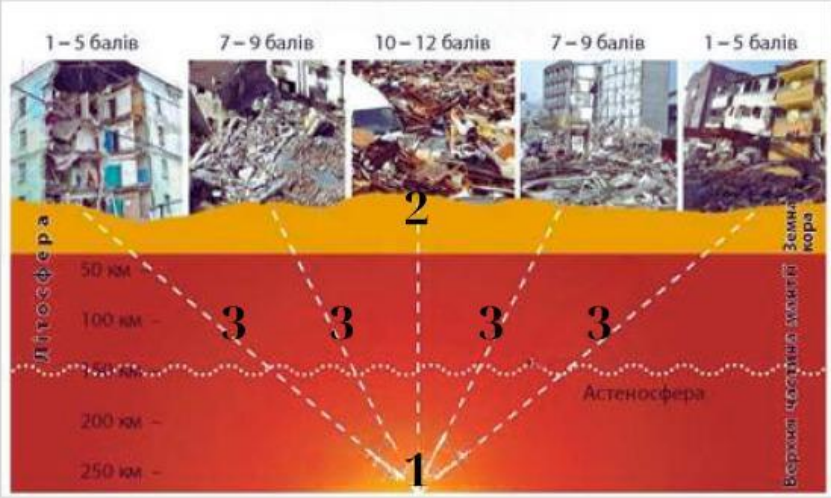

2. Дайте визначення приладу (*використайте слова з переліку*):

прилад, хвилі навіть який сейсмічні вимірювальний найслабкіші реєструє

Сейсмограф - це _____ _____ _____ _____ _____ _____ _____ _____ .

3. Встановіть відповідність між цифрами на малюнку та назвами:
(з'єднайте цифри з потрібними назвами):

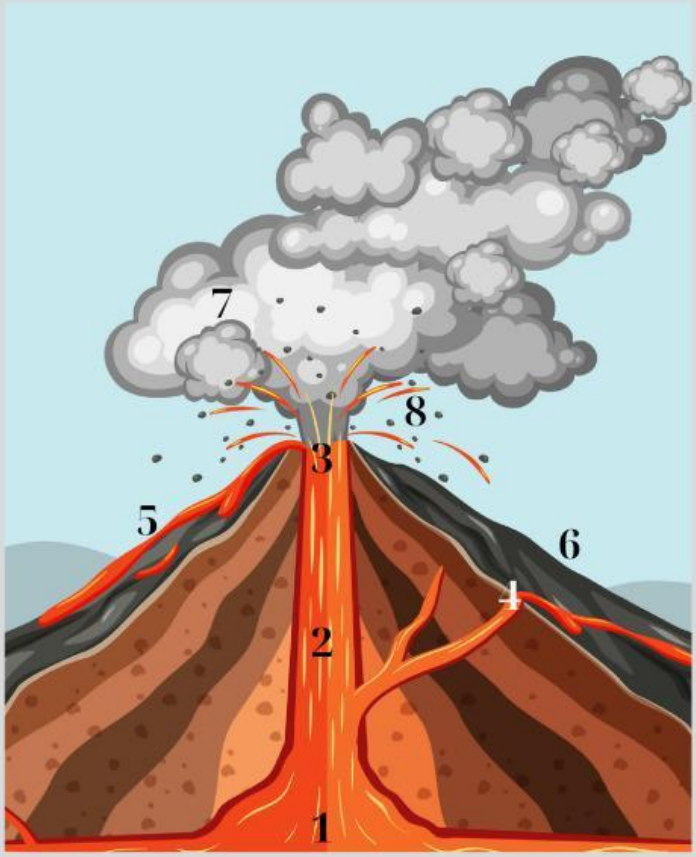

Конус вулкана

Вогнище магматизму

Вулканічні бомби

Кратер

Потоки лави

Вулканічний попіл

Жерло

Бічний кратер

LIVEWORKSHEETS