РОЗВ'ЯЗУЄМО ЗАДАЧІ НА ЗНАХОДЖЕННЯ СУМИ

Рахуй швидко!

15+4=	12+50=	48+40=
26-5=	24+4=	97-6=
83-60=	78-50=	18-4=
75-4=	36+23=	13+6=

1 Закінчи заповнення таблиці. Запиши, скільки кнопок і гумок. Склади усно задачі про ці предмети.

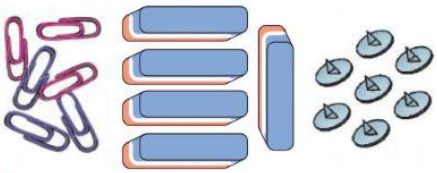

	6

2 Прочитай і зістав задачі. Добери до кожної задачі схеми й доповни їх.

1) Марійка принесла 8 цибулин тюльпанів, Вітя — 7, а Сашко — 9. Скільки всього цибулин тюльпанів принесли учні?

а)

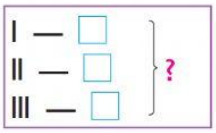

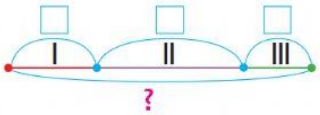

Скільки всього цибулин тюльпанів принесли учні?

2) Марійка принесла 8 цибулин тюльпанів, а Вітя на 1 менше, ніж Марійка. Сашко приніс 9 цибулин. Скільки всього цибулин тюльпанів принесли діти?

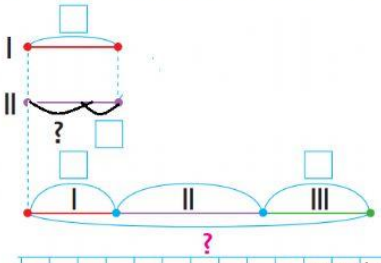

б)

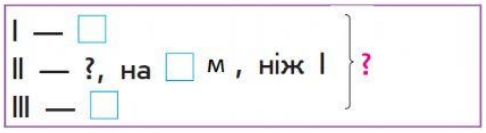

Розв'язання

1) - = ( ) - Вітя

2) + = ( ) - Вітя і Марійка

3) + = ( ) *всього*

Відповідь:

3 Прочитай задачу. Поясни, як скласти до неї короткий запис.



Учні садили тюльпани. Славко посадив 7 цибулин, а Юля — на 2 цибулини менше, ніж Славко. Миколка посадив 8 цибулин. Скільки всього цибулин посадили діти?

Прокоментуй міркування за схемами. Доповни схеми.

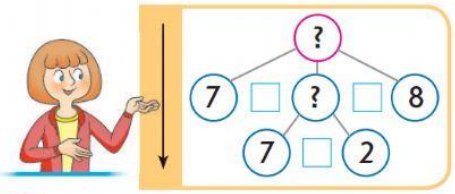

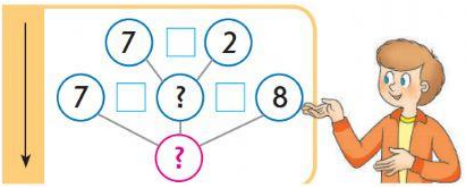

4 Знайди значення виразів, міркуючи за схемами.

73 − 65 = . . − . = .
60 + .

58 + 24 = . . + . = . .
20 + .

73 − 65 = . . − . = .
63 + .

58 + 24 = . . + . . = . .
2 + . .

LIVEWORKSHEETS