# Bangun Datar Layang-layang

ADIRA SALWA OCTAVIA
210401140102
PGSD C2021

LIVEWORKSHEETS

# Tujuan Pembelajaran

1. Peserta didik dapat menyebutkan sifat-sifat bangun layang-layang dengan benar.
2. Peserta didik dapat menemukan rumus keliling bangun layang-layang dengan mandiri dan kritis.
3. Peserta didik dapat menemukan rumus luas bangun layang-layang dengan mandiri dan kritis.

LIVEWORKSHEETS

**Nama : .....**

**Kelas : .....**

LIVEWORKSHEETS

# Bangun Layang-layang

Layang-layang adalah segiempat dengan dua pasang sisi-sisi yang berdekatan sama panjang.

Berikut adalah contoh sebuah layang-layang

LIVEWORKSHEETS

# AKTIVITAS 1

## Sifat-sifat bangun Layang-layang

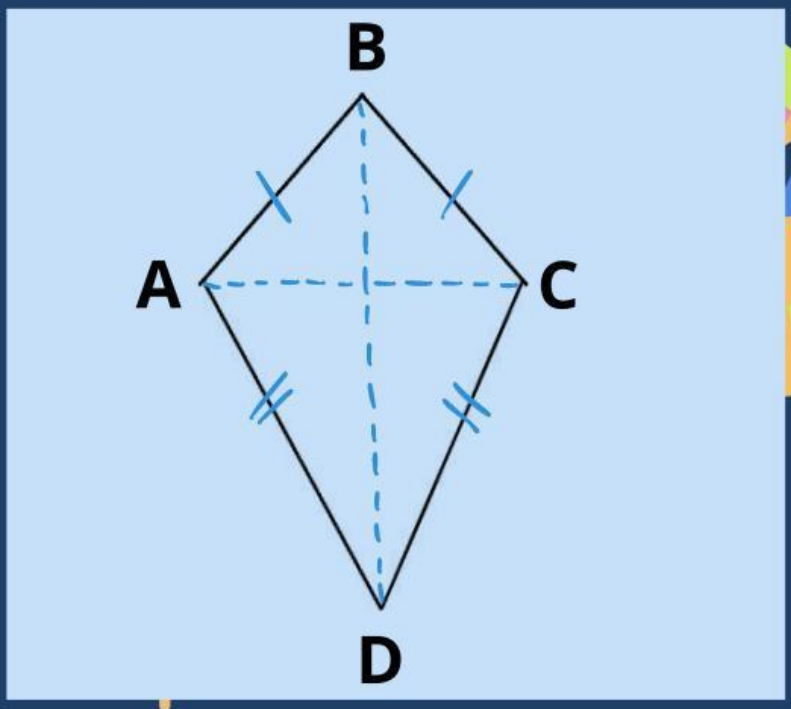


1. Memiliki empat buah sisi yaitu :

2. Memiliki 4 sudut yaitu

LIVEWORKSHEETS

3. Memiliki dua diagonal bidang berpotongan dan saling tegak lurus yaitu

AC ⊥

4. Memiliki 1 Simetri lipat yaitu segitiga

DAB =

LIVEWORKSHEETS

# AKTIVITAS 2

## Ayo menemukan!

1. Perhatikanlah gambar bangun layang-layang dibawah ini!

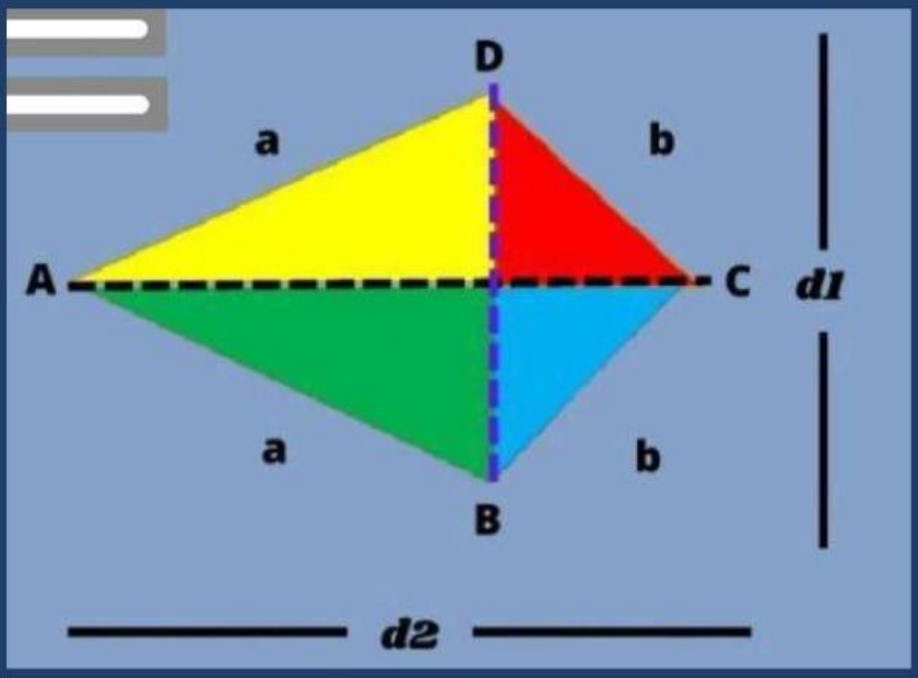


LIVEWORKSHEETS

2. Perhatikanlah! Bangun layang-layang ini dapat dibagi menjadi 4 bagian yang berbentuk segitiga

LIVEWORKSHEETS

3. lalu perhatikan ternyata sisi layang-layang yang berbentuk segitiga ini dapat memenuhi bangun lain. Bangun apakah yang terbentuk?

LIVEWORKSHEETS

4. berdasarkan hasil pengamatan, tentukanlah panjang dan lebar persegi panjang yang terbentuk dari potongan sisi layang-layang tersebut.

LIVEWORKSHEETS

5. Berdasarkan penemuan tersebut, tentukanlah rumus keliling bangun layang-layang!

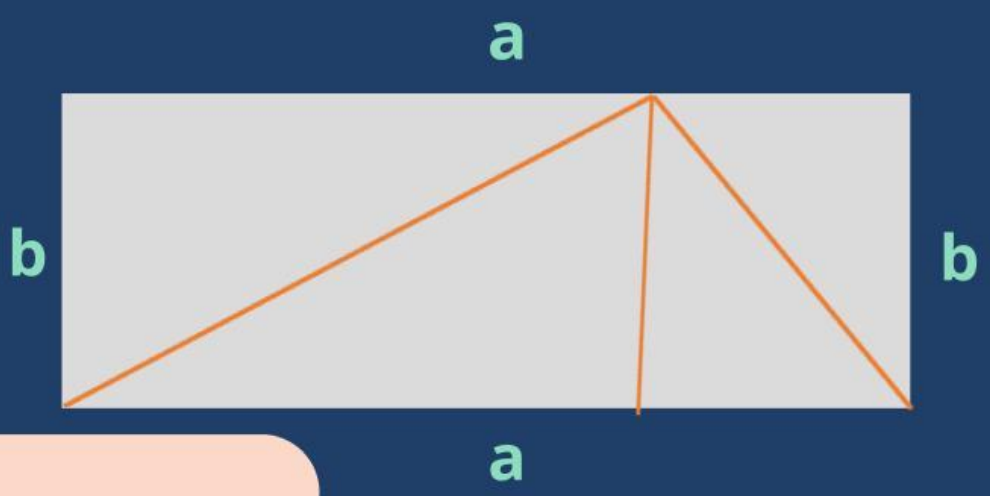


**Keliling persegi panjang = keliling layang-layang**

[ ] + [ ] + [ ] + [ ] = [ ] + [ ] + [ ] + [ ]

[2] x ( [ ] + [ ] ) = [2] x ( [ ] + [ ] )

**jadi, keliling layang-layang adalah.....**

[2] x ( [ ] + [ ] )

LIVEWORKSHEETS

# AKTIVITAS 3

## Ayo selesaikan!

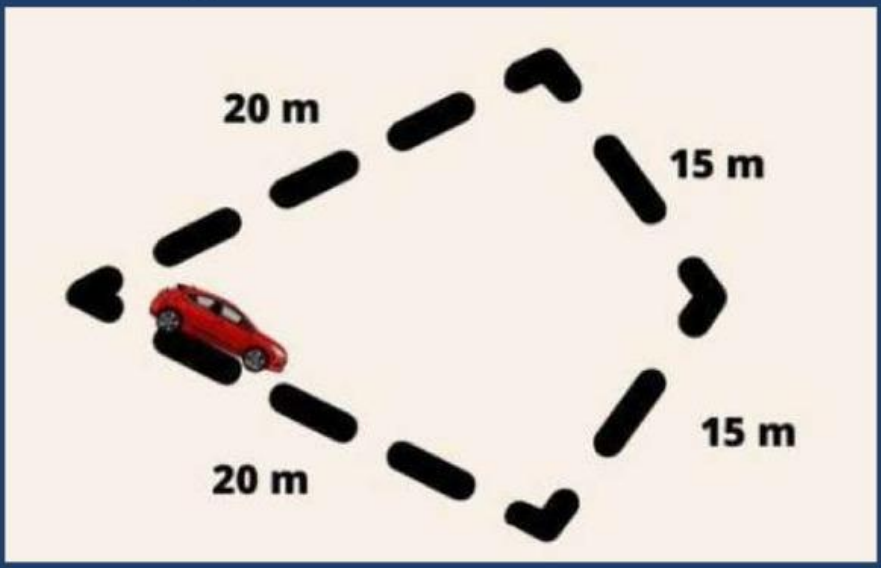


Natan mengikuti balapan yang memiliki lintasan berbentuk layang-layang yang memiliki ukuran sisi panjang 20 m dan sisi pendek 15 m. Jika Natan mengelilingi lapangan sebanyak 5 kali, maka jarak lintasan yang ditempuh oleh Natan adalah.....m2

.....

.....

.....

.....

.....

LIVEWORKSHEETS

# AKTIVITAS 4

## Ayo selesaikan!

Hitunglah keliling layang-layang yang sisi sama panjangnya 13 cm dan 37 cm!

.....

.....

.....

.....

.....

.....

LIVEWORKSHEETS

# AKTIVITAS 5

## Ayo menemukan!

1. Perhatikanlah gambar bangun layang-layang dibawah ini. Dengan kegiatan penemuan keliling layang-layang di atas, temukan luas layang-layang dengan menggunakan kembali pendekatan persegi panjang tersebut!

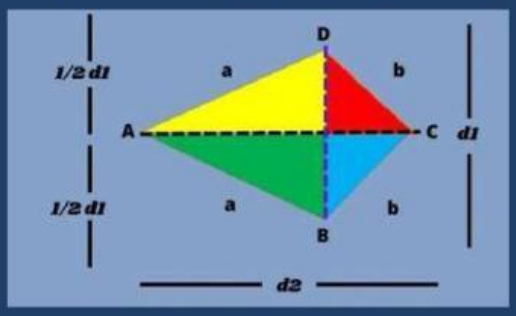


2. Setelah memenuhi persegi panjang seperti percobaan di atas, tentukanlah diagonal layang-layang setelah menjadi bangun persegi panjang!

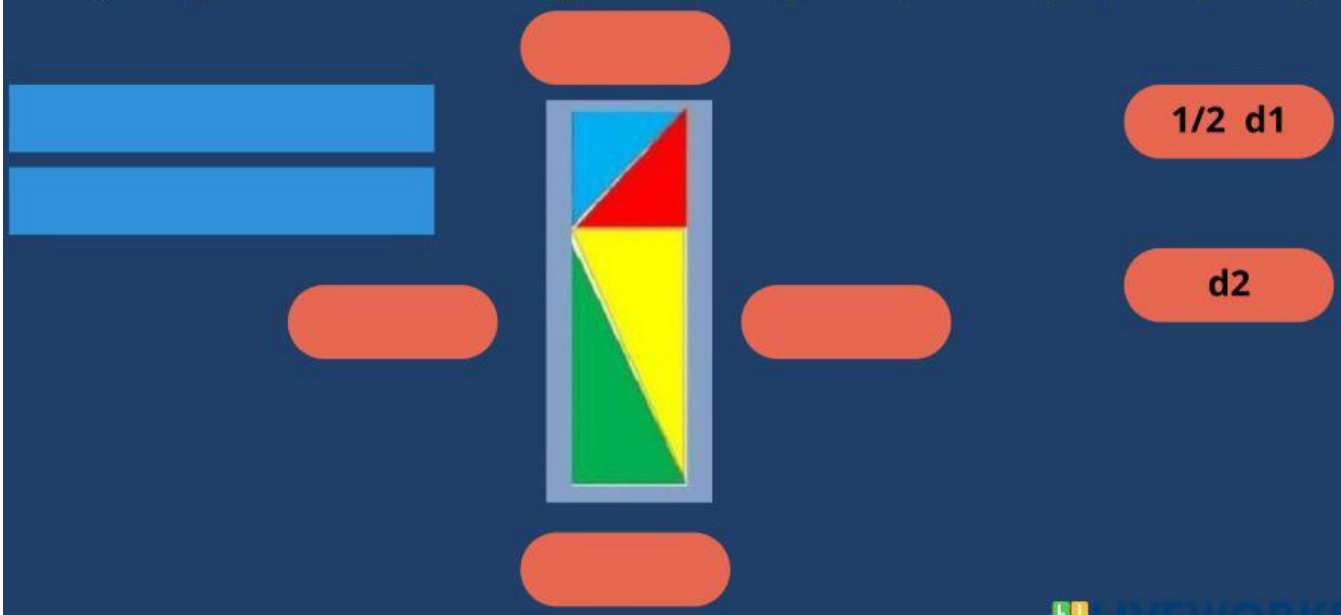


LIVEWORKSHEETS

# AKTIVITAS 6

## Ayo Menemukan!

3. Temukan rumus Luas layang-layang berdasarkan rumus Luas persegi panjang yang sudah diketahui!

**Luas persegi panjang = Luas layang-layang**

p x l = ____ x ____

**Jadi, rumus dari luas layang-layang adalah....**

L = ____ . ____ x ____

LIVEWORKSHEETS