CIP Chimali

CENTRO INTEGRAL DE PSICOLOGÍA, CHIMALI

Instrucciones: Resuelve las siguientes circunferencias en tu cuaderno; si tienes duda pregúntale a tu profesor.

1.- Encuentra la longitud del perímetro de un círculo que tiene un radio de 8 m.



P=

2.- Si es que un círculo tiene un radio de 5 cm, ¿cuál es su área?



A=

3.- Encuentra el perímetro de un círculo que tiene un radio de 13 mm.



P=

4.- Encuentra el área de un círculo que tiene un radio de 12 mm.

A=

LIVEWORKSHEETS