***Виконай* завдання.**

1. *Познач* малюнок, зафарбована частина якого відповідає числу $\frac{3}{7}$.

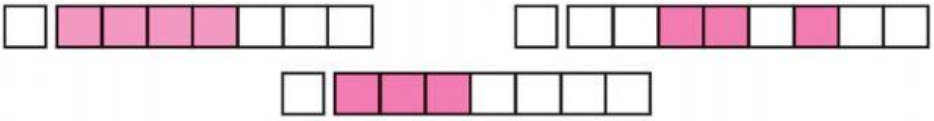

2. *Познач* дроби, які відповідають жовтій частині круга.

☐ $\frac{8}{2}$ ☐ $\frac{2}{6}$ ☐ $\frac{2}{8}$ ☐ $\frac{1}{4}$

3. *Познач* рівність, складену за умовою: $\frac{1}{2}$ від 8.

☐ $8 \cdot 2 = 16$ ☐ $8 : 2 = 4$ ☐ $8 : 2 = 6$

4. *Порівняй* числа.

$\frac{1}{9}$ ☐ $\frac{1}{7}$ $\frac{1}{8}$ ☐ $\frac{3}{8}$ $\frac{1}{6}$ ☐ 1

5. *Розв'яжи* задачу.

Для класної бібліотечки діти виготовили 24 книжки-саморобки. Чверть цих книжок була про тварин. Скільки книжок про тварин виготовили діти?

Познач правильний вираз для знаходження кількості книжок про тварин:

24-4 24:2 24:4

Скільки інших книжок виготовили діти?

Запиши розв'язання задачі двома діями

1)

2)

Вираз:

Відповідь: діти виготовили інших книжок.

6. *Познач* групу фігур, у якій $\frac{1}{6}$ всіх фігур становлять жовті кружечки.

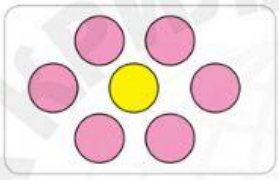

☐

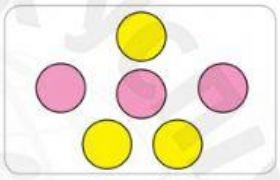

☐

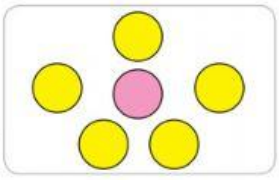

☐

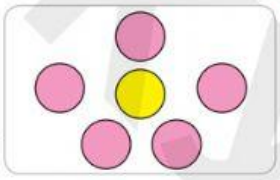

☐