1. 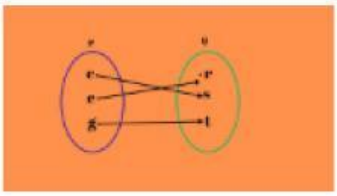

Nyatakan jenis hubungan antara set P dan set Q

A Satu kepada satu

B Banyak kepada banyak

C Satu kepada banyak

D banyak kepada satu

2. 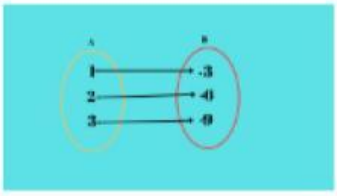

Nyatakan Jenis Hubungan antara set A kepada set B

A Banyak kepada Satu

B Satu kepada Banyak

C Satu kepada Satu

D Banyak kepada Banyak

3. 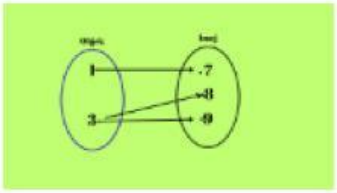

Adakah hubungan ini Fungsi atau Bukan Fungsi

A Bukan Fungsi

B Fungsi

4. Pada pemetaan {(-2,3), (2,5), (-1,6), (4,2), (5,4)} domainnya adalah....

A {-3, -2, -1, 0, 1, 2, 3, 4, 5, 6}

B {2, 3, 4, 5, 6}

C {0, 2, 3, 5, 6}

D {-2, -1, 2, 4, 5}

E {-3, -1, 2, 3, 4, 5}

5. Input juga di kenali sebagai ....

A Domain

B Julat

C Kodomain

LIVEWORKSHEETS

6. Output juga di kenali sebagai ....

A Domain

B Julat

C Kodomain

7. Hubungan berikut yang merupakan Fungsi adalah ....

A Pelajar kepada rakan-rakannya

B Pelajar kepada hobinya

C Pelajar kepada Tarikh lahirnya

D Pelajar kepada subjek kegemarannya

LIVEWORKSHEETS