БЪЛГАРИЯ - КЛИМАТ И ВОДИ

1. Характеризирайте климатичните области – умереноконтинентална и континентално-средиземноморска, като попълните таблицата.

Вижте климатограмите на стр. 28-29 в учебника или приложени в края на листа.

Правило за характеризиране	Основни характеристики		Сравнение - прилики / разлики	
	умерено-континентална - *ст. Плевен*	континентално-средиземноморска – *ст. Сандански*	умерено-континентална	континентално-средиземноморска
1. Обхват и граници на климатичната област				
2. Основни фактори за формиране на климата в областта				
3. Средномесечни температури за януари				
4. Средномесечни температури за юли				
5. Годишна температурна амплитуда				
6. Средногодишна температура				
7. Максимум валежи и месец				
8. Минимум валежи и месец				
9. Режим: равномерно или неравномерно разпределени валежи				
10. Годишна сума валежи				
11. Посока на преобладаващите ветрове				
12. Данни за снежна покривка, облачност и неблагоприятни климатични явления				

LIVEWORKSHEETS

2. Запишете за коя климатична област се отнасят следните характерни черти на климата.

1	2	3	4	5
умерено-континентална	преходна	континентално-средиземноморска	черноморска	планинска

А) обхваща територия с надморска височина над 1000 м;		
Б) има дебела снежна покривка;		
В) измерени са най-ниските средногодишни температури;		
Г) снежната покривка се задържа 6 – 7 месеца;		
Д) измерена е най-ниската температура за България;		
Е) измерена е най-високата температура у нас;		
Ж) има два валежни максимума и минимума;		
З) най-висока средногодишна температура в страната;		
И) горещо лято и студена зима;		
Й) духат североизточни ветрове през зимата;		
К) през лятото духат бризите;		
Л) температурата спада за сметка на валежи и ветрове		
М) има влияние до 30 км във вътрешността на страната;		

3. Представете си, че по Закона за връщане на земите у нас получавате 100 дка земя около следните станции. Каква стопанска дейност, съобразена с климата, ще развиете?

ст. Плевен	1	2	3	4	5	6	7	8	9	10	11	12	13	14
ст. Русе	1	2	3	4	5	6	7	8	9	10	11	12	13	14
ст. Варна	1	2	3	4	5	6	7	8	9	10	11	12	13	14
ст. Пловдив	1	2	3	4	5	6	7	8	9	10	11	12	13	14
ст. Сандански	1	2	3	4	5	6	7	8	9	10	11	12	13	14
ст. Черни връх	1	2	3	4	5	6	7	8	9	10	11	12	13	14

1. Ще отглеждам зърнени култури.
2. Ще засадя овощна градина.
3. Ще отглеждам лозя.
4. Ще засадя дини и пъпеши.
5. Ще добивам дървен материал.
6. Ще построя ферма за отглеждане на овце и кози.
7. Ще построя хотел за планински туризъм.
8. Ще построя ски-влек.
9. Ще направя цех за събиране на билки и гъби.
10. Ще отглеждам тютюн.
11. Ще построя оранжерия за ранни зеленчуци.
12. Ще продам земята.
13. Ще отглеждам захарно цвекло.
14. Ще построя вятърна мелница в помощ на стопанството ми.

LIVEWORKSHEETS

4. Свържете града с климатичната област, от която е:

А) Русе	**1)** преходно-континентална област
Б) Пазарджик	**2)** средиземноморска област
В) Несебър	**3)** умерено-континентална област
Г) Габрово	**4)** черноморска област
Д) Сандански	**5)** планинска област

5. Свържете града с реката, която протича през него:

А) Монтана	**1)** р. Янтра
Б) Плевен	**2)** р. Огоста
В) Ловеч	**3)** р. Осъм
Г) Пловдив	**4)** р. Вит
Д) Велико Търново	**5)** р. Марица

6. Сравнете водните ресурси на България с тези на други европейски страни.

България има ..... водно богатство, разпределено ..... както по територия, така и на глава от населението.

Най-запасени с водни ресурси на глава от населението са страните: ....., ..., ..., ..., ...

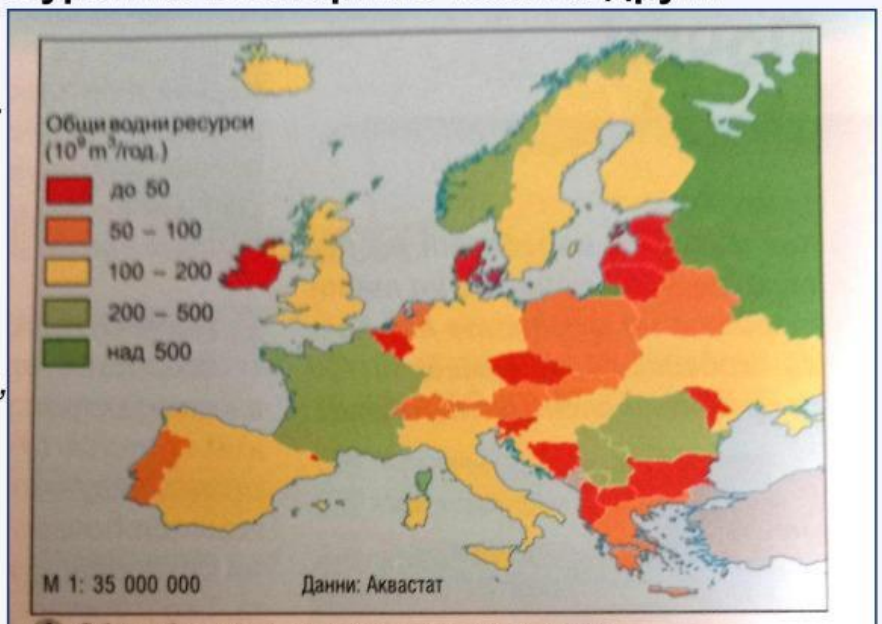

1 Общ обем на водни ресурси на страните

2 Разпределение на водните ресурси на човек от населението

LIVEWORKSHEETS

7. Определете в кои климатични области протичат реките:

А) р. Струма

умерено-континентална **преходна** **континентално-средиземноморска** **черноморска** **планинска**

Б) р. Огоста

умерено-континентална **преходна** **континентално-средиземноморска** **черноморска** **планинска**

В) р. Велека

умерено-континентална **преходна** **континентално-средиземноморска** **черноморска** **планинска**

8. Направете кратка характеристика на река Струма. Определете периодите на маловодие и пълноводие в зависимост от климатичните особености на водосборния басейн.

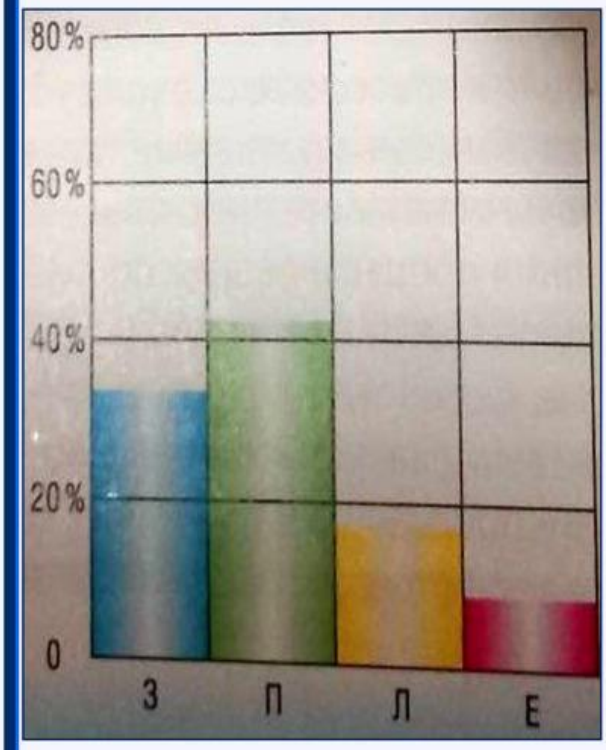

Река Струма извира от ..... .

Влива се в: ..... .

Особеност: .....

Посока на протичане: .....

Тече през климатичните области:

.....

Пълноводие през: .....

Причина: .....

Маловодие през: .....

Причина: .....

Значение: .....

9. Съотнесете хидрограмите към трите реки - свържете:

р. Струма **р. Огоста** **р. Велека**

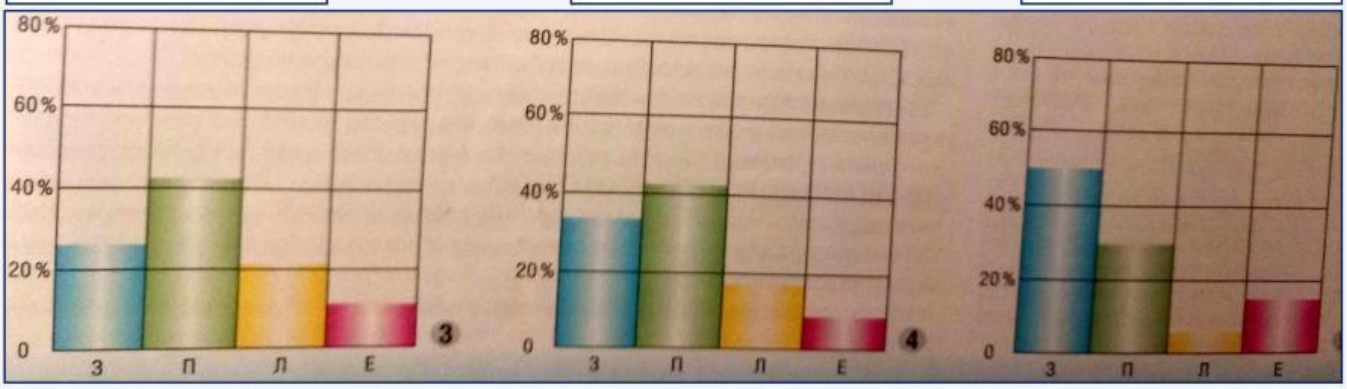

LIVEWORKSHEETS

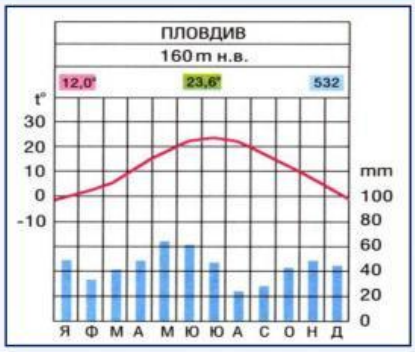

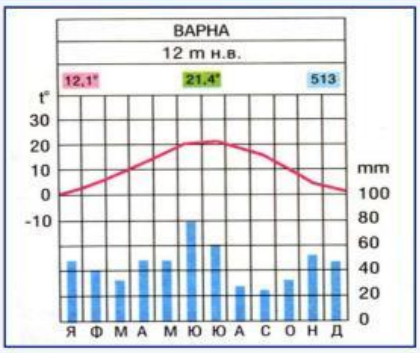

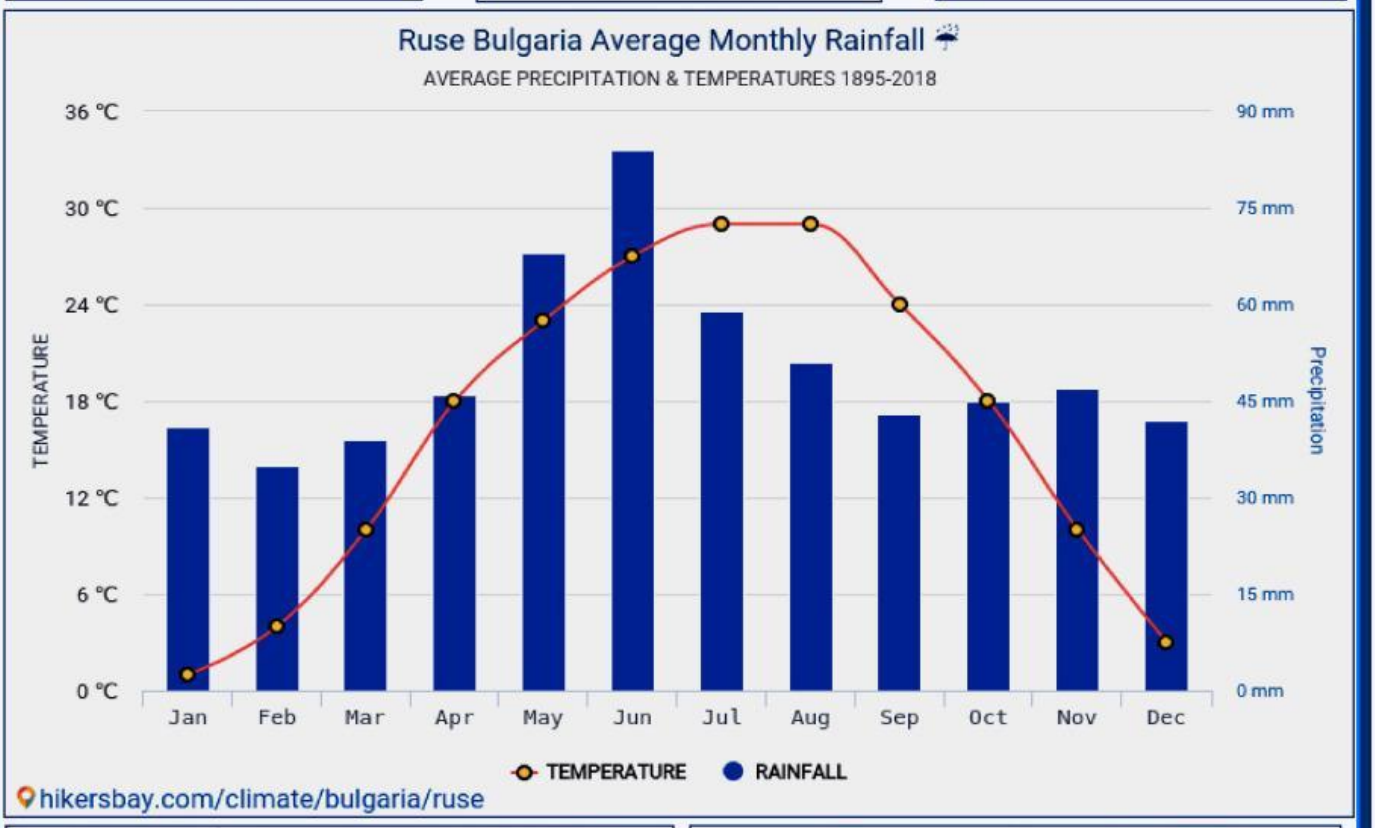

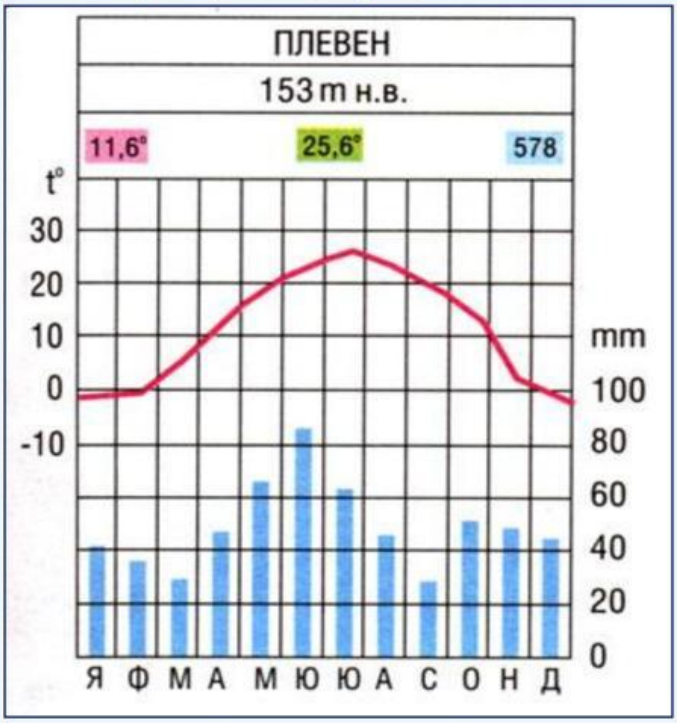

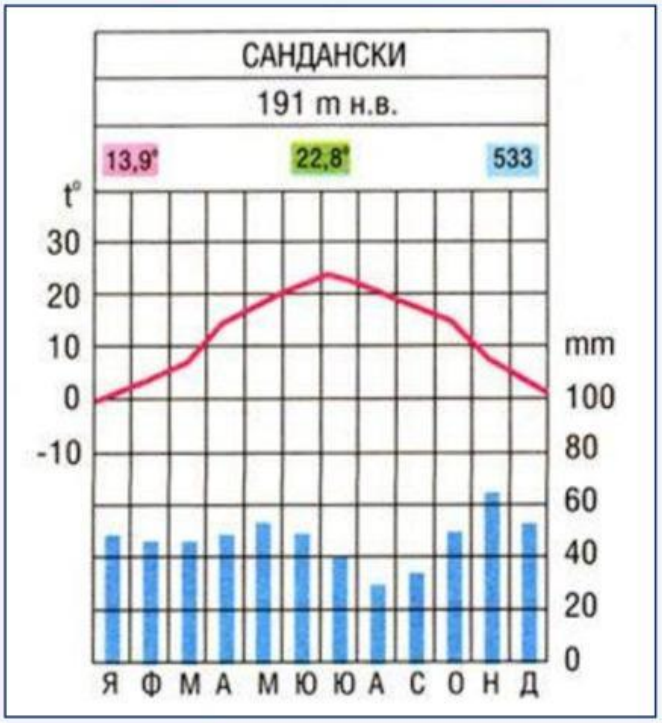

Моят имейл: ivi771027@gmail.com

LIVEWORKSHEETS