100	

Colegio Mixto "Mario Monteforte Toledo"
Retalhuleu, ciclo escolar 2023
Profesor: Flor de María Pérez Carmona

Hoja No. 01/03
Matemática
Primero básico

OCTAVA ACTIVIDAD DE APRENDIZAJE/ IV BIMESTRE (REPASO Y M.)

I SERIE

Indicaciones: Trace en hojas adicionales los ángulos que se le solicitan y clasifíquelos según la pág. 179 de su libro.

Ángulo	agudo	recto	obtuso	llano	completo	cóncavo	convexo
46°							
185°							
240°							
150°							
320°							
Reto 400°							

II SERIE

Indicaciones: Clasifique los siguientes polígonos según sus lados, ángulos y longitud relativa de lados y ángulos.

Polígono	No. De lados	No. De ángulos	Nombre según su número de lados	Equiángulo	Equilátero	Regular o irregular	Cóncavo o convexo
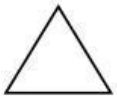							
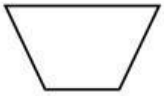							
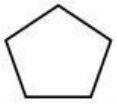							
							

LIVEWORKSHEETS

III SERIE

Indicaciones: Calcule lo que se indica en cada ejercicio en hojas adicionales.

1) Pág. 215, ejercicio 57: R// _____

2) Pág. 215, ejercicio 58: R// _____

3) Pág. 215, ejercicio 59: R// Vértices = _____ lados = _____ Clasificación: _____

4) Pág. 215, ejercicio 61: R. inciso a //_____ R. inciso b // _____

5) Pág. 216, ejercicio 63: R// _____

6) Pág. 216, ejercicio 64 (debe trazar el pentágono y el ángulo solicitado): R// _____

7) Pág. 216, ejercicio 65: R// a) _____ b) _____ c) _____

8) Pág. 216, ejercicio 74: R// a) _____ b) _____ c) _____ d) _____

9) Pág. 216, ejercicio 75: R// a) _____

b) _____

10) Pág. 216, ejercicio 76: R// a) _____ b) _____ c) _____

11) Pág. 216, ejercicio 77: R// _____

12) Pág. 217, ejercicio 78 (dibujar en hojas): R// _____

13) Pág. 217, ejercicio 79: R// a) _____ b) _____ c) _____

14) Pág. 217, ejercicio 80: R//

15) Pág. 217, ejercicio 81 (dibujar en hojas): ¿qué cuadrilátero has formado? R/_____

16) Escribe cuánto mide el ángulo complementario y suplementario para cada ángulo.

Ángulo	Complementario	Suplementario
52°		
35°		
83°		
124°		

LIVEWORKSHEETS

IV SERIE

Indicaciones: Coloree los ángulos de los triángulos según la clave y escriba debajo de cada triángulo su clasificación según sus lados y ángulos, e indique el valor del ángulo faltante.

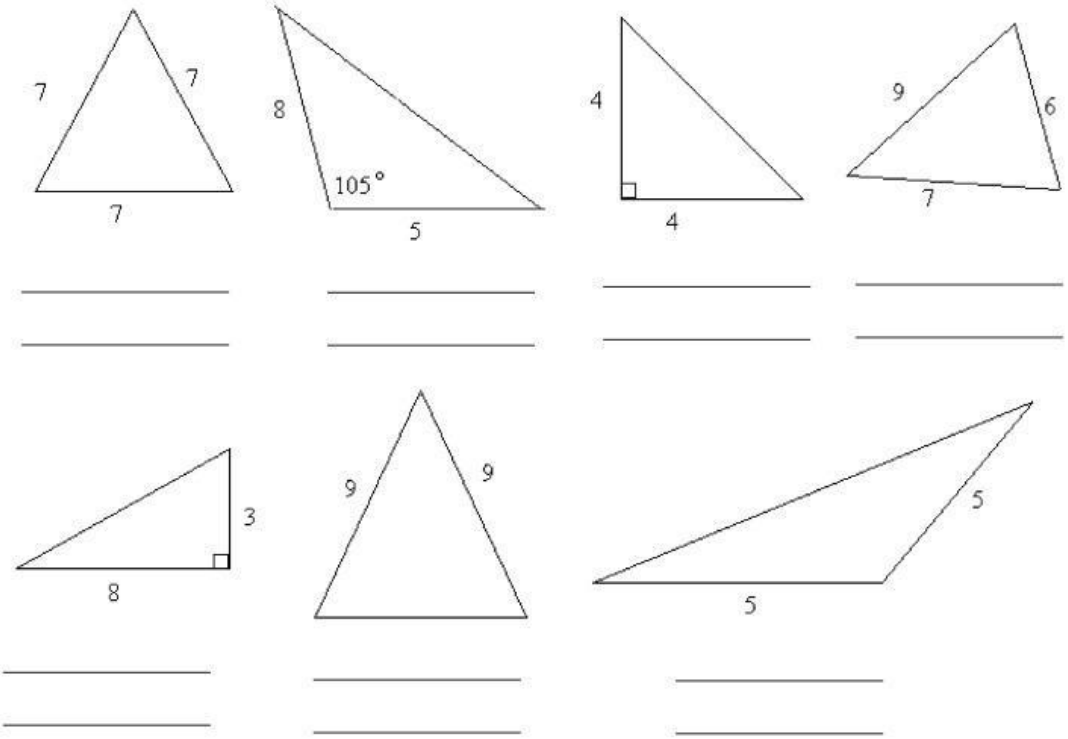

Ángulos rectos: color verde

Ángulos agudos: color rojo

Ángulos obtusos: color amarillo

¿Cuántos triángulos hay? Completa

Equiláteros: ____

Isósceles: ____

Escalenos: ____

Rectángulos: ____

Acutángulos: ____

Obtusángulos: ___

V SERIE (5 ítems × 2.5 pts. c/u = 12.5 pts.) **Total, IV Serie: _____**

Indicaciones: Encontrar el área y perímetro de las siguientes figuras y polígonos. Tomar en cuenta que la diagonal de cada cuadrito mide aproximadamente 1.42 unidades.

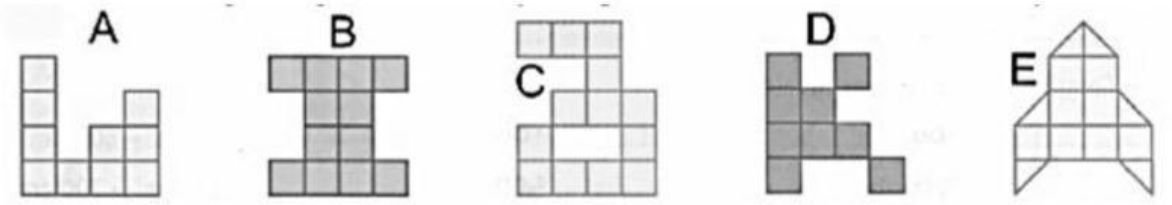

A = _____ A = _____ A = _____ A = _____ A = _____

P = _____ P = _____ P = _____ P = _____ P = _____

- Ordenar de menor a mayor según su área, trazando de nuevo las figuras en sus hojas. (con regla)

LIVEWORKSHEETS