ЧОМУ РЕЧОВИНИ БУВАЮТЬ ТВЕРДИМИ, РІДКИМИ ТА ГАЗУВАТИМИ

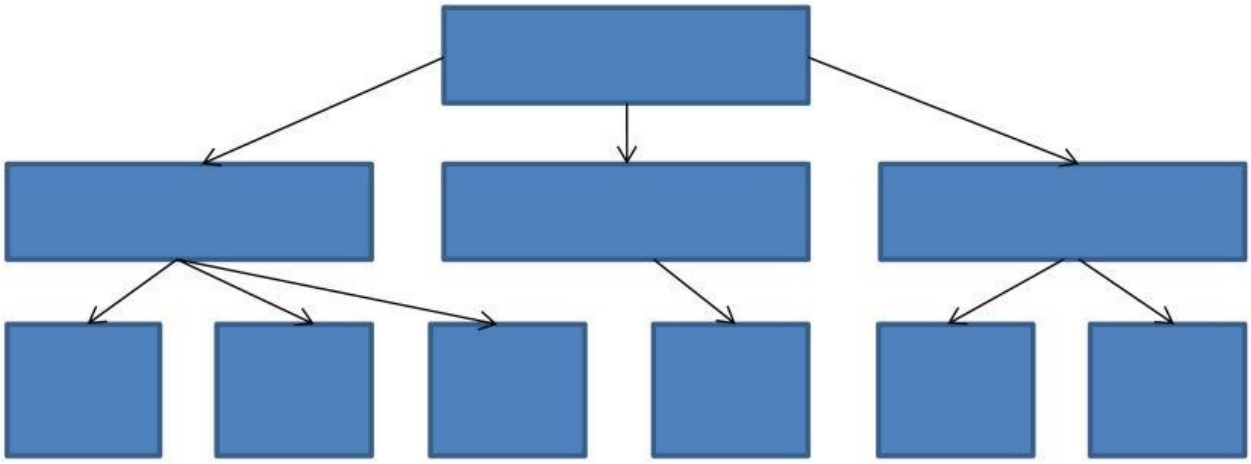

Перетягніть блоки у відповіднге місце в схемі

Агрегат-ний стан	туман	рідкий	сироп	пласт-маса	залізо	твердий
		оцет	маргарин	газопо-дібний		

Перетягніть блоки у відповіднге місце в схемі

Твердий агрегатний стан		
Рідкий агрегатний стан		
Газуватий агрегатний стан		

Речовина зберігає об'єм , але легко змініє форму

Речовина має форму та об'єм і може змінювати їх під впливом зовнішньої дії

Речовина не зберігає ні форми, ні об'єму, заповнює весь доступний їй простір

Відстані між молекулами невеликі, молекули зв'язані не дуже сильно

Молекули розташовані близько й міцно зв'язані між собою

Відстані між молекулами дуже великі ,молекули вільно рухаються і переміщуютьсяна значні відстані

LIVEWORKSHEETS

Виберіть правильні твердження

Більшість речовин перебуває в рідкому стані

Більшість речовин перебуває у твердому стані

Речовину можна перевести з одного агрегатного стану у інший

Речовину не можна перевести з одного агрегатного стану у інший

Щоб перевести речовину з одного агрегатного стану в інший, потрібно змінити існуючі умови

Розгадай ребус. Запиши слово-відгадку та його тлумачення (визначення явища, яке воно означає)



Підпиши у якому агрегатному стані перебуває кожна з цих речовин

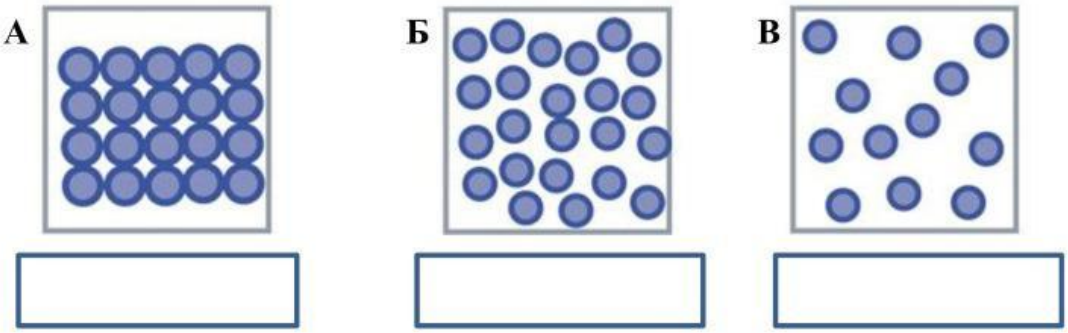

Найшвидше дифузія відбуватиметься у речовині _____, тому що _____

Найповільніше дифузія відбуватиметься у речовині _____, тому що _____

LIVEWORKSHEETS