Clasificación de cuadriláteros

1. Une los puntos de cada cuadrilátero con los puntos de sus características y después con los puntos de sus nombres.



- Tiene un par de lados paralelos.
- No tiene lados paralelos.
- Tiene dos pares de lados paralelos.

- Trapezoide
- Paralelogramo
- Trapecio

2. Coloca una P a los paralelogramos, una T a los trapecios y una TZ a los trapezoides.

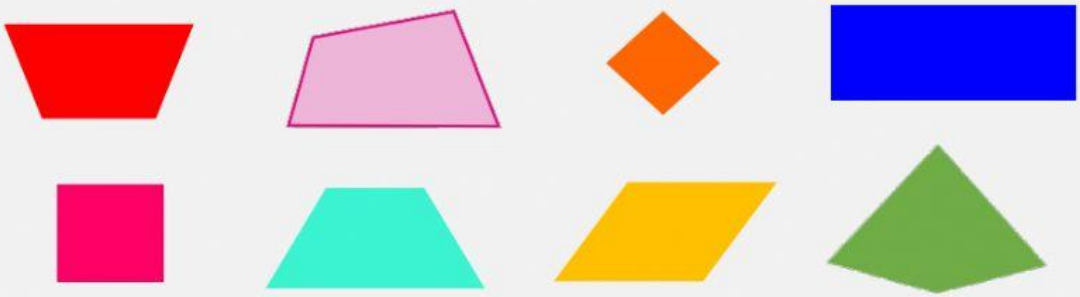

3. Une cada cuadrilátero con su descripción.

- Trapecio
- Rombo
- Rectángulo
- Cuadrado
- Trapezoide

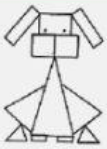

- Dos pares de lados paralelos, cuatro lados iguales y cuatro ángulos rectos.
- Dos pares de lados paralelos, cuatro lados iguales y ángulos no rectos, iguales dos a dos.
- No tiene lados paralelos. Lados desiguales.
- Dos pares de lados paralelos. Lados iguales dos a dos y 4 ángulos rectos.
- Un par de lados paralelos. Sus ángulos no son rectos.

LIVEWORKSHEETS