NAME : _____

CLASS : _____

DATE : _____

1. 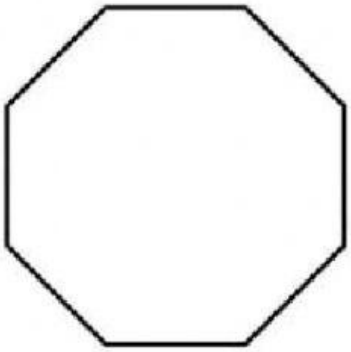

Perhatikan gambar!Banyaknya sisi pada gambar tersebut adalah....

☐ a) 8 ☐ b) 7

☐ c) 6 ☐ d) 5

2. Berikut ini yang merupakan bangun segi banyak beraturan adalah..

☐ a 

☐ b 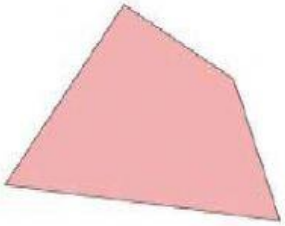

☐ c 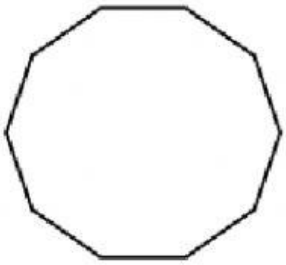

☐ d 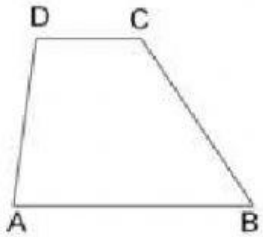

3.Bangun datar berikut, berbentuk ....

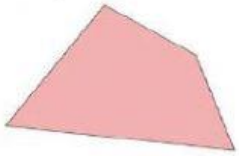

☐ a) Segi enam ☐ b) Segi lima

☐ c) Segi empat ☐ d) Segi tiga

LIVEWORKSHEETS

4. Panjang persegi panjang dengan panjang 16 *cm* dan lebarnya 13 *cm* .

Tentukan luasnya!

☐ a) 648 ☐ b) 208

☐ b) 173 ☐ d) 146

c)

5. Keliling persegi panjang yang mempunyai panjang 25 *cm*

dan lebar 15 *cm* adalah... *cm*

☐ a) 80 ☐ b) 70

☐ b) 60 ☐ d) 30

6. Keliling persegi dengan panjang 24 *cm* adalah... *cm*

☐ a) 106 ☐ b) 96

☐ b) 86 ☐ d) 76

7. Yang bukan merupakan segi banyak adalah...

☐ a) Segi lima ☐ b) Segi empat

☐ b) Segi tiga ☐ d) Segi dua

8. Segi enam memiliki . . . . sisi dan . . . . titik sudut.

☐ a) 4 – 6 ☐ b) 5 - 6

☐ b) 6 – 6 ☐ d) 6 – 8

9. Untuk mengetahui keliling persegi panjang dapat menggunakan rumus . . .

☐ a) sisi x sisi ☐ b) panjang x lebar

☐ b) 2p + 2l ☐ d) 2 x (p+l)

10. Luas persegi yang memiliki panjang sisi 14 cm adalah . . .

☐ a) 169 cm^2 ☐ b) 196 cm^2

☐ c) 225 cm^2 ☐ d) 144 cm^2

LIVEWORKSHEETS