1. **La luz roja intermitente en una señal de PARE en el extremo lateral izquierdo de un transporte escolar, ¿Qué significa?**

   a. Prohibido adelantar o rebasar al transporte escolar, hasta que se apague la luz intermitente y se guarde la señal de PARE
   b. Disminuir la velocidad y adelantar con precaución al transporte escolar
   c. Que se encendió las luces de estacionamiento del transporte escolar

2. **Es válido portar una copia simple de la licencia o matrícula para circular en el Ecuador:**
   a. No, nunca
   b. Solo si está impresa
   c. Ninguna de las anteriores

3. **Debo hacer un curso de conducción para obtener mi licencia de conductor en el Ecuador:**
   a. No
   b. Si, siempre
   c. Solo si me pide el agente de tránsito

4. **Si se queda sin combustible y por esa razón obstaculiza el tránsito vehicular, ¿Está cometiendo una contravención?**
   a. VERDADERO
   b. FALSO
   c. DESCONOCE

5. **¿Es una contravención de tránsito, la o el conductor que conduzca con licencia caducada?**
   a. VERDADERO
   b. FALSO
   c. DESCONOCE

6. **La o el conductor y pasajeros que no hagan uso del cinturón de seguridad, ¿Corresponde a una contravención de transito?**
   a. VERDADERO
   b. FALSO
   c. DESCONOCE

LIVEWORKSHEETS

7. **Los conductores que conduzcan en estado de embriaguez o bajo los efectos de sustancias estupefacientes, psicotrópicas o preparados que las contengan y del cual provoquen un siniestro del cual resulte la muerte, ¿Qué sanción corresponde?**
   a. Pena privativa de la libertad de doce a veinte años
   b. Revocatoria definitiva de la licencia para conducir
   c. Ninguna de las anteriores

8. **El conducir un vehículo cuyas llantas se encuentren lisas o en mal estado, ¿Será sancionado con pena privativa de libertad de cinco a quince días?**
   a. VERDADERO
   b. FALSO
   c. DESCONOCE

9. **El conducir un vehículo con las luces no encendidas en horas de la noche o conduzca en sitios oscuros como túneles con la luces apagadas, ¿Corresponde a una contravención de tránsito?**
   a. VERDADERO
   b. FALSO
   c. DESCONOCE

10. **¿Cuál de los siguientes enunciados corresponde a una contravención de tránsito?**

   a. La o el conductor que conduce sin mantener una distancia prudente de seguimiento respecto al vehículo y ciclista de adelante
   b. La o el conductor que conduce con una distancia prudente de seguimiento respecto al vehículo de adelante
   c. La o el conductor que cede el paso y permite el adelantamiento de otros vehículos.

11. **La o el conductor de un vehículo automotor que circule con personas en los estribos o pisaderas, baldes de camionetas, parachoques o colgados de las carrocerías de los vehículos , ¿Es una contravención de transito?**
   a. VERDADERO
   b. FALSO
   c. DESCONOCE

LIVEWORKSHEETS

12. **¿Qué indican las líneas amarillas al borde de la calzada que se observan en la imagen?**

a. Indican a los conductores que es permitido el parqueo vehículos
b. Indican a los conductores que se permite el adelantamiento de vehículo
c. Indican a los conductores, especialmente en caso de poca visibilidad, dónde se encuentra el borde de la calzada

13. **¿Qué significan las líneas segmentadas pintadas de blanco en una intersección, que se observan en la imagen?**

a. Cruce de ciclovías
b. Cruce peatonal
c. Cruce de mascotas

14. **De acuerdo a la imagen, ¿Las señales reglamentarias indican la dirección obligatoria en el carril que deben seguir los vehículos en la próxima intersección?**

a. VERDADERO
b. FALSO
c. DESCONOCE

15. **¿Qué debe hacer el conductor cuando se encuentre con una señal horizontal pintada en la vía como se observa en la imagen?**

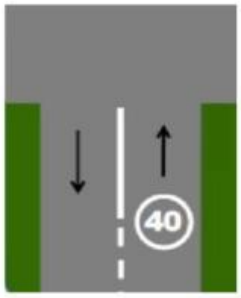

a. Velocidad mínima de 40 km/h
b. Velocidad máxima de 40 km/h
c. Peso permitido de 40

16. **De acuerdo a la imagen, ¿Qué significa la siguiente señal horizontal pintada en la vía?**

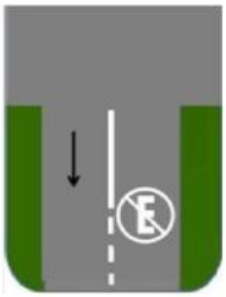

a. Estacionar temporalmente cuando no exista un agente de tránsito
b. Prohibido estacionar
c. Estacionamiento exclusivo para personas con discapacidad

LIVEWORKSHEETS

17. **¿Qué significa esta señalización horizontal?**
   a. Estacionamiento tarifado
   b. No estacionar
   c. Estacionamiento gratuito

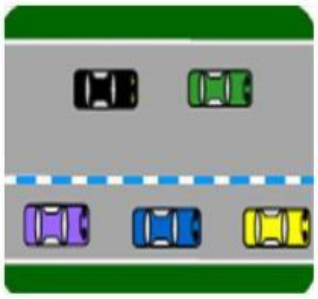

18. **El conductor cuando se encuentre en una intersección, ¿Debe detener su vehículo, bicicleta y peatones completamente y dar el paso a cualquier vehículo que se encuentre cruzando la intersección?**
   a. VERDADERO
   b. FALSO
   c. DESCONOCE

19. **Los vehículos A y B llegan al mismo tiempo a una intersección en cruz por diferentes lados ¿Cuál tiene derecho de vía?**
   a. Cualquiera de los dos
   b. El vehículo que se aproxima a la izquierda
   c. El vehículo que se aproxima a la derecha

20. **¿Qué significa esta señal?**
   a. Saludo
   b. Giro a izquierda
   c. Disminuir la velocidad

21. **¿Qué significa esta señal?**
   a. Saludo
   b. Parar
   c. Giro a derecha

LIVEWORKSHEETS