NOMBRE: **GRUPO:**

Reproduce el vídeo para estudiar los lugares geométricos en el plano e identifícalos en la sopa de letras.

Y	C	I	V	U	F	X	U	Z	M	P	D
E	I	I	S	X	P	F	J	K	A	E	K
I	R	H	F	J	U	N	O	W	F	I	H
F	C	I	J	X	K	F	X	L	O	I	Y
Z	U	P	V	R	V	R	F	M	M	V	W
J	N	E	L	W	E	L	I	P	S	E	S
G	F	R	Y	I	S	C	C	H	M	D	D
W	E	B	M	Q	J	U	T	B	W	D	I
T	R	O	U	U	C	R	O	A	P	G	P
S	E	L	B	C	J	H	F	E	H	S	I
I	N	A	X	F	V	Y	Y	E	E	G	J
E	C	U	P	A	R	A	B	O	L	A	Z
D	I	A	N	R	D	F	S	J	T	A	S
Q	A	C	Z	X	Z	I	Y	T	V	T	M

Une cada lugar geométrico con su ecuación.

Circunferencia •	• $\frac{y^2}{25}-\frac{x^2}{9}=36$
Elipse •	• $y=4x+3$
Recta •	• $(x-9)^2+(y-7)^2=36$
Parábola •	• $x^2-6x+12y+69=0$
Hipérbola •	• $\frac{y^2}{16}+\frac{x^2}{9}=1$

A continuación, encontrarás la gráfica de algunos lugares geométricos, identifícalos según se indica.

Selecciona y arrastra

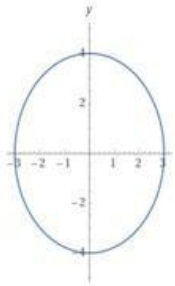

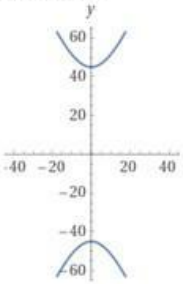

Presiona el micrófono y graba tu respuesta

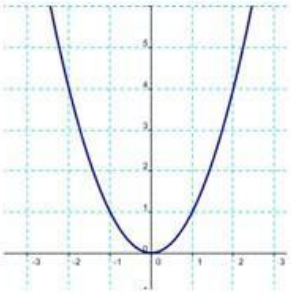

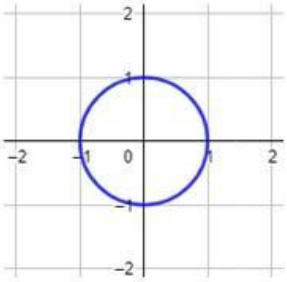

Banco de respuestas

Parábola | Elipse | Circunferencia | Recta | Hipérbola

LIVEWORKSHEETS