الفصل الدراسي الأول	أسئلة اثرائية	مادة العلوم العامة
الاسم: _____		الصف: سادس _____

من خلال دراستك لأجهزة الجسم المختلفة الرجاء الإجابة على الأسئلة التالية:

1- سم أعضاء الجهاز الهضمي مع كتابة الوظيفة بالجدول التالي

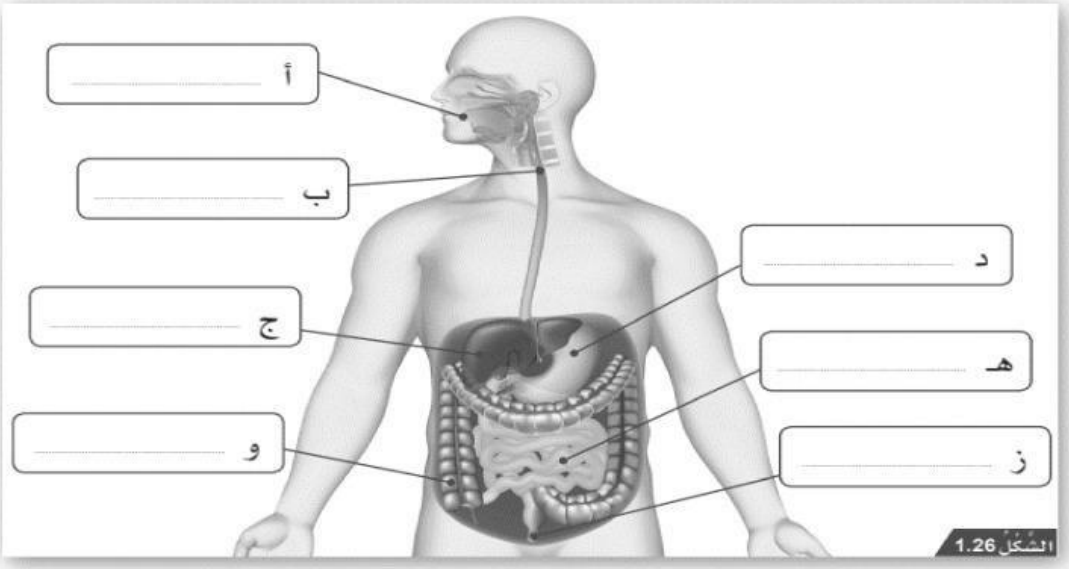

الجِهازُ الهَضْمِيُّ

العضو	وظيفته
الفم	
المريء	
المعدة	
الأمعاء الدقيقة	
الأمعاء الغليظة	
فتحة الشرج	

LIVEWORKSHEETS

2- من خلال دراستك للجهاز الدوري ضع البيانات على الرسم الشكل

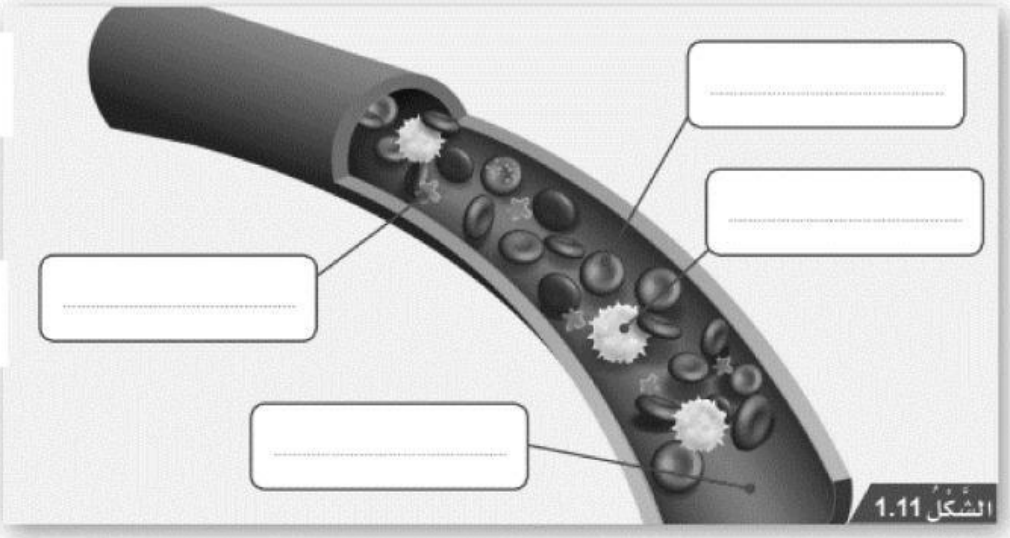

رَسْمٌ تَخْطيطِيٌّ لِلدَّمِ

3- حدد حجرات القلب مع ذكر وظيفته:

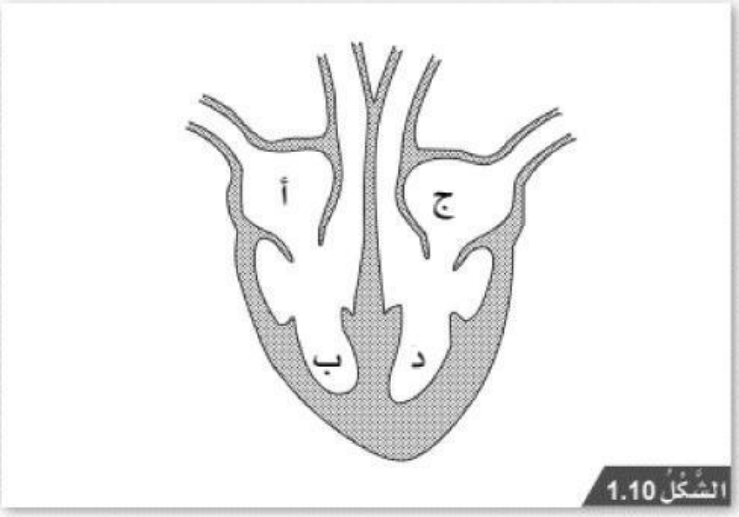

القَلْبُ

أ- _____

ب- _____

جـ. _____

ـد. _____

وظيفة القلب:_____

LIVEWORKSHEETS

4- من خلال الرسم أجيب على الأسئلة :

- ما أسم هذا الجهاز؟

الإجابة: _____

- ما وظيفة العضو (ج) ؟

الإجابة _____

- بماذا يسمى العضو (أ) ؟

الإجابة: _____.

- أي عمليات التنفس موضحة بالرسم؟

الإجابة: _____

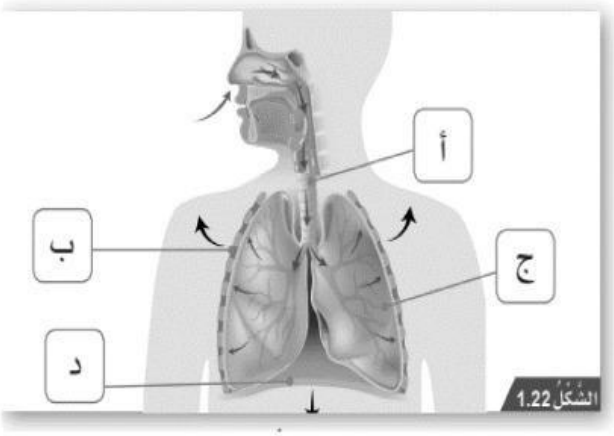

5- حدد بيانات الجهاز البولي:

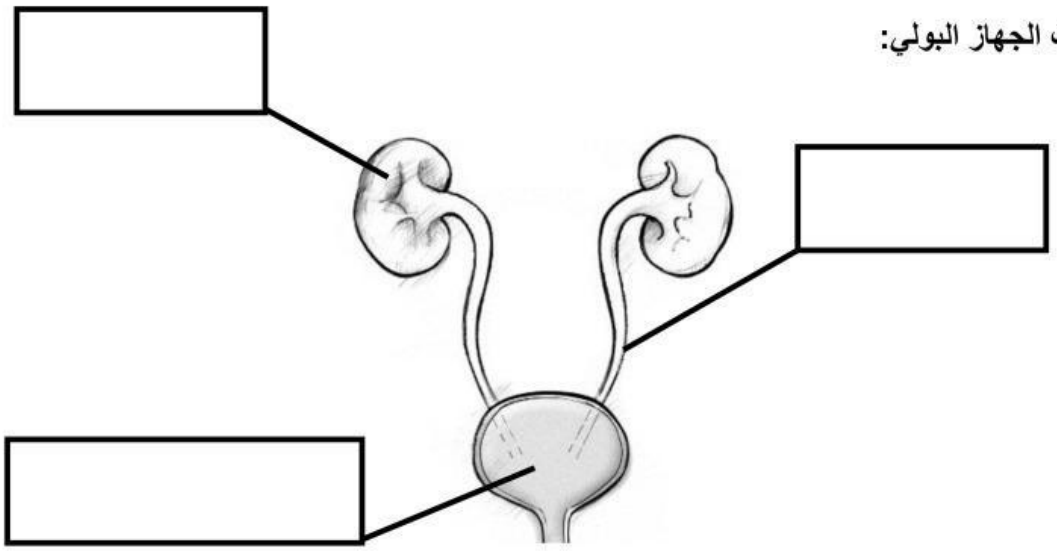

LIVEWORKSHEETS

6- أكمل الجدول التالي

العضو	الوظيفة
العين	
	تسمح لنا بالتذوق
	تسمح لنا بالشم
الأذن	
الدماغ	

7- أكمل المخطط التالي بكتابة مظاهر البلوغ لكل من الذكر والأنثى:

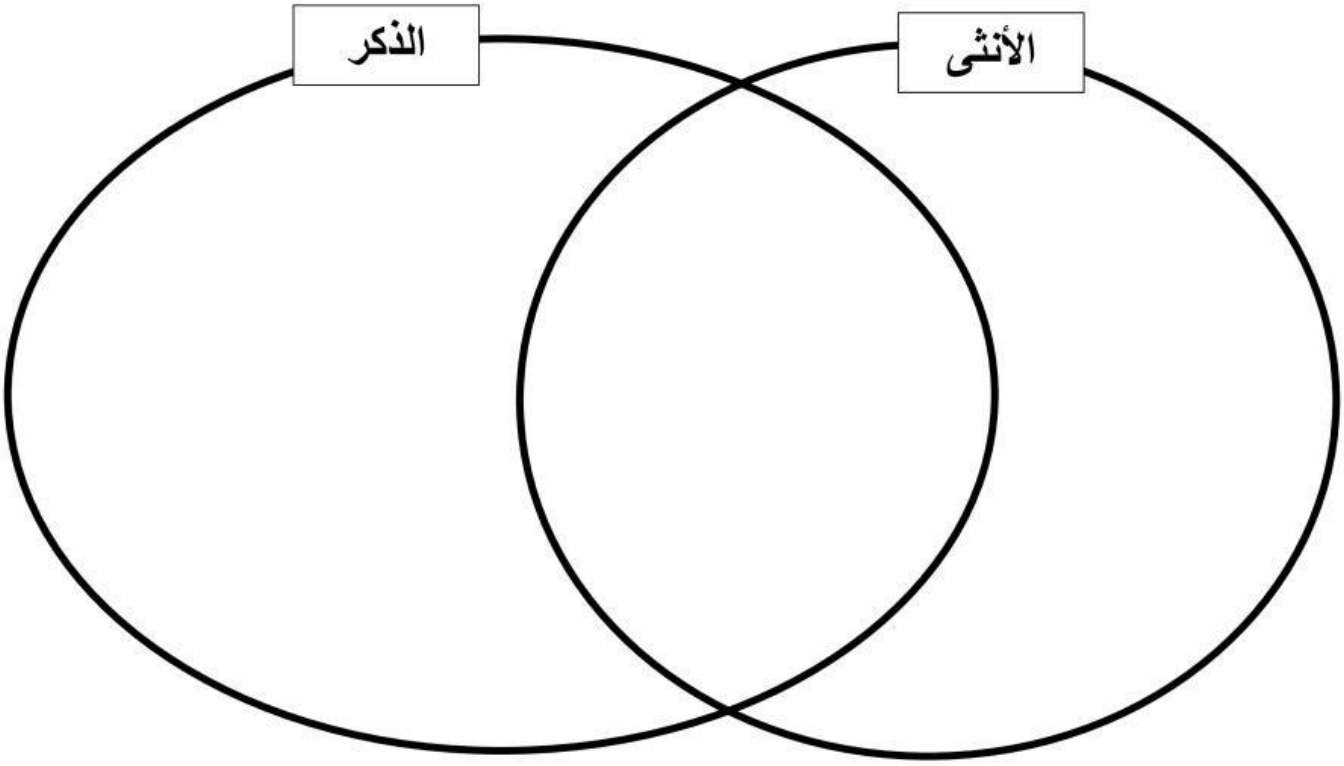

LIVEWORKSHEETS