1. Аль биетийн нягт их вэ?



2. Аль биетийн нягт бага вэ?

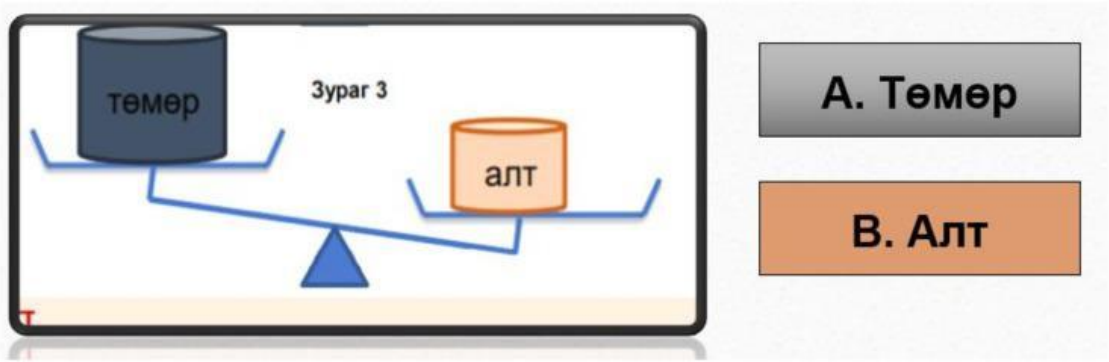

3. Зөв харгалзуулаарай.

LIVEWORKSHEETS

4. Зургийг ажиглан ижил болон ялгаатай хэмжигдэхүүнийг хүснэгтэнд тэмдэглэнэ үү.



Ижил хэмжигдэхүүн	
Ялгаатай хэмжигдэхүүн	

5. $$\rho = \frac{m}{V}$$

LIVEWORKSHEETS