Soal MidKelas 10 SMA Semua jurusan
SMA KATOLIK SIBOLGA
TA. 2022/2023

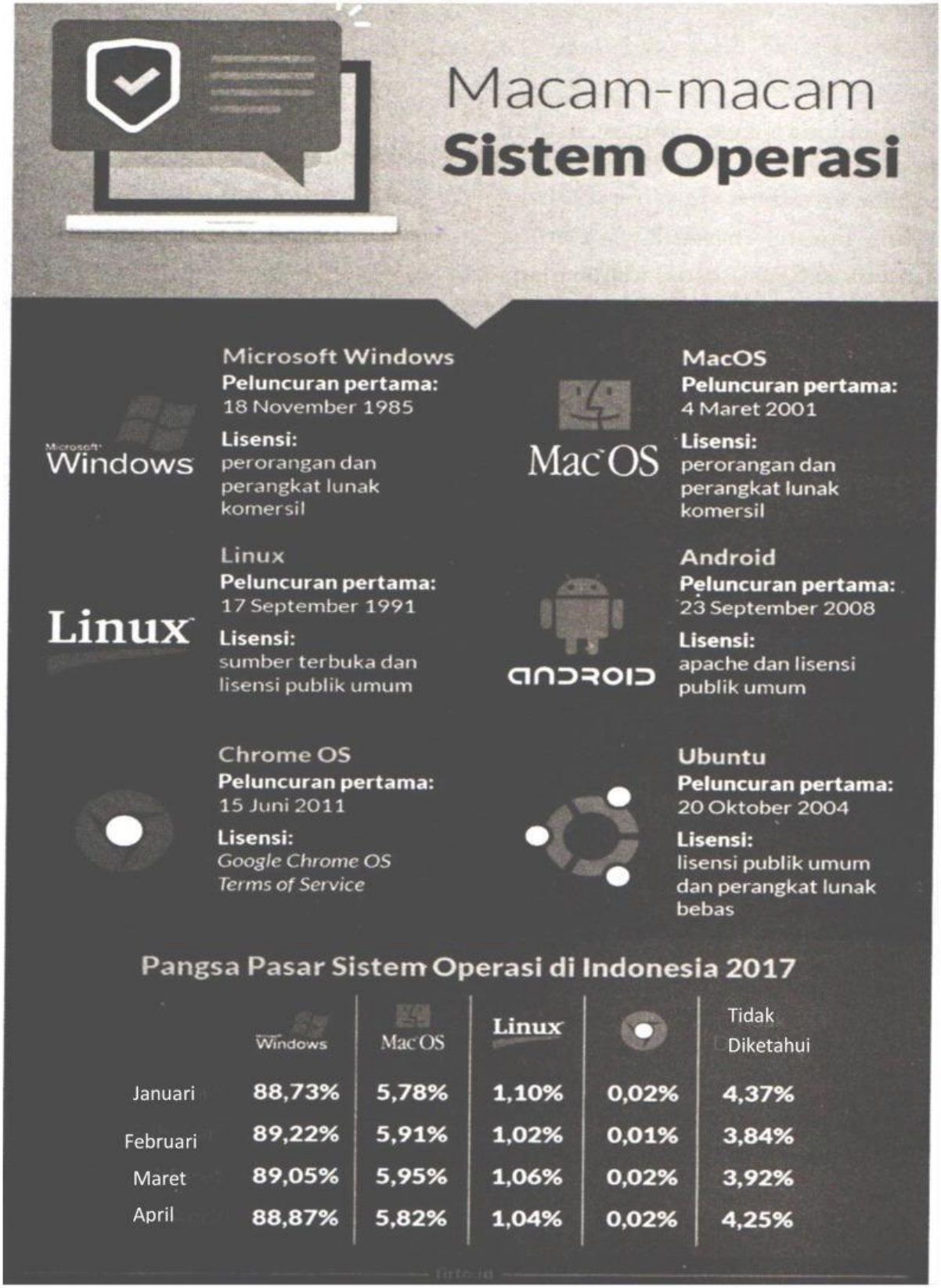

LIVEWORKSHEETS

1. Sebuah system operasi diluncurkan pertama kali pada tanggal 4 maret 2001. Sistem Operasinya memiliki lisensi pemakaian untuk perorangan dan perangkat lunak komersil. Sistem operasi tersebut adalah
    a. Microsoft windows
    b. Linux
    c. macOS
    d. Android
    e. Chrome OS

Soal no 2-5

Manakah pernyataan berikut yang sesuai dengan infografis di atas

Pernyataan	Benar	Salah
Sistem operasi yang memiliki lisensi publik umum adalah Linux, Android, dan Ubuntu.		
Sistem operasi Android muncul pertama kali setelah 33 tahun peluncuran pertama Microsoft Windows.		
Pangsa terendah sistem operasi di Indonesia 2017 adalah sistem operasi Linux.		
Pangsa tetinggi sistem operasi di Indonesia ditempati oleh sistem operasi Microsoft Windows selama empat bulan berturut-turut pada tahun 2017.		

6. Peningkatan pangsa pasar di Indonesia terhadap system operasi linux selalu mengalami peningkatan sejak bulan januari – april 2027, benarkah pernyatann tersebut?

klik tombol pada pilihan anda

☐ Benar

☐ Salah

7. Dari Stimulus diatas, peningkatan paling signifikan penggunaan system operasi Microsoft windows pada pangsa pasar Indonesia terjadi pada bulan februari 2017, setujukah kalian dengan pendapat tersebut?

☐ Benar ☐ Salah

LIVEWORKSHEETS

Soal 8-11

Perhatikan gambar berikut ini, drag/tariklah gambar berikut ini ke dalam table dibawah ini

BAHASA PEMOGRAMAN	APLIKASI	HARDWARE	SISTEM OPERASI

Tom terjebak di lantai atas sebuah department store. Kejadian itu terjadi sebelum hari Natal dan dia ingin pulang kerumah dengan membawa hadiahnya. Apa yang bias dialakukan? Dia telah mencoba memanggil bahkan berteriak, tetapi tidak ada seorang pun di sekitarnya. Di seberang jalan ia melihat beberapa orang yang menggunakan computer sedang bekerja lembur. Bagaimana bias ia menarik perhatian mereka? Tom melihats ekelilingnya untuk mencari sesuatu yang bias ia gunakan. Kemudian ia menemukan ide yang cemerlang-dia bias menggunakan lampu pada pohon Natal untuk mengirimkan sebuah pesan! Dia menemukan lampu dan colokan dan dapat menghidupkan atau mematikan lampu tersebut. Dia menggunakan kode biner sederhana, dia yakin bahwa wanita disebarang jalan tersebut pasti mengerti

LIVEWORKSHEETS

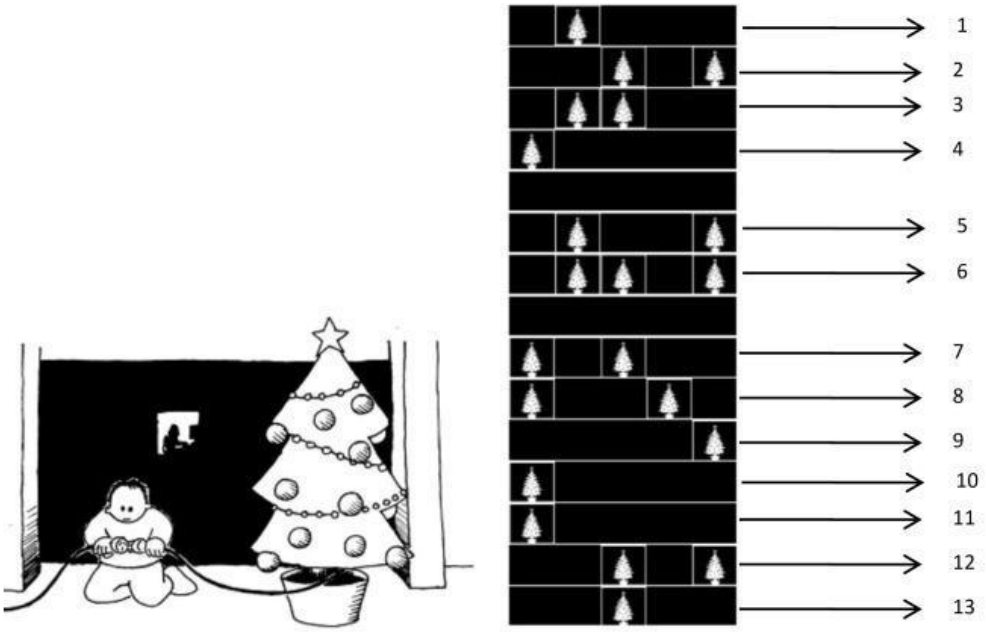

1	2	3	4	5	6	7	8	9	10	11	12	13
a	b	c	d	e	f	g	h	i	j	k	l	m
14	15	16	17	18	19	20	21	22	23	24	25	26
n	o	p	q	r	s	t	u	v	w	x	y	z

12. Huruf apakah yang muncul pertama kalinya dari pesan Tom?

a. A

b. B

c. F

d. G

e. H

LIVEWORKSHEETS

13.Huruf apakah yang muncul terakhir kalinya(huruf ke-13) dari pesan Tom?

a. A
b. B
c. C
d. D
e. E

14.Hurufke1,2,3,4 dari pesan Tom menghasilkan kata?

a. Helo
b. Haii
c. Help
d. Dear
e. Hold

15.Hurufke 5,6 dari pesan Tom menghasilakan kata?

a. Im
b. Me
c. My
d. Us
e. As

16.Huruf ke 7,8,9,10,11,12,13 daripesan Tom menghasilakan kata?

a. Trapped
b. Trouble
c. Tonight
d. Turning
e. Towards

LIVEWORKSHEETS

17.Apakah isipesan Tom keseluruhannya…

a. Dear my tonight
b. Help me tonight
c. Help im trapped
d. Help us towards
e. Help us trapped

18.Kode yang di kirimkan toma dalah kode bineri, dimana kode tersebut terdiri atas

a. 1 dan 2
b. 0 sampai 9
c. 0 dan 9
d. 0 dan 1
e. 0 dan 2

LIVEWORKSHEETS

Untuksoal no 19-25.

Perhatikanlahbentuk pointer excel berikut ini dan jodohkanlah antara symbol dan fungsinya dengan tepat

	19	Memindahkan isi cell
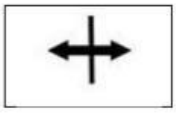	20	Menyeleksi/memblok celll
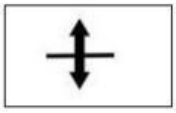	21	Menyalin semua isi cell
	22	Merubah ukuran dari kolom
	23	Merubah ukuran dari baris
	24	Menyeleksi/memblok baris
	25	Menyeleksi/memblok kolom

LIVEWORKSHEETS