ПЕРЕВІР СЕБЕ!

1. Запиши склад поданих чисел.



5

3		2	
	1		4



4

3		1
	2	

3

1	
	1

2 Встав відповідні знаки: >, <, =.

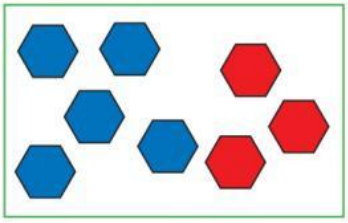

5 ◯ 3

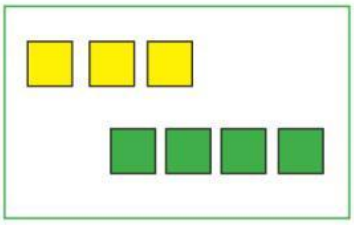

3 ◯ 4

3 Запиши, скільки елементів у кожній множині. Виконай порівняння, постав відповідні знаки: >, <, =. Обведи нерівності замкненою кривою.

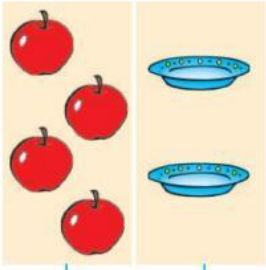

□ ◯ □



□ ◯ □

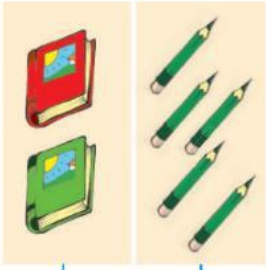

□ ◯ □

4 Прочитай нерівності. Домалюй потрібну кількість фігур.

5 > 3



1 < 6

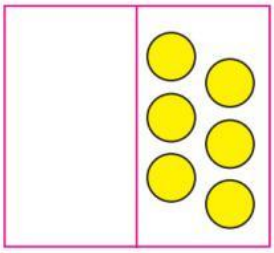

7 > 2



LIVEWORKSHEETS