الدرس (٨-٤) : قياس المساحة :

س١: أوجد مساحة كلٍ من الأشكال الآتية :

■ أوجد مساحة الأشكال المظللة باستخدام الوحدات المربعة :

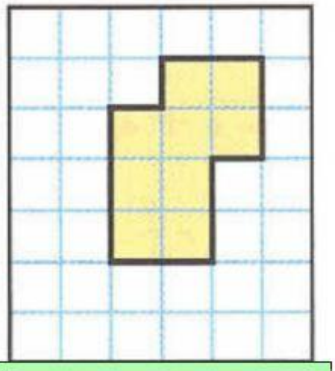

..... وحدة مربعة

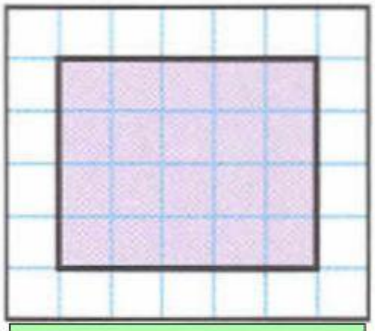

..... وحدة مربعة

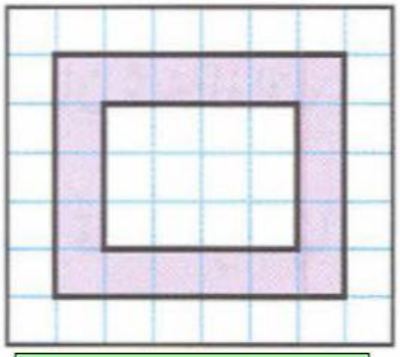

..... وحدة مربعة

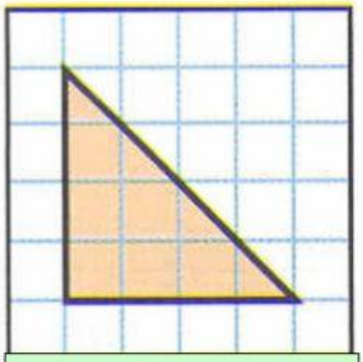

..... وحدة مربعة

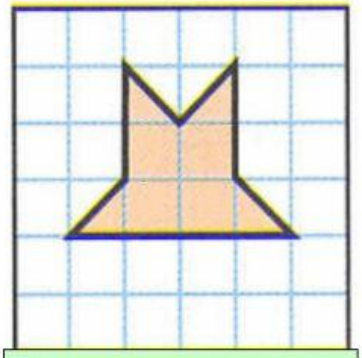

..... وحدة مربعة

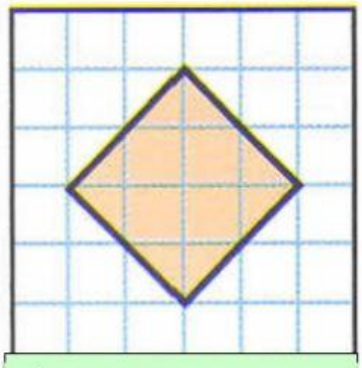

..... وحدة مربعة

■ أوجد محيط و مساحة الأشكال فيما يلي:

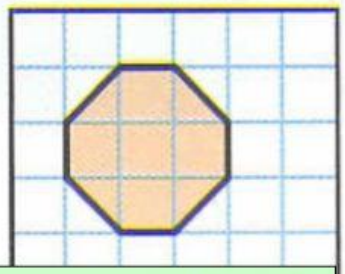

المحيط: ..... وحدة
المساحة:..... وحدة مربعة

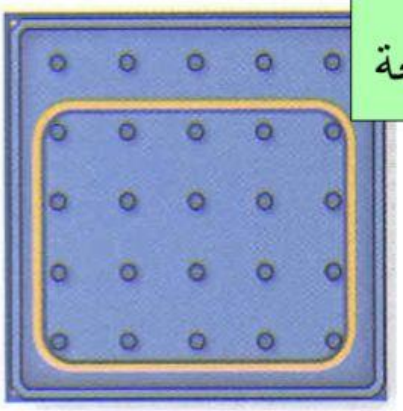

المحيط: ..... وحدة
المساحة:..... وحدة مربعة

إعداد: أ. زينب جاسم

LIVEWORKSHEETS