NOMBRE_____FECHA_____CURSO_____

1) Completa las oraciones.

A. Un.....es una zona que observamos desde un determinado lugar.

B. Los paisajes.....son aquellos que no han sido modificados por las personas.

C. Los paisajes.....son aquellos que sí han sido modificados por las personas y están formados por elementos.....como campos, embalses o carreteras.

D. Los paisajes humanizados son de dos tipos.....y.....

2) Indica qué formas de relieve costero y de interior aparecen en las imágenes.

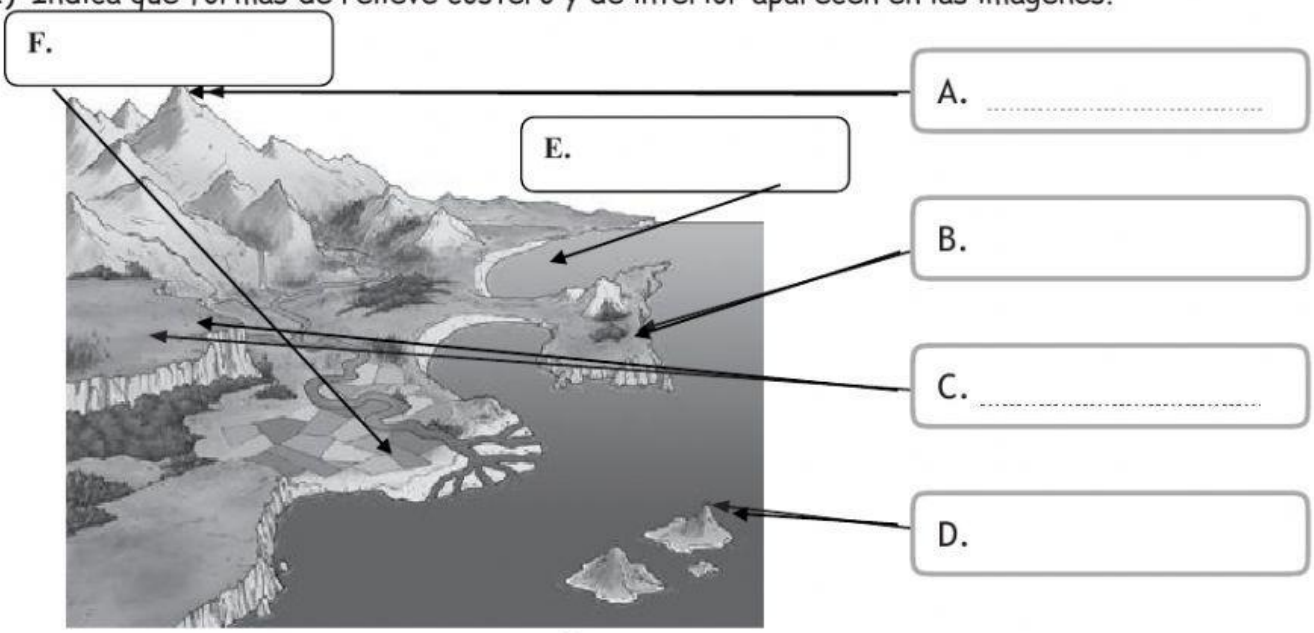

3) Arrastra cada palabra con su definición.

Colina	Terreno alto y rocoso formado por el mar.
Paisaje	El mar se adentra en la tierra.
Acantilado	Sucesión de varias montañas.
Sierra	Entrante de tierra en el mar.
Estrella	Extensión de terreno que podemos observar a nuestro alrededor.
Cabo	Pequeña elevación de terreno.
Meseta	Zona estrecha entre montañas muy verticales y rocosas.
Litoral	Cuerpo celeste que brilla con luz propia.
Golfo	Lengua de Tierra que une la península con un continente.
Ecuador	Terreno llano situado a cierta altura.
Playa	Conjunto de islas próximas entre sí.
Istmo	Área que limita con el mar.
Archipiélago	Línea imaginaria que divide la Tierra en dos hemisferios.
Barranco	Zona de arena o piedra a la que llega el mar.

LIVEWORKSHEETS

4) Elije en la columna los nombres de las cordilleras, ríos e islas numerados en el mapa.

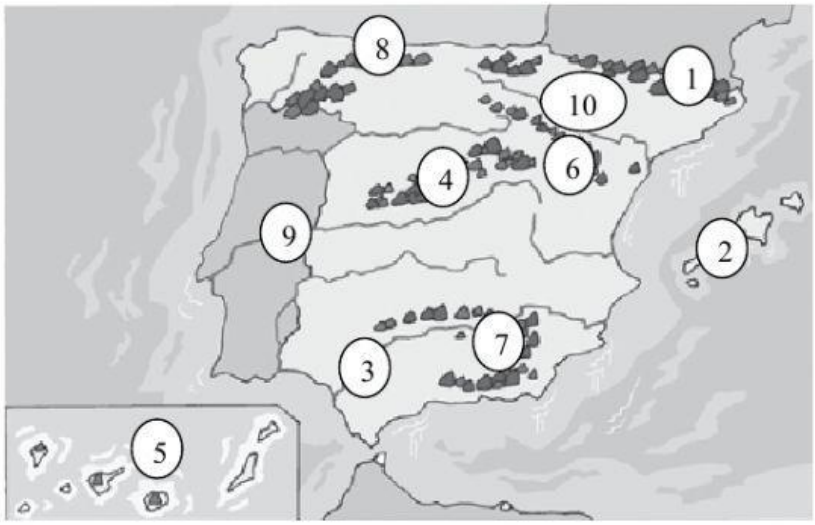

1. .....
2. .....
3. .....
4. .....
5. .....
6. .....
7. .....

8. ..... 9. ..... 10. .....

5) Escribe las tres acciones que contaminan este paisaje. Después, escribe tres normas para evitar esos tipos de contaminación.



....

Para conservar los paisajes puedo:

1. .....
2. .....
3. .....

LIVEWORKSHEETS