Họ và tên: ……..

Lớp: 1A…..

PHIẾU ÔN TẬP VIOLYMPIC TOÁN

VÒNG 2

Bài 1: Ghép 2 nhóm con vật có số lượng bằng nhau (theo thứ tự tăng dần).

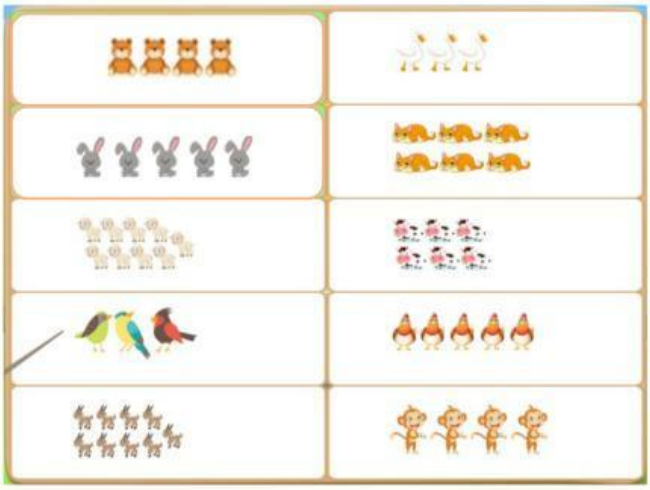



Bài 2: Chọn đáp án đúng.

Câu 1: Có bao nhiêu con voi ở hình vẽ dưới đây?

4 con | 3 con | 2 con | 1 con

Câu 2: Có bao nhiêu con mèo ở hình vẽ dưới đây?

3 con | 6 con | 4 con | 5 con

Câu 3: Có bao nhiêu con thỏ mì ở hình vẽ dưới đây?



5 con | 6 con | 7 con | 8 con

Câu 4: Hình vẽ dưới đây có bao nhiêu chữ số 1?

2 chữ số | 4 chữ số | 6 chữ số | 9 chữ số

LIVEWORKSHEETS

Câu 5: Hình vẽ dưới đây có bao nhiêu hình vuông?



4 hình | 3 hình | 2 hình | 1 hình

Câu 6: Có mấy cái bánh ở hình vẽ dưới đây?

7 cái | 8 cái | 9 cái | 10 cái

Câu 7: Hình vẽ dưới đây có mấy chùm nho ở trên đĩa?

6 chùm | 5 chùm | 4 chùm | 3 chùm

Câu 8: Hình vẽ dưới đây có bao nhiêu quả táo?

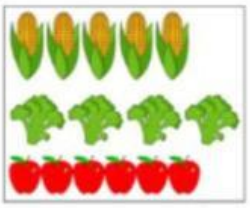

6 quả | 3 quả | 4 quả | 5 quả

Câu 9: Chọn hình vẽ có 10 con gà.

Câu 10: Chọn từ thích hợp để điền vào chỗ chấm.



Số con cá ..... số con cua.

nhiều hơn | ít hơn | bằng | không so sánh được

LIVEWORKSHEETS

Bài 3 : Chọn đáp án đúng hoặc điền số thích hợp vào chỗ chấm.

Câu 1: Chọn hình vẽ có 6 quả cam.

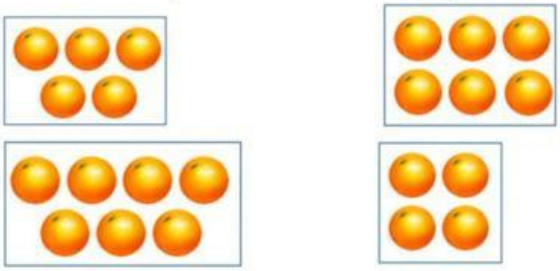

Câu 2: Chọn hình vẽ có nhiều chấm tròn nhất.

Câu 3: Số 2 nằm trong hình nào?



- ☐ Hình vuông
- ☐ Hình tròn
- ☐ Hình tam giác
- ☐ Hình chữ nhật

Câu 4: Bạn Minh vẽ được hình tròn. Hỏi bạn Minh vẽ hình màu gì?

- ☐ Màu hồng
- ☐ Màu đỏ
- ☐ Màu vàng
- ☐ Màu xanh

Câu 5: Trong các hình dưới đây, hình nào có số lượng ít hơn?

- ☐ Hình chữ nhật
- ☐ Hình vuông
- ☐ Hình tròn
- ☐ Hình tam giác

Câu 6:

Hình vẽ trên có ..... quả dứa.

Câu 7:

Trên đĩa có ..... quả táo.

Câu 8:

Hình trên có ..... cốc nước màu cam.

Câu 9:

Hình trên có ..... cái bánh màu hồng.

Câu 10:

Hình vẽ trên có ..... quả ớt.

LIVEWORKSHEETS