FREE TEST BAB 2 INTERAKSI DESA-KOTA
LEMBAR KERJA PESERTA DIDIK (LKPD)

Satua Pendidikan	:	SMAN 1 Cikarang Pusat	Mata Pelajaran	: Geografi
Tahun Pelajaran	:	2023-2024	Kelas/Semester	: XII/1
Kompetensi Dasar	:	Menganalisis struktur keruangan desa dan kota, interaksi desa dan kota, serta kaitanya dengan usaha pemerataan pembangunan		
Indikator	:	Pola keruangan Desa-Kota		
Nama	:		**Kelas**	:

Petunjuk :

Lembar Kerja Peserta Didi (LKPD) ini terdiri dari 5 bagian.

Kerjakan semua soal dengan mencermati dan mengikuti petunjuk mengerjakan yang tersedia di setiap bagian

Klik **Finish** untuk mengirim jawaban

Klik **check my answers** kemudian lihat di sudut kiri atas LKPD ini. Disana akan terlihat nilai kalian dan screenshot kemudian kirim melalui google classroom

Selamat bekerja!

A. Bacalah Teks di bawah ini untuk menjawab soal 1-5

1. Pengertian Desa

Desa merupakan pemukiman yang lokasinya berada di luar kota yang sebagian besar penduduknya memiliki mata pencaharian sebagai petani atau nelayan. Menurut Undang-Undang Republik Indonesia No. 6 Tahun 2014, desa adalah kesatuan masyarakat hukum yang memiliki batas wilayah yang berwenang untuk mengatur dan mengurus urusan pemerintahan, kepentingan masyarakat setempat berdasarkan prakarsa masyarakat, hak asal usul, dan atau hak tradisional yang diakui dan dihormati dalam sistem pemerintahan Negara Kesatuan Republik Indonesia.

Desa pada awalnya dihuni oleh satu keturunan yang memiliki nenek moyang yang sama. Jika suatu desa penuh maka masalah ekonomi akan bermunculan, beberapa keluarga keluar dari desa tersebut. Menurut Bintarto (1983) terdapat tiga unsur desa, yaitu daerah, penduduk, dan tata kehidupan.

Kata Ku
- desa
- pend
- tata

Soal-Soal

1. Suatu tempat yang berada diluar tempat-tempat yang memiliki mata pencaharian selain non agresi ……..
2. Wilayah ini sebagian besar memiliki ciri-ciri yang tidak individualis artinya hidup mereka selalu ……..dalam setiap pekerjaan atau masalah.
3. Apa yang menjadi ciri desa menurut No.6 Tahun 2014, …….. ……
4. desa merupakan penduduk yang masih satu darah yang disebut …….. …….
5. menurut bintarto terdapat …… unsur desa

LIVEWORKSHEETS

B. Soal Pilihan Ganda

6. Luas kepemilikan lahan penduduk desa masih tinggi, hal ini disebabkan karena ….
   a. harga tanah di desa dapat dijangkau, sehingga memungkinkan penduduk membeli dalam jumlah yang banyak
   b. lahan yang dimiliki penduduk desa merupakan lahan yang diberikan secara turun temurun
   c. lahan yang ada di desa yang tidak digunakan masih melimpah, sehingga penduduk masih memungkinkan untuk memilikinya
   d. sistem kepemilikan lahan (administrasi) di desa mudah dan murah, sehingga penduduk diberi keleluasaan memiliki lahan
   e. sedikitnya jumlah penduduk, sementara luas lahan yang masih tersedia jumlahnya banyak
7. Penyebab utama penduduk desa sebagian besar bekerja di sektor pertanian adalah ….
   a. sumber daya manusia yang ada di desa masih rendah
   b. tingkat pendidikan yang ada di desa tergolong rendah
   c. rendahnya tingkat pendapatan penduduk
   d. belum masuknya pengaruh industri di desa
   e. penduduk desa masih meneruskan tradisi dalam pengolahan lahan pertanian
8. Salah satu ciri desa swasembada adalah ….
   a. mata pencaharian mulai beragam
   b. mata pencaharian penduduk sebagian besar di bidang jasa dan perdagangan
   c. sebagian besar kehidupan penduduknya masih menggantungkan pada alam
   d. tingkat pendidikan dan produktivitas penduduknya masih rendah
   e. belum mampu menyelenggarakan urusan pemerintahan sendiri
9. Desa yang bila bagian terbesar penduduknya hidup tergantung dari usaha pertanian ladang (palawija/padi gogo/hortikultural) merupakan ciri desa ….
   a. pertambangan
   b. industri kecil
   c. pertanian
   d. perladangan
   e. pesisir
10. Berikut adalah komponen-komponen alam yang ada di desa, kecuali ….
   a. Alokasi desa
   b. luas desa
   c. keadaan tanah
   d. mata pencaharian penduduk desa
   e. keadaan bentang alam
11. Berikut di bawah ini adalah faktor-faktor yang mempengaruhi potensi desa, kecuali ….
   a. keadaan lingkungan geografis
   b. jumlah penduduk
   c. pola desa
   d. jenis dan tingkat kesuburan tanah
   e. luas tanah
12. Membangun industri berbasis hasil pertanian di pedesaan dapat ….
   a. menurunkan ketergantungan kota terhadap desa
   b. menurunkan migrasi sekuler
   c. menurunkan pertumbuhan ekonomi di kota
   d. menurunkan laju urbanisasi
   e. menurunkan laju migrasi
13. Pola keruangan permukiman desa di Pulau Kalimantan adalah ….
   a. memusat di daerah pertanian
   b. menyebar di daerah pertanian
   c. memanjang mengikuti sungai
   d. melingkar mengikuti danau
   e. memanjang mengikuti garis pantai
14. Sebaran pemukiman penduduk desa di wilayah pegunungan membentuk pola ….
   a. linier
   b. mengelompok
   c. terpencar
   d. konsentrasi
   e. random

LIVEWORKSHEETS

15. Di bawah ini merupakan ciri-ciri masyarakat desa, kecuali ….
    a. dasar kekeluargaan yang masih kuat
    b. masyarakat bersifat homogen
    c. mata pencahariannya agraris
    d. corak kehidupannya bersifat gesselschaft
    e. norma agama masih dipegang kuat

C. Silahkan jodohkan yang kanan ke kiri

linear

Tersebar

Memanjang Sepanjang panatai

Memanjang Sepanjang sungai

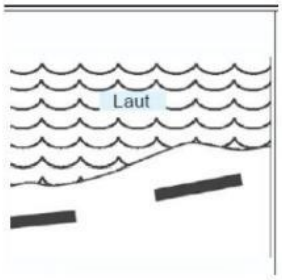

Terpusat

LIVEWORKSHEETS

D. Carilah Istilah-istilah di dalam kotak ini

S	H	A	K	B	U	U	K
A	W	A	D	K	U	F	A
A	W	A	S	Q	K	A	D
A	B	P	D	S	I	K	E
M	O	D	U	A	L	A	S
S	B	A	A	B	Y	I	K
A	N	D	L	U	R	A	H
N	A	G	A	R	I	A	D

F. Urutkan tahapan perkembangan kota berikut ini menjadi urutan yang tepat dengan menarik (Drag) dan melepaskannya (Drop) di kotak yang tersedia !

1	2	3	4	5	6

TIRANOPOLIS | METROPOLIS | EOPOLIS | MEGALOPOLIS | NEKROPOLIS | POLIS

G. Klasifikasikan nama-nama kota berikut ini dengan menarik (drag) dan melepaskan (drop) sesuai dengan kelompok yang tepat!

PUSAT PRODUKSI	PUSAT PERDAGANGAN	PUSAT PEMERINTAHAN	PUSAT BUDAYA

Sheffield | Athena | Medan | Jakarta

New York | Canberra | Bontang | Yogyakarta

Washington DC | Gresik | Denpasar | Hong Kong

LIVEWORKSHEETS

H. Pada bagian ini kalian diminta untuk membedakan 4 gejala yang terjadi di selaput inti kota. hubungkan dengan membuat garis menggunakan icon pensil yang tersedia di deskripsi gejala yang terjadi ke arah jenis-jenis gejala yang tersedia!

Nucleus yang fungsinya mirip PDK tetapi ukurannya lebih kecil	**Desentralisasi**
Gejala pemisahan kelompok perumahan karena perbedaan sosial.	**Segregasi**
Gejala pengelompokan pada suatu titik (tempat utama) yang akan menjadi PDK (Nukleus Utama)	**Nukleasi**
Gejala untuk menjauhi titik utama, dapat menimbulkan nucleus-nukleus baru	**Sentraliasasi**

I. Pada bagian ini kalian diminta untuk mengidentifikasi struktur ruang kota. pilihlah salah satu (*Inti kota, selaput Inti kota, Kota Satelit, Suburban*) alternatif jawaban yang benar dari pilihan yang tersedia dengan menggunakan metode drop down!

Daerah di luar kota yang memiliki sifat perkotaan dan memberi daya dukung bagi kehidupan kota	
Suatu daerah di sekitar pusat kota yang berfungsi sebagai daerah permukiman dan manufaktur	
Daerah luar dari inti kota, sebagai akibat tidak tertampungnya kegiatan dalam kota	
Perkantoran, terminal, kompleks pertokoan, dan permukiman merupakan ciri khas struktur kota ini	

J. Pada bagian ini kalian diminta untuk mengidentifikasi pola keruangan kota. Bagian ini meliputi 3 kelompok teori. Kerjakan satu persatu. Ketikan nomor yang tepat pada kotak yang tersedia sesuai dengan keterangan yang ada!

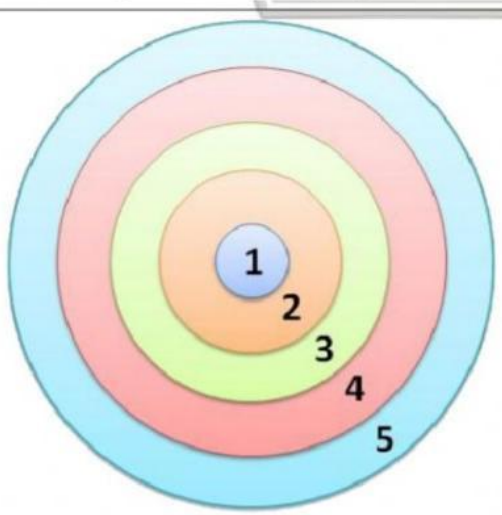

- [ ] Permukiman kelas pekerja atau buruh.
- [ ] Peralihan, (zona perdagangan beralih ke permukiman).
- [ ] Penglaju, (zona permukiman beralih ke zona pertanian)
- [ ] Permukiman kelas menengah keatas
- [ ] Daerah Pusat Kegiatan (DPK) atau Central Business District (CBD).

LIVEWORKSHEETS

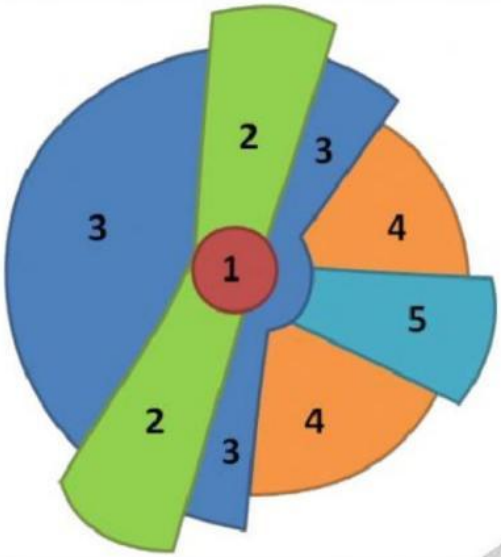

- [ ] Permukiman kelas atas.
- [ ] Daerah grosir dan manufaktur.
- [ ] Permukiman kelas rendah.
- [ ] Daerah Pusat Kegiatan (DPK) atau Central Business District (CBD)
- [ ] Permukiman kelas menengah.

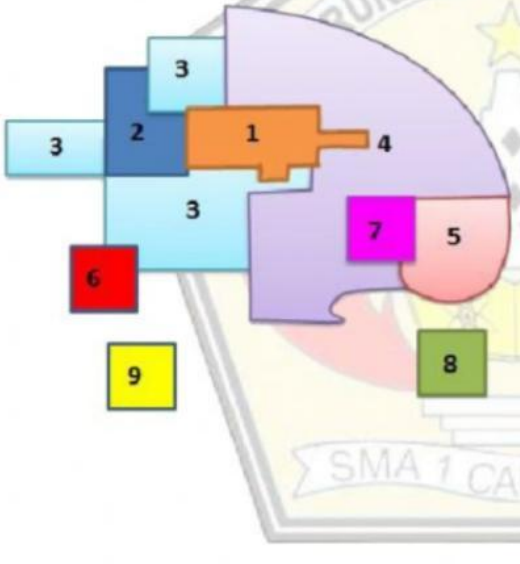

- [ ] Permukiman kelas menengah.
- [ ] Daerah perdagangan di luar PDK.
- [ ] Daerah permukiman kelas rendah.
- [ ] Permukiman suburban.
- [ ] Daerah grosir dan manufaktur.
- [ ] Daerah industri suburban
- [ ] Permukiman kelas tinggi.
- [ ] Daerah Pusat Kegiatan (DPK) atau Central Business District (CBD)
- [ ] Daerah manufaktur berat.

LIVEWORKSHEETS