21. Bunyi-bunyian berbentuk perkusi dapat dihasilkan daripada _____.
I alat perkusi
II alat muzik bertali
III perkusi badan
IV alat muzik improvisasi
A I dan III **C** I, II, dan III
B II, III dan IV **D** I, III dan IV

22. Alat muzik bermelodi ialah _____.
I zailofon
II dram
III marakas
IV piano
A I dan III **C** I dan IV
B II dan IV **D** II dan III

23. Penjarian not C pada rekoder ialah _____.

A

C

B

D

24. Penjarian not D pada rekoder ialah _____.

A

C

B

D

25. Penjarian pada rekoder ialah _____.

A

C

B

D

LIVEWORKSHEETS