LKPD

SBDP

SENI BUDAYA DAN PRAKARYA

TEMA 2
SUBTEMA 1

NAMA:

LIVEWORKSHEETS

KELAS 6 SBDP

POLA LANTAI

Penilaian

★★★★★

★★★★

★★★

★★

Sebutkan Pola Lantai di bawah ini!









LIVEWORKSHEETS

KELAS 6 SBDP

POLA LANTAI

Penilaian

★★★★★

★★★★

★★★

★★

Jelaskan Pola Lantai di bawah ini dengan Cara Menarik Garis!

Pola dalam seni tari yang membentuk garis menyudut ke kanan atas, ke kiri atas, ke kanan bawah ataupun ke kiri bawah.

pola dalam seni tari yang berjajar lurus dari kanan ke kiri atau sebaliknya.

jenis pola lantai yang membentuk lingkaran.

pola yang membentuk garis lurus dari depan ke belakang maupun sebaliknya.

LIVEWORKSHEETS

KELAS 6 SBDP

POLA LANTAI

Penilaian

★★★★★

★★★★

★★★

★★

Sebutkan Pola Lantai di bawah ini!

Nama Tari : .....

Asar Tari : .....

Pola Lantai : .....

Nama Tari : .....

Asar Tari : .....

Pola Lantai : .....

Nama Tari : .....

Asar Tari : .....

Pola Lantai : .....

Nama Tari : .....

Asar Tari : .....

Pola Lantai : .....

Nama Tari : .....

Asar Tari : .....

Pola Lantai : .....

LIVEWORKSHEETS

KELAS 6 SBDP

POLA LANTAI

Penilaian

★★★★★

★★★★

★★★

★★

Lengkapilah Peta Konsep di bawah ini!

POLA LANTAI

PENGERTIAN

.....

.....

.....

.....

.....

FUNGSI

.....

.....

.....

.....

.....

TUJUAN

.....

.....

.....

.....

.....

JENIS-JENIS

.....

.....

.....

.....

.....

LIVEWORKSHEETS

KELAS 6 SBDP

POLA LANTAI

Penilaian

- ★★★★★
- ★★★★
- ★★★
- ★★

Buatlah Pola Lantai dengan menggunting pola yang sudah disediakan, kemudian tempelkan pada kolom yang Tersedia!

HORIZONTAL	VERTIKAL

DIAGONAL	LINGKARAN



LIVEWORKSHEETS