Matemática.
Elementos de las figuras geométricas.

1. **Observas las figuras planas y selecciona el elemento según indica la flecha.**

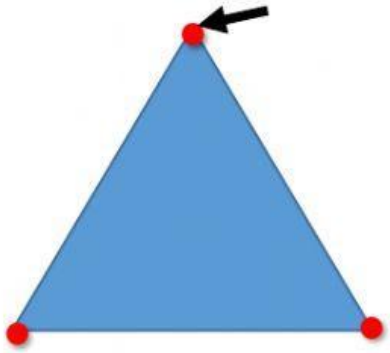

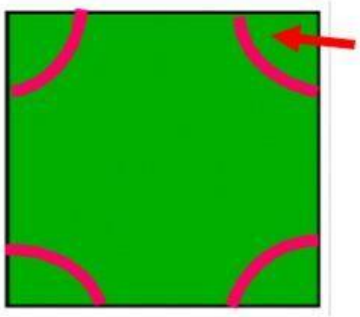

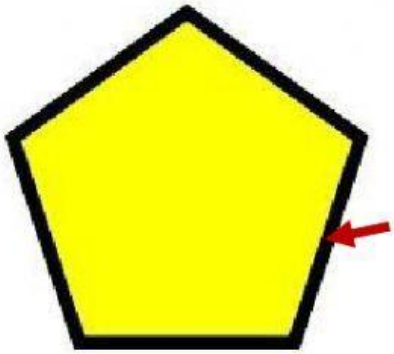



2. Arrastra los elementos de la figura geométrica según corresponda.

ángulo | lado | vértice



LIVEWORKSHEETS

ángulo | lado | vértice

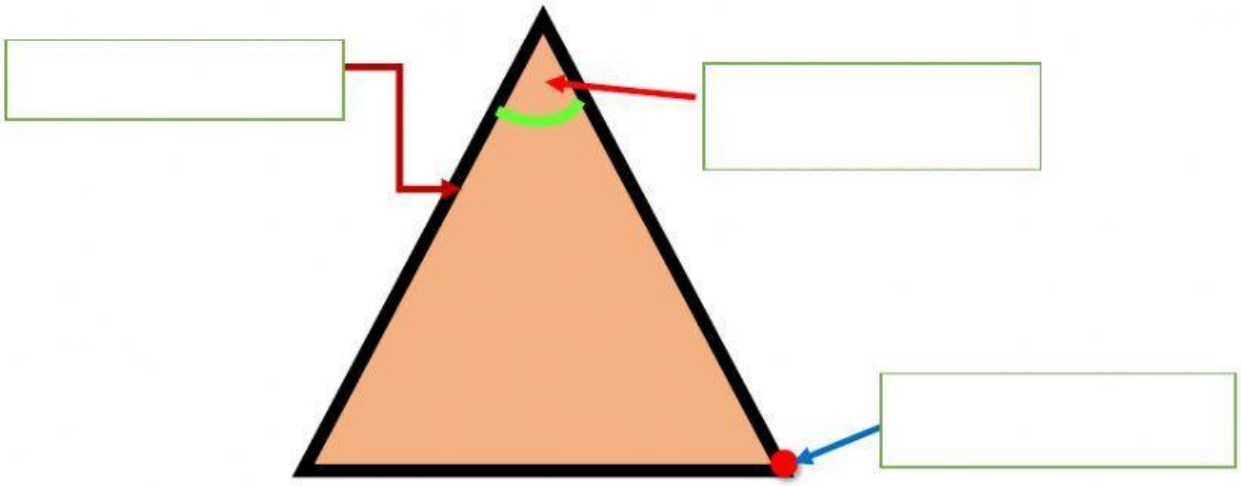

3. Lee las preguntas y selecciona la respuesta correcta.

La figura geométrica de tres lados, tres ángulos y tres vértices se llama:

La figura geométrica que no tiene lados, vértices ni ángulos se llama:

La figura geométrica que tiene cinco lados, cinco ángulos y cinco vértices se llama:

Punto donde se unen dos lados se llama:

LIVEWORKSHEETS