أكتب أسم العضو المشار إليه في الصور للمفصليات أدناه استعين بالأعضاء بين القوسين[الرأس – الصدر – البطن – ثلاثة أزواج من الأطراف – قرون الاستشعار – القرون الكلابية – أربعة أزواج من الأطراف]:

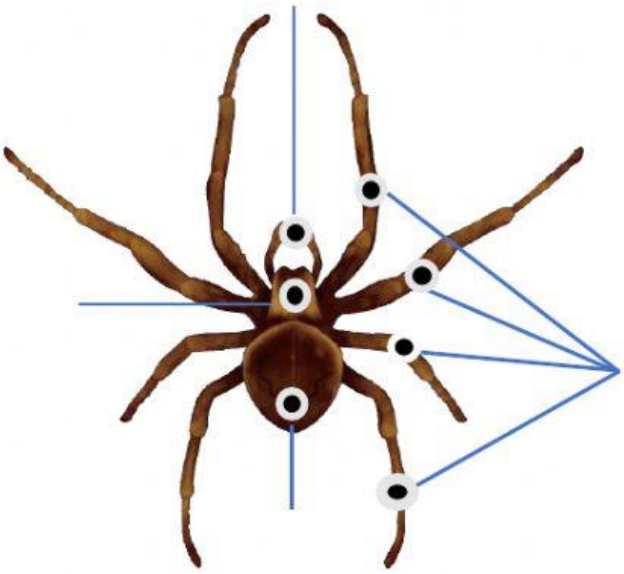





فاطمة عبدالله درويش الشحية

LIVEWORKSHEETS