LKPD IPA
" Organ pada Tumbuhan "

Petunjuk : Berikanlah nama pada setiap bagian tumbuhan berikut ini!

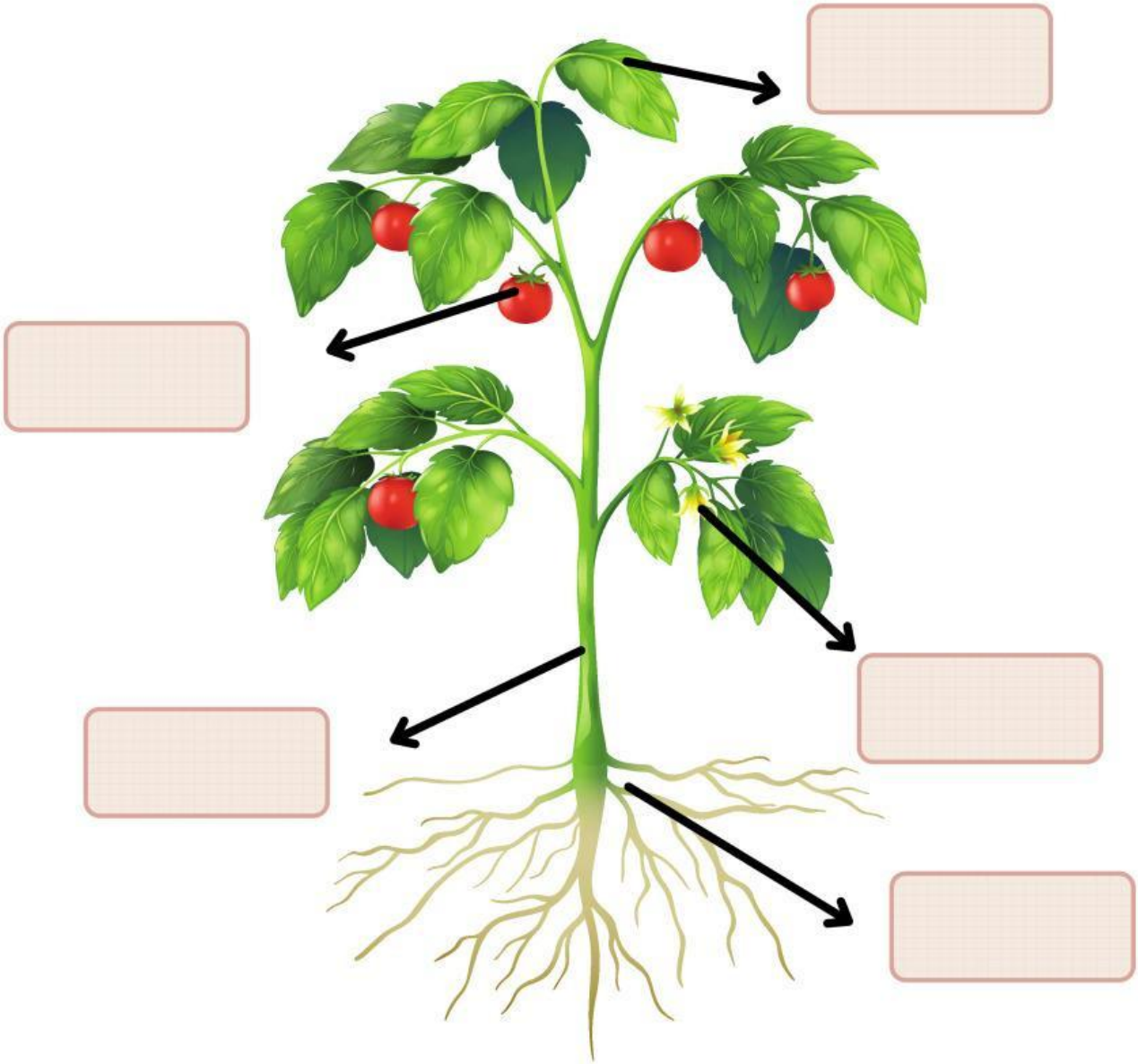

Daun | Bunga | Batang | Buah | Akar

By: Fera Imbing, S.Pd.Bio., Gr

LIVEWORKSHEETS

LKPD IPA

" Organ pada Manusia "

Petunjuk : Tuliskan dengan tepat nama dari setiap organ berikut ini!

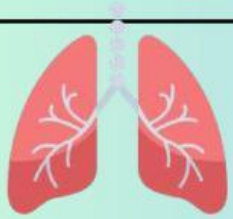		
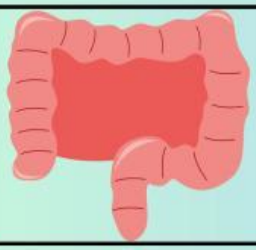	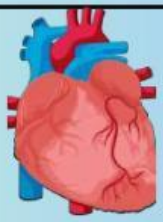	
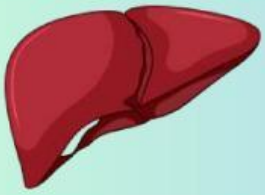		

By: Fera Imbing, S.Pd.Bio., Gr

LIVEWORKSHEETS

LKPD IPA
" Jaringan pada Tumbuhan dan Hewan "

Petunjuk : Isilah jawaban pada setiap pertanyaan berikut ini dengan benar!

- Jaringan pada tumbuhan yang selnya aktif membelah adalah . . . .

- Jaringan pada tumbuhan yang berfungsi untuk mengangkut hasil fotosintesis adalah . . .

- Jaringan pada hewan yang berfungsi sebagai penyokong tubuh adalah . . .

- Jaringan pada hewan yang dapat menggerakan rangka disebut jaringan . . .

By: Fera Imbing, S.Pd.Bio., Gr

LIVEWORKSHEETS