¿En que son diferentes?

Observa los siguientes cuerpos geométricos y escribe la letra mayúscula de acuerdo a sus partes, después (todo en mayúsculas) escribe el nombre del cuerpo geométrico, coloca el número de aristas y vértices que tiene.

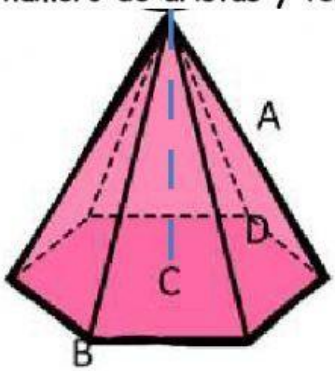

_____Altura Nombre:_____
_____Base Núm. de vértices:_____
_____Cara Núm. de aristas:_____
_____Vértice

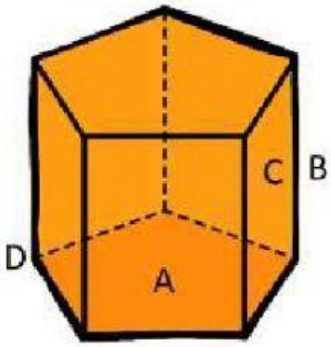

_____Altura Nombre:_____
_____Base Núm. de vértices:_____
_____Cara Núm. de aristas:_____
_____Vértice

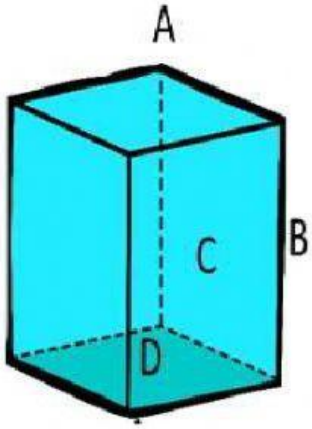

_____Altura Nombre:_____
_____Base Núm. de vértices:_____
_____Cara Núm. de aristas:_____
_____Vértice

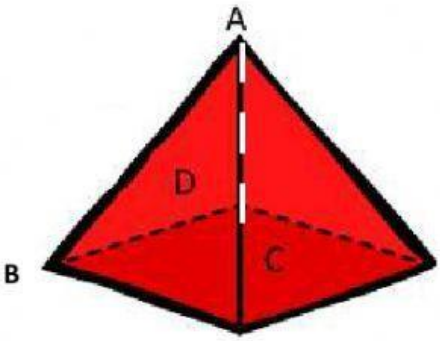

_____Altura Nombre:_____
_____Base Núm. de vértices:_____
_____Cara Núm. de aristas:_____
_____Vértice

LIVEWORKSHEETS