EXAMEN DE MATEMÁTICA

NOMBRE: ……

CURSO: …… LETRA:……

1. Resuelve los siguientes problemas.

Si Nancy tiene 7 frutas y Rosa tiene 2 ¿Cuántas frutas tienen en total?

Operación

+

En total tienen ……

……

Si en casa tenemos 4 naranjas y nos regalan otras 3 ¿Cuántas naranjas tenemos?



Operación

+

Tenemos ……

……

Mamá tenía 6 helados en el refrigerador y sus hijos se lo comieron 2 ¿Cuántos helados quedan en el refrigerador?

Operación

−

Quedan ……

…… en el

refrigerador.

LIVEWORKSHEETS

2. Señala las medidas exactas de cada juguete.

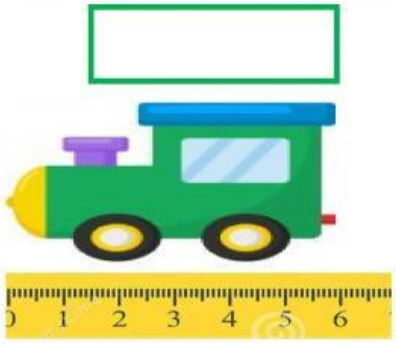

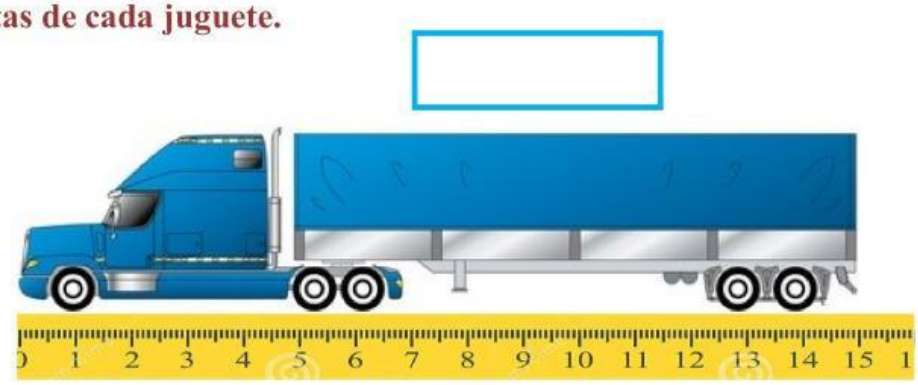

3. Resuelve las siguientes operaciones de suma y resta.

$$\begin{array}{r} 5 \\ +\ 4 \\ \hline \square \end{array} \qquad \begin{array}{r} 3 \\ +\ 3 \\ \hline \square \end{array} \qquad \begin{array}{r} 8 \\ -\ 4 \\ \hline \square \end{array} \qquad \begin{array}{r} 2 \\ -\ 2 \\ \hline \square \end{array}$$

$2 + 3 = \square$ $\quad 7 + 1 = \square$ $\quad 9 - 3 = \square$ $\quad 7 - 4 = \square$

LIVEWORKSHEETS

4. Escribe los días de la semana.

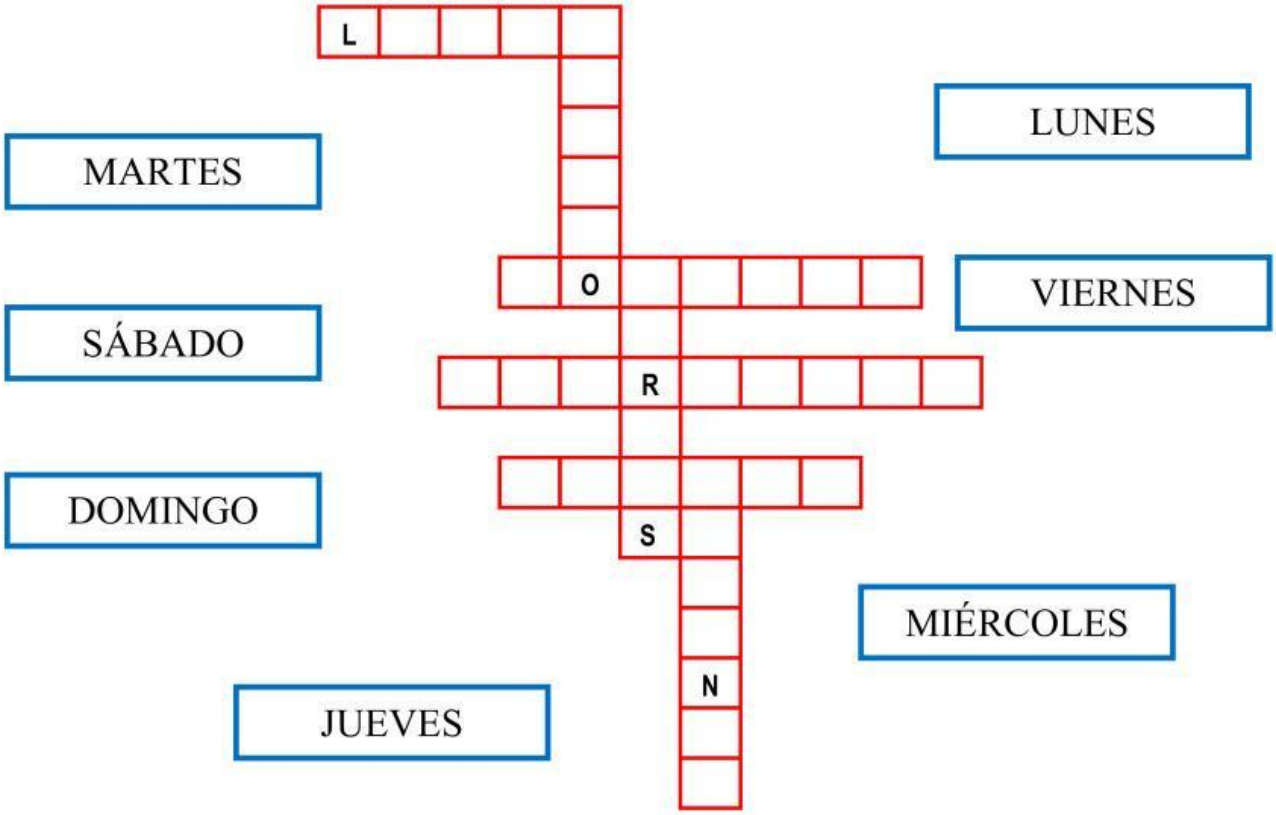

5. Escribe el peso o la cantidad de litros que indica cada dibujo.



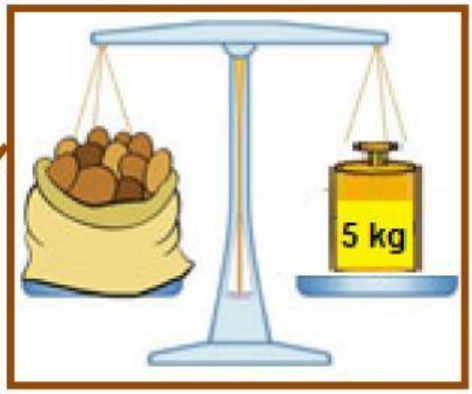

LIVEWORKSHEETS