ESCUELA DE EDUCACIÓN BÁSICA "PRESIDENTE ALFARO" Pueblo Nuevo - Salinas	ASIGNATURA: MATEMATICAS	
	DOCENTE	AÑO LECTIVO 2023 - 2024
	ESTUDIANTE:	
	FECHA:	CALIFICACIÓN:
	GRADO: Cuarto "_____" JORNADA: Matutina	

INSTRUMENTO E EVALUACIÓN

Marque con una x el tipo de evaluación		**TRIMESTRE** Primero - Segundo - Tercer	**TIPO DE EVALUACIÓN**: Evaluación Diagnóstico, Parcial, Quimestral, Recuperación, Supletorio, Remedial o Gracia
Digite el tipo de evaluación correspondiente		**Primer Trimestre**	**EXAMÉN I TRIMESTRE**

INSTRUCCIONES DEL EXAMEN:
1. El tiempo estimado para resolver este examen es de 45 minutos. 2. No se permite consultas entre compañeros, ni sacar medios escritos.
3. El examen debe realizarlo con esfero de color negro o azul. 4. Evite los tachones y borrones, analice antes de contestar cada pregunta

Selecciona la opción correcta

1. Elija la escritura correcta de las siguientes cantidades: (vale 1 p.)

Lectura	Escritura
a.2.345	Dos mil trescientos cuarenta y cinco
b.4.676	Cuatro mil seiscientos sesenta y siete
c.6.102	Seis mil ciento dos
d.8.456	Ochocientos mil cuatrocientos cincuenta y seis

b, c a, d a, c c, d a, b

Opción correcta_____

2. Daniel ha ahorrado dinero para ir de viaje con su familia en vacaciones y al contarlo obtiene 5U 3C 2D 9 UM ¿Cuánto dinero ahorro Daniel? (vale 1 p.)

a.9235 b.9532 c.9325 d.9352

Opción correcta_____

3. La cantidad representada en la regleta es: (vale 1 p.)



Opción correcta_____

a.6987 b.6897 c.6798 d.6879

4. La cantidad representada en el ábaco es: (vale 1 p.)

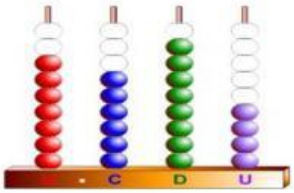

a. 4867 b. 7864
c. 7684 d. 7648

Opción correcta_____

5. En un camión de frutas hay 5934 manzanas y 1743 naranjas. ¿Cuántas frutas hay en total? (vale 1 p.)



a.7767 b.7634 c.7612 d.7677

Opción correcta_____

LIVEWORKSHEETS

6. En una ferretería tienen en total 8617 tornillos y ocuparon 1927 tornillos para arreglar las puertas de un edificio, ¿cuántos tornillos quedan? (vale 1 p.)

a. 6690 b.6960 c.6675 d.6860

Opción correcta_____

7. Los números que faltan de la sucesión son: (vale 1,5 p.)

8	16		64		256	

a.34,128,506 b. 18, 68,258 c. 32, 128, 512 d. 30,120,502

Opción correcta_____

8. El patrón de la sucesión es: (vale 1 p.)

10 → 90 → 170 → 250 → 330 → 410 → 490

a. 90 b.60 c.70 d.80

Opción correcta_____

9. Ordena las alturas de los volcanes de mayor a menor (vale 1,5 p.)

	Nombre	Altura en metros
a.	Ruco Pichincha	4696
b.	Antisana	5758
c.	Chimborazo	6310
d.	Cotopaxi	5897
e.	Los Ilinizas	5246

_____ > _____ > _____ > _____ > _____

a,e,c,b,d c,d,b,e,a b,d,c,e,a a,b,c,d,e

Opción correcta_____

APROBACIÓN DEL EXAMÉN.		
DOCENTE DE LA MATERIA:	**REVISADO:**	**APROBADO:**
Lcda. Lady Mite Zapata	**Lcda. Lady Mite Zapata**	Ing. Billy Gabriel Muñoz Bazán
Docente	**Comisión Pedagógica**	**Sub-director**

LIVEWORKSHEETS