1. **Padankan haiwan dengan organ pernafasan yang betul.**







Peparu
Spirakel
Insang
Kulit lembap

2. **Pilih jawapan yang betul bagi persamaaan proses fotosintesis berikut:**

Karbon dioksida	✚		Cahaya matahari →		Oksigen	✚		

LIVEWORKSHEETS

3. **Susun ciri-ciri khusus haiwan veterbrata dalam jadual di bawah .**

Peparu	Berbulu halus	Bertelur	Bersisik	Berbulu pelepah	Kulit lembap

Kumpulan Haiwan vetebrata	**Mamalia**	**Ikan**	**Burung**	**Amfibia**	**Reptilia**
Organ pernafasan		Insang		Peparu dan kulit lembap	
Cara Pembiakan	Melahirkan anak				
Litupan Badan					
Habitat	Darat	Air	Darat	Darat dan air	Kebanyakannya di darat

4. **Pilih jawapan BETUL atau SALAH berdasarkan pernyataan berikut.**

a) Fotosintesis bermaksud tumbuhan membuat makanan sendiri. ☐

b) Matahari merupakan sumber tenaga tambahan dalam proses fotosintesis. ☐

c) Karbon dioksida dan Air merupakan keperluan bagi tumbuhan dalam menjalankan proses fotosintesis. ☐

d) Klorofil adalah bahan berwarna hijau pada tumbuh-tumbuhan. ☐

e) Air diserap melalui batang tumbuhan dan merupakan keperluan dalam roses fotosintesis. ☐

f) Gas karbon dioksida masuk ke dalam tumbuhan melalui daun. ☐

g) Oksigen merupakan keperluan dalam proses fotosintesis. ☐

h) Glukosa tersimpan dalam bentuk kanji dan merupakan sumber makanan bagi tumbuhan. ☐

LIVEWORKSHEETS