Vypočítej velikosti úhlů označených červeným obloučkem

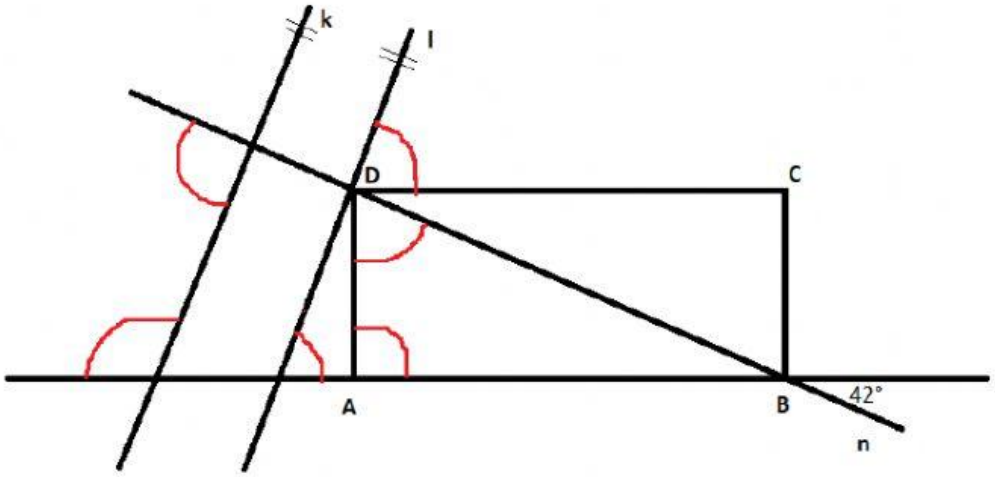

ABCD je obdélník

k ∥ l

k ⊥ n

Vypočítej velikosti úhlů, které jsou označeny barevným obloučkem.

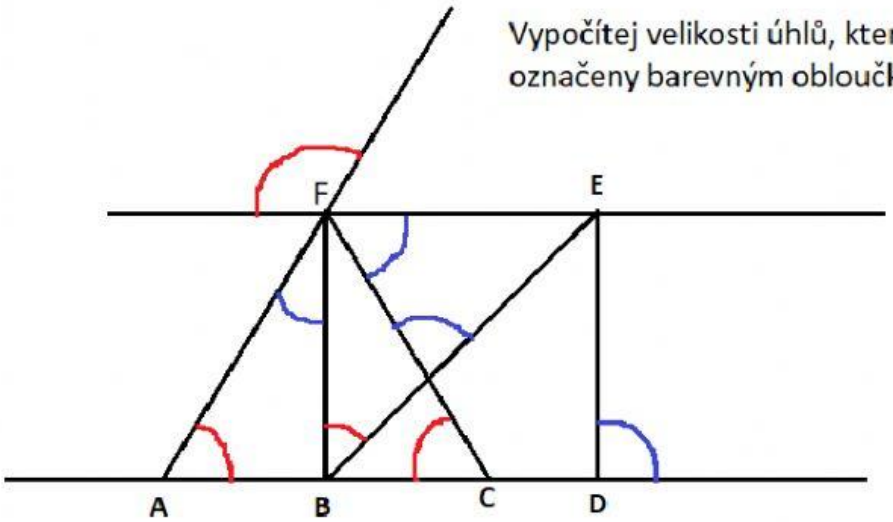

trojúhelník ABF je rovnostranný

BDEF je čtverec

platí, že pokud má trojúhelník stejné strany, má i stejné úhly

platí, že když sečteme vnitřní úhly v trojúhelníku, dostaneme vždy 180°

LIVEWORKSHEETS

Vypočítej úhly označené barevným obloučkem

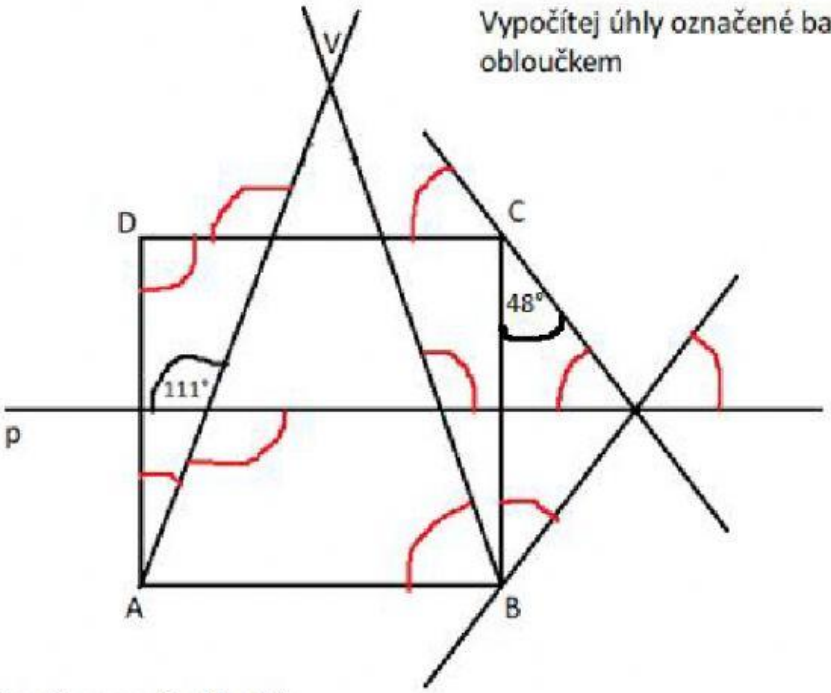

přímka ***p*** je osou úsečky **BC**
trojúhelník **ABV** je rovnoramenný se základnou ***v***
ABCD je čtverec
platí, že součet vnitřních úhlů v trojúhelníku je 180°
platí, že když má trojúhelník stejné strany, má stejné úhly, (ke straně náleží úhel, který leží naproti dané straně)

LIVEWORKSHEETS