ชื่อ.....เลขที่.....ชั้น ม.5/.....

ใบงานเรื่อง ฟังก์ชัน

1. จงพิจารณาว่าเซตของคู่อันดับต่อไปนี้เป็นฟังก์ชันหรือไม่

1.1 {(1,p), (3,p), (2,r)} .....

1.2 {(1,2), (2,3), (3,4), (4,5)} .....

1.3 {(1,2), (1,3), (2,4), (2,5)} .....

1.4 {(1,k), (2,k), (3,k), (4,4)} .....

1.5 {(a,b), (b,c), (c,f)} .....

1.6 $\{(x, y) | y = x + 1\}$ .....

1.7 $\{(x, y) | y^2 = x\}$ .....

1.8

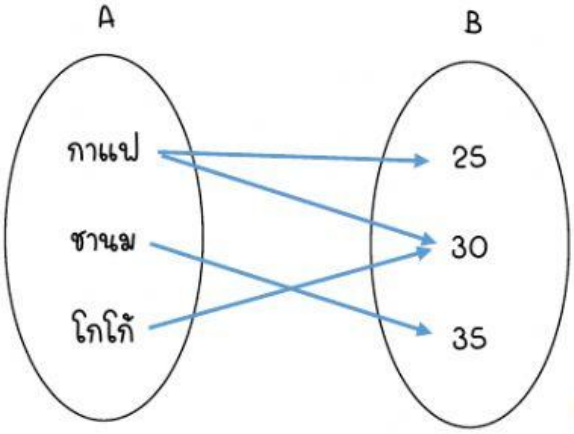

.....

LIVEWORKSHEETS

2. ให้นักเรียนพิจารณากราฟต่อไปนี้ กราฟใดเป็นฟังก์ชัน

2.1

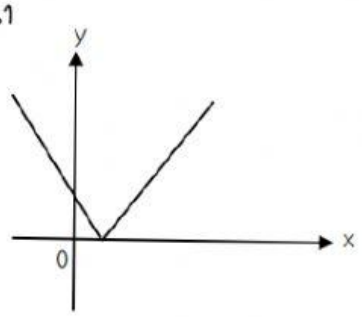

2.2

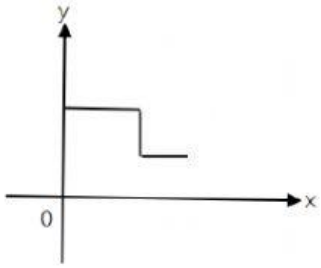

2.3

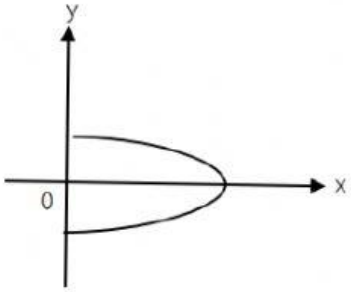

2.4

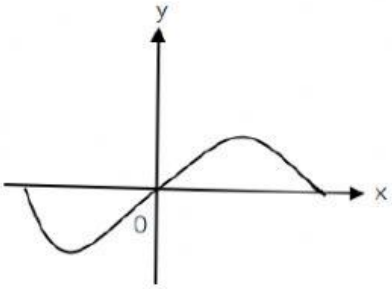

3. จงตอบคำถามในช่องว่างให้ถูกต้อง

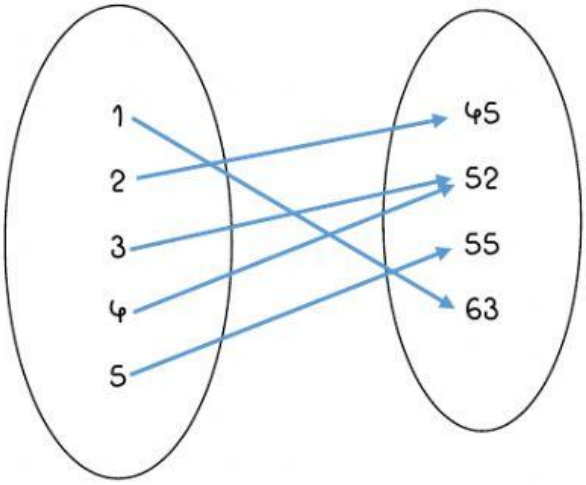

ความสัมพันธ์นี้เป็นฟังก์ชันหรือไม่ .....

ถ้าเป็น โดเมน คือ.....

เรนจ์ คือ .....

LIVEWORKSHEETS