Ayo Mengingat!

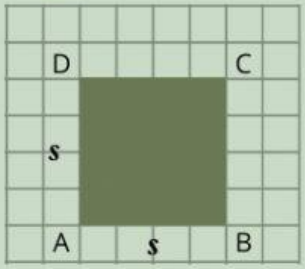

Perhatikan gambar disamping!

Nama bangun ruang di samping adalah = ...
Panjang sisi = ...
Luas persegi = ...x.....

Ayo Temukan!

1. Amatilah gambar dibawah ini!

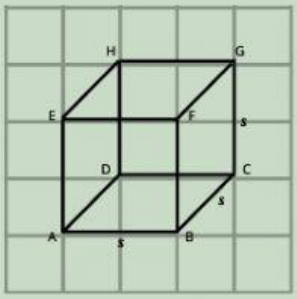

Bangun ruang tersebut dinamakan bangun ruang Kubus ABCD.EFGH dengan panjang rusuk s

2. Apabila kubus tersebut di buka maka akan terbentuk jaring jaring seperti gambar berikut

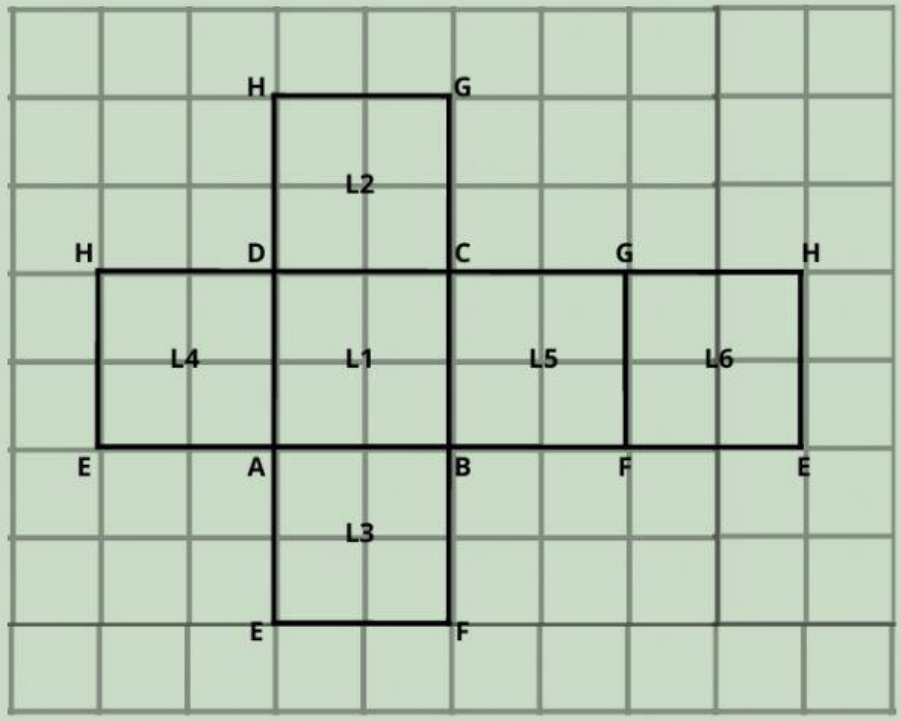

LIVEWORKSHEETS