A. Perhatikan video berikut ini

B. Kerjakan soal berikut ini

1. Definisi dari pemangkatan 3^5 adalah ...

   a. 3 x 3 x 3 c. 5 x 5 x 5

   b. 3 x 3 x 3 x 3 x 3 d. 5 x 5 x 5 x 5 x 5

2. Perhatikan gambar berikut!

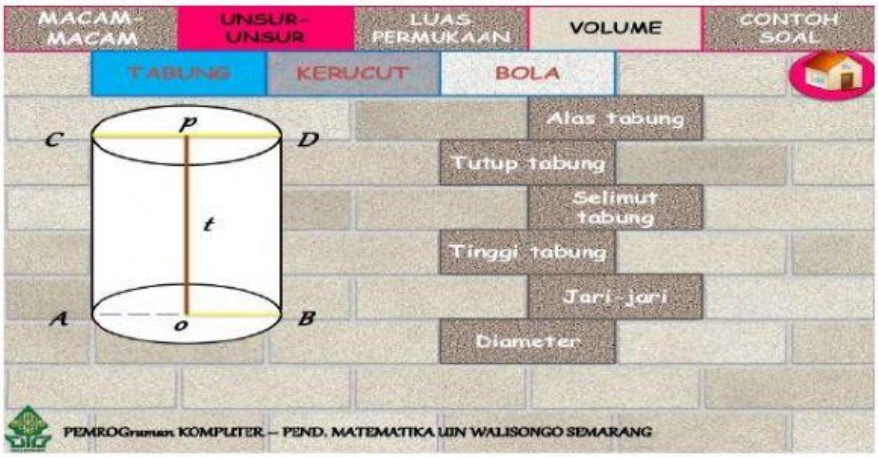

Diameter pada gambar diatas adalah ...

a. Garis AB dan Garis CD

b. Garis 0B dan Garis OA

c. Garis CP dan Garis PD

d. Garis AC dan Garis BD

LIVEWORKSHEETS

3. Pilihlah nama yang sesuai dengan gambar berikut ini!

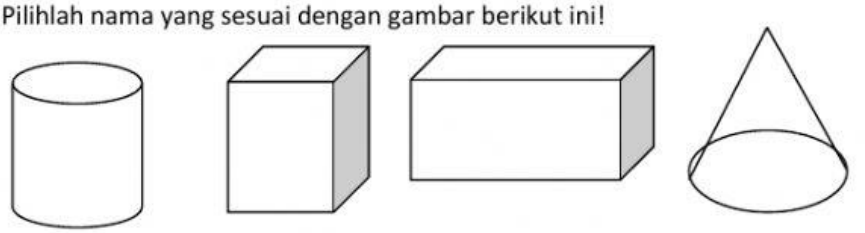

4. Buatlah garis ke jawaban yang benar!

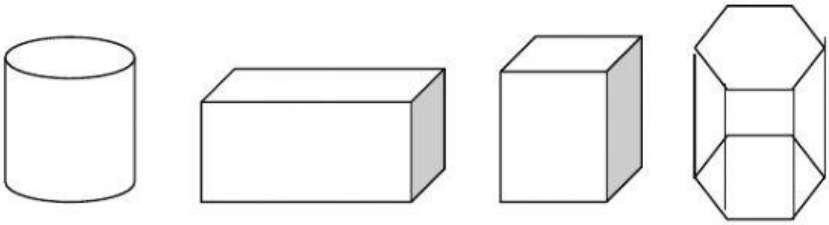

Limas segienam	Balok	Prisma segi enam	Tabung	Kubus

5. Tariklah rumus yang sesuai dengan gambar!



LIVEWORKSHEETS