PERMINTAAN, PENAWARAN DAN HARGA PASAR

Silahkan tonton video berikyt sampai tuntas. Setelah seselai langsung kerjakan soal yang ada dibawah video !

Jawablah pertanyaan dibawah ini dengan klik pada huruf a, b, c atau d yang dianggap paling benar !

1. Kesediaan produsen untuk menawarkan barang atau jasa ada berbagai tingkat harga dan waktu tertentu disebut
    a. Jumlah barang yang dijual
    b. Keseimbangan pasar
    c. Permintaan
    d. Pemanawaran
2. Jika harga barang naik maka barang yang diawarkan akan….

LIVEWORKSHEETS

a. Naik
b. Turun
c. Tetap
d. Tidak berubah

3. Bentuk kurve panawaran dibawah ini adalah… .

a. 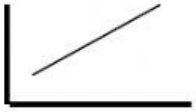

b. 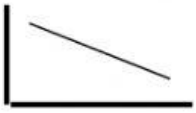

c.

d. 

4. Sejumlah barang atau jasa yang diminta konsumen disebut… .
   a. Permintaan
   b. Penawaran
   c. Harga pasar
   d. Pasar
5. Dibawah ini adalah Faktor yang mempengaruhi permintaan yaitu … .
   a. Pendapatan Masyarakat
   b. Pendapatan Negara
   c. Kualitas Sumber daya manusia
   d. Teknologi
6. Bentuk kurve Permintaan dibawah ini adalah… .

a. 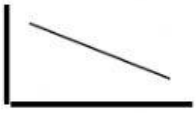

LIVEWORKSHEETS

b.

c.

7. Harga kesepakatan antara penjual dan pembeli atas suatu barang atau jasa disebut…
   a. Harga Penjual
   b. Harga Pembeli Harga
   c. Harga Keseimbangan
   d. Harga Pokok
8. Bentuk kurve harga keseimbangan dibawah ini adalah… .

a. 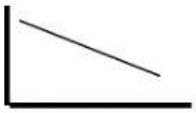

b. 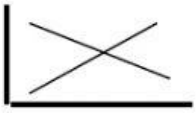

c.

d. 

LIVEWORKSHEETS