COLEGIO ADVENTISTA DE HUALPEN

ESCUELA ADVENTISTA HUALPÉN

Avda. Curanilahue 415
fono: 962892065

Nombre					Timbre de EVALUADOR
Curso	**4°A**	**Fecha:**	**13 Junio 2023**		
Asignatura	**Historia**	**Profesor:**	**Luis Martínez Silva**		
OA: 06	Ubicar lugares en un mapa, utilizando coordenadas geográficas como referencia (paralelos y meridianos).				
OEA: E6A2	**Comprender las leyes de la naturaleza, la historia del mundo inserta en el conflicto cósmico y la promesa de vida eterna.**				
Puntaje IDEAL	**50**	**Puntaje REAL**		**Calificación**	

INSTRUCCIONES:

- **Lee con mucha atención cada enunciado antes de responder.**
- **Marca con una X la alternativa correcta.**
- **Si tienes dudas, levanta tu mano y espera al profesor.**

1 La imagen anterior muestra los círculos y semicírculos imaginarios trazados alrededor de la Tierra. El conjunto de estas líneas imaginarias o círculos y semicírculos reciben el nombre de: **(2 pts.)**

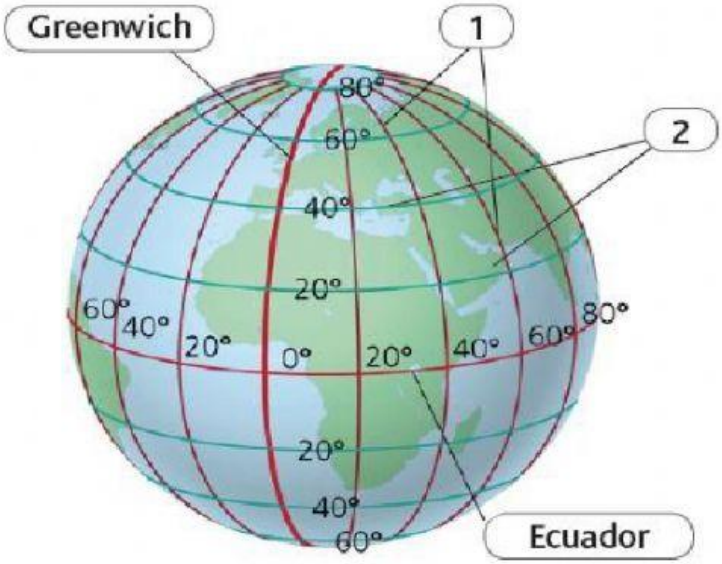

(A) Polo Norte y Polo Sur.

(B) Coordenadas geográficas.

(C) Hemisferio norte y hemisferio sur.

(D) Hemisferio occidental y hemisferio oriental.

LIVEWORKSHEETS

2 ¿Cuál de las siguientes líneas imaginarias nos sirven de referencia para medir la distancia o longitud de cualquier punto de la superficie terrestre al este u oeste de dicha línea? **(2 pts.)**

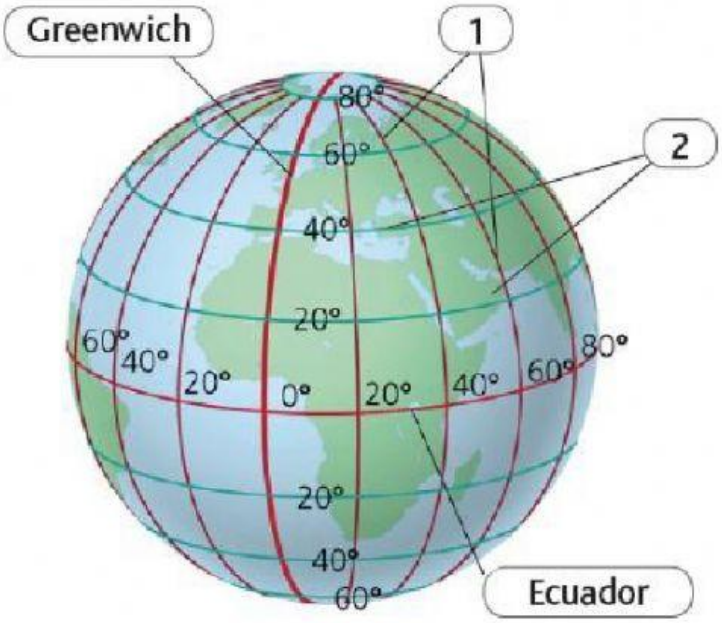

(A) El Ecuador.

(B) El huso horario.

(C) El trópico de Cáncer.

(D) El Meridiano 0° o de Greenwich.

Departamento Aprendizaje LIRMI ASSESSMENT. Derechos reservados. Solo fines educacionales.
LIVEWORKSHEETS

3

(2 pts.)

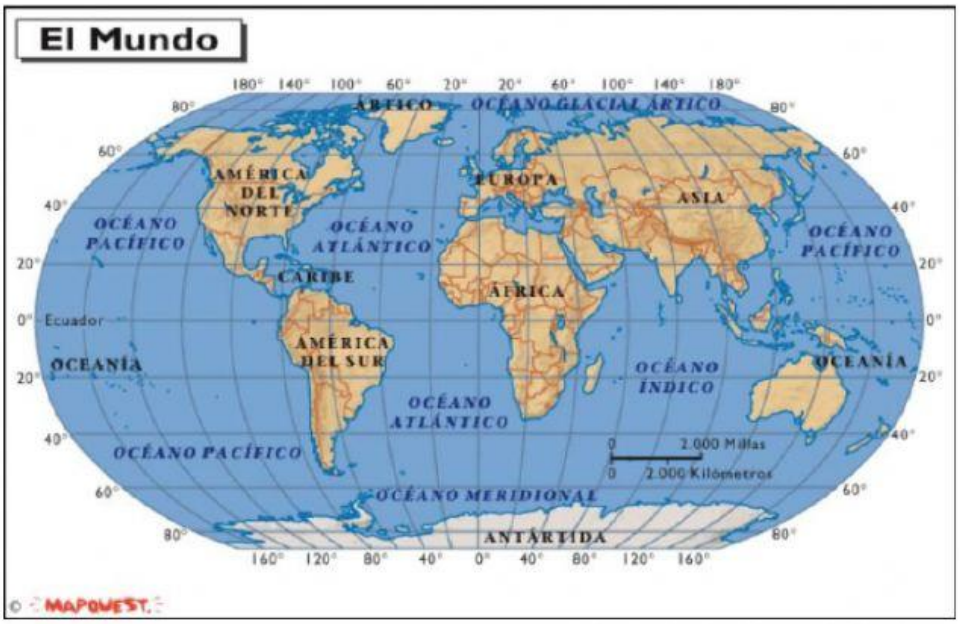

http://www.imagui.com/a/mapamundi-politico-iLLreX9Bp

¿Qué latitud y longitud posee cualquier lugar ubicado en América Central?

(A) Latitud norte y longitud oeste.

(B) Latitud sur y longitud este.

(C) Longitud oeste y latitud sur.

(D) Longitud este y latitud sur.

Departamento Aprendizaje LIRMI ASSESSMENT. Derechos reservados. Solo fines educacionales.
LIVEWORKSHEETS

4 **(2 pts.)**

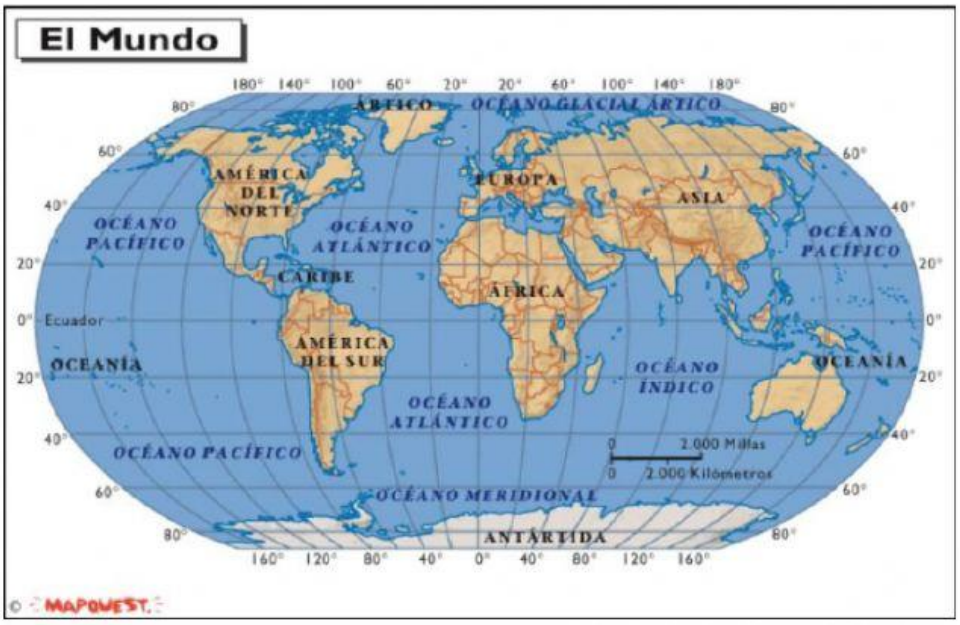

http://www.imagui.com/a/mapamundi-politico-iLLreX9Bp

El punto ubicado en 40° de latitud norte y 20° de longitud oeste se sitúa en:

(A) Asia.

(B) Océano Atlántico.

(C) América del Norte.

(D) Océano Pacífico.

5 América se divide en tres regiones geográficas: América del Norte, América Central y América del Sur. ¿Cuál de los siguientes pares de países forman parte de América del Norte? **(2 pts.)**

(A) Cuba y Belice.

(B) Colombia y Ecuador.

(C) Panamá y Costa Rica.

(D) México y Estados Unidos.

Departamento Aprendizaje LIRMI ASSESSMENT. Derechos reservados. Solo fines educacionales.
LIVEWORKSHEETS

6 ¿Cuál es la línea de referencia que divide a nuestro planeta en dos hemisferios Norte y Sur? **(2 pts.)**

(A) Ecuador.

(B) Trópico de cáncer.

(C) Trópico de capricornio.

(D) Meridiano de Greenwich.

7 **(2 pts.)**

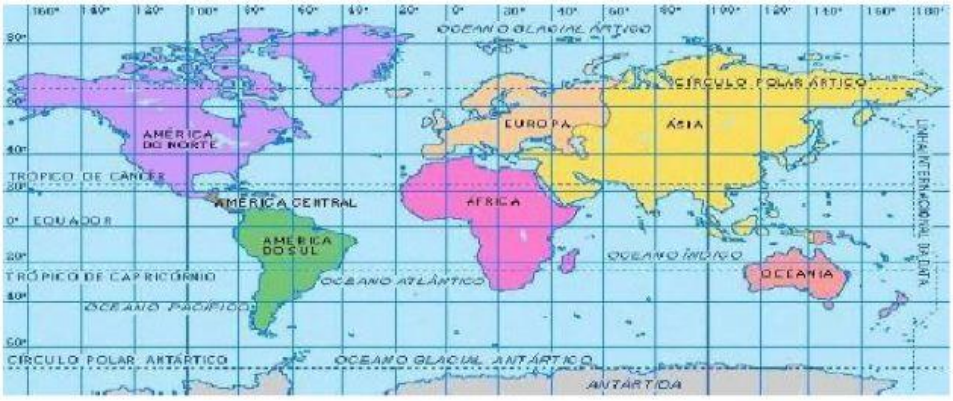

Los continentes por el cual atraviesa el círculo del ecuador son:

(A) América - África - Asia.

(B) América - Europa - Asia.

(C) América – África - Oceanía.

(D) América - Europa - Oceanía.

Departamento Aprendizaje LIRMI ASSESSMENT. Derechos reservados. Solo fines educacionales.
LIVEWORKSHEETS

8 **(2 pts.)**

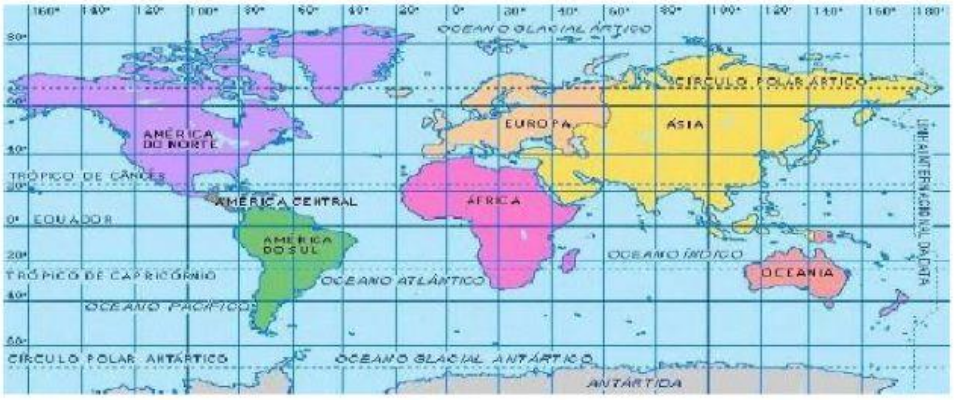

¿Qué continente se encuentra solo en el hemisferio sur?

(A) Asia.

(B) Europa.

(C) Oceanía.

(D) América.

9 Los paralelos indican la latitud, ¿qué quiere decir este concepto? **(2 pts.)**

(A) La distancia entre un punto de la tierra con el ecuador.

(B) La distancia entre un punto de la tierra y el trópico de Cáncer.

(C) La distancia entre un punto de la tierra y el trópico de capricornio.

(D) La distancia entre un punto de la tierra y el meridiano de Greenwich.

Departamento Aprendizaje LIRMI ASSESSMENT. Derechos reservados. Solo fines educacionales.
LIVEWORKSHEETS

10 **(2 pts.)**

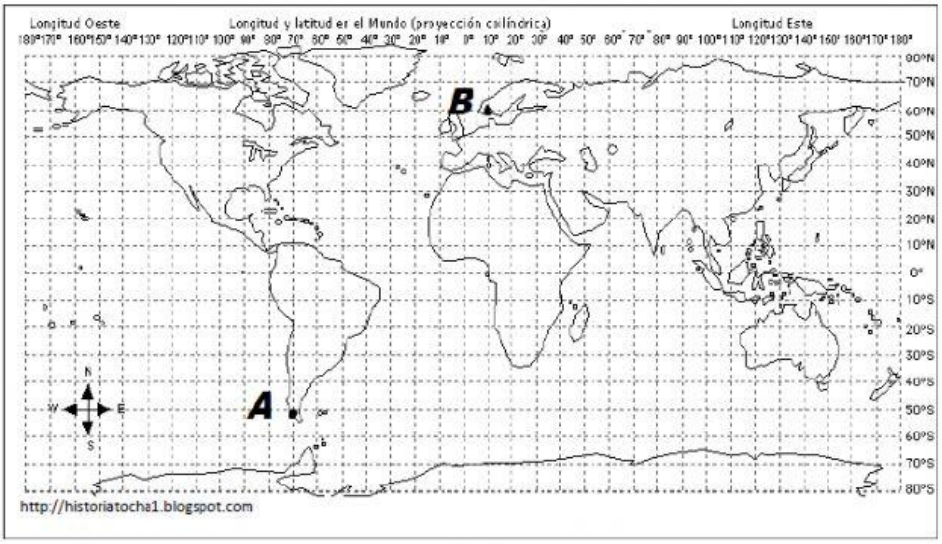

La letra A se ubica en las siguientes coordenadas:

(A) Latitud 50 Sur, Longitud 70 Este.

(B) Latitud 50 norte, Longitud 70 Este.

(C) Latitud 50 Sur, Longitud 70 Oeste.

(D) Latitud 50 Norte, Longitud 70 Oeste.

Departamento Aprendizaje LIRMI ASSESSMENT. Derechos reservados. Solo fines educacionales.
LIVEWORKSHEETS

11 **(2 pts.)**

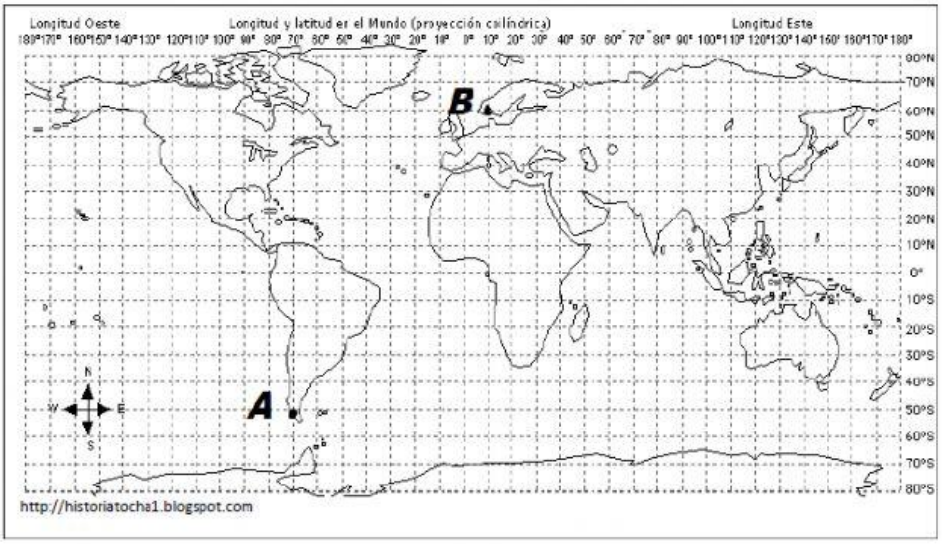

La letra B se ubica en las siguientes coordenadas:

(A) Latitud 60 Sur, Longitud 10 Este.

(B) Latitud 60 Norte, Longitud 10 Este.

(C) Latitud 60 Sur, Longitud 10 Oeste.

(D) Latitud 60 Norte, Longitud 10 Oeste.

12 Las formas de representar al planeta como el globo terráqueo y el planisferio tienen muchas líneas verticales y horizontales que parecen formar una red. Estas reciben el nombre de: **(2 pts.)**

(A) Paralelos.

(B) Meridianos.

(C) A y B son correctas.

(D) Ninguna de las anteriores.

Departamento Aprendizaje LIRMI ASSESSMENT. Derechos reservados. Solo fines educacionales.
LIVEWORKSHEETS

13 La red de la imagen representa: **(2 pts.)**

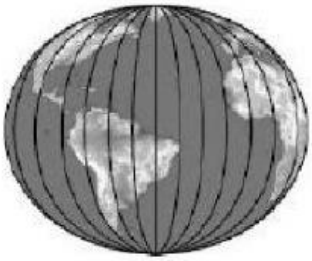

(A) Latitud.

(B) Paralelos.

(C) Meridianos.

(D) Longitud.

14 Los paralelos son líneas imaginarias horizontales que tienen orientación Este-Oeste. Son perpendiculares al eje terrestre y disminuyen de tamaño al acercarse a los polos, el paralelo de referencia recibe el nombre de: **(2 pts.)**

(A) Línea del ecuador.

(B) Trópico de cáncer.

(C) Línea de Greenwich.

(D) Trópico de capricornio.

Departamento Aprendizaje LIRMI ASSESSMENT. Derechos reservados. Solo fines educacionales.
LIVEWORKSHEETS