REPASO BLOQUE V MATEMÁTICAS

MATEMÁTICAS

Números y Operaciones

- Simplificación. Fracción Irreducible
- Reducción a Común Denominador

Magnitudes y Medidas

- Superficie

Geometría

- Área de Figuras Planas

Estadística y Probabilidad

- Conceptos Estadísticos (Mediana, Moda...)
- Frecuencia Absoluta y Relativa

1. Simplifica las siguientes fracciones en tu cuaderno. Después escribe el resultado.

$\frac{15}{45} = \frac{\square}{\square}$ $\frac{48}{36} = \frac{\square}{\square}$ $\frac{77}{110} = \frac{\square}{\square}$ $\frac{120}{180} = \frac{\square}{\square}$

2. Realiza las siguientes operaciones. Fíjate muy bien en el denominador para saber si tienes o no que reducir a común denominador. ¡El resultado siempre simplificado!

$\frac{5}{7} + \frac{4}{3} = \frac{\square}{\square}$ $\frac{3}{5} + \frac{11}{5} = \frac{\square}{\square}$

$\frac{6}{2} - \frac{7}{3} = \frac{\square}{\square}$ $\frac{8}{4} + \frac{7}{5} = \frac{\square}{\square}$

LIVEWORKSHEETS

3. Calcula el área de las siguientes figuras.



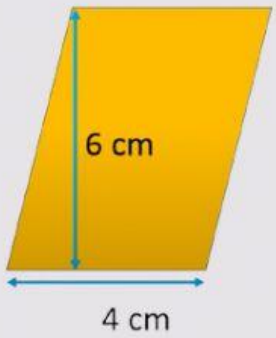

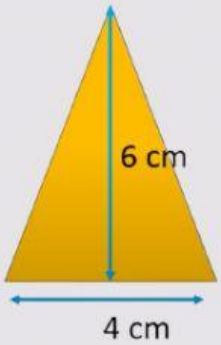

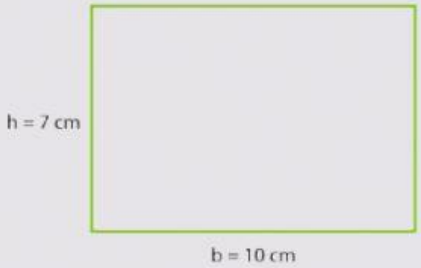

_____ cm²

_____ cm²

_____ cm²

4. Pasa estas medidas de superficie a la unidad indicada:

- 3,76 m^2 = _____ dm^2
- 2.746,5 km^2 = _____ dam^2
- 0,78 km^2 = _____ m^2
- 4.500 mm^2 = _____ m^2
- 35.680 dm^2 = _____ dam^2
- 1,8 m^2 = _____ cm^2

5. Como me gusta mucho cocinar he decidido hacer una tortilla para mis hermanos. Sonia ha comido 2/5 de la tortilla y Sergio 3/7.

¿Qué fracción de tortilla se han comido entre los dos? $\frac{__}{__}$

¿Quién ha comido más tortilla? _____

¿Qué fracción de tortilla ha sobrado? $\frac{__}{__}$

6. Fíjate en los años de los prim@s de Julia

Media de edad: _____

Moda: _____

LIVEWORKSHEETS