REPASO TEMA 9

1. Descompón estos números.

874 = ☐ + ☐ + ☐

951 = ☐ + ☐ + ☐

906 = ☐ + ☐ + ☐

973 = ☐ + ☐ + ☐

832 = ☐ + ☐ + ☐

795 = ☐ + ☐ + ☐

2. Resta 10.

348 338 ☐ ☐ ☐ ☐ ☐ ☐

Suma 3

581 ☐ ☐ ☐ ☐ ☐ ☐ ☐

3. Elige el lugar que ocupa la cifra 3 en cada número.

763 → ☐

639 → ☐

397 → ☐

743 → ☐

4. Ordena de mayor a menor. Después marca el signo.

842, 738, 783, 430, 865, 774, 952, 826

☐ < > ☐ < > ☐ < > ☐ < > ☐ < > ☐ < > ☐

5. Calcula.

×	0	1	2	3	4	5	6	7	8	9	10
6	0										

LIVEWORKSHEETS

$6 \times 2 =$ ☐ $6 \times 6 =$ ☐ $6 \times 7 =$ ☐

$6 \times 5 =$ ☐ $6 \times 8 =$ ☐ $6 \times 9 =$ ☐

$$\begin{array}{r} 74 \\ \times\ 2 \\ \hline \square \end{array} \qquad \begin{array}{r} 83 \\ \times\ 3 \\ \hline \square \end{array} \qquad \begin{array}{r} 62 \\ \times\ 4 \\ \hline \square \end{array} \qquad \begin{array}{r} 90 \\ \times\ 5 \\ \hline \square \end{array} \qquad \begin{array}{r} 51 \\ \times\ 6 \\ \hline \square \end{array}$$

6. Observa cuánto dinero tiene cada hucha y completa.

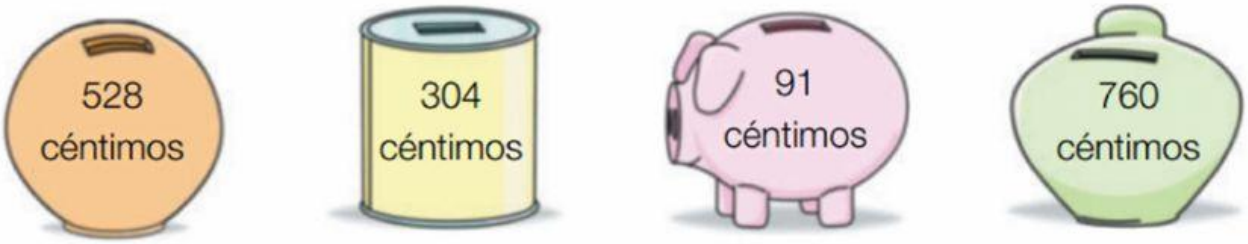

- 528 céntimos = ☐ euros y ☐ céntimos = 5,28 €
- 304 céntimos = ☐ euros y ☐ céntimos = ☐ €
- 91 céntimos = ☐ euros y ☐ céntimos = ☐ €
- 760 céntimos = ☐ euros y ☐ céntimos = ☐ €

7. ¿Cuánto dinero hay? Completa.

☐ € ☐ cént.

☐ € ☐ cént.

LIVEWORKSHEETS



☐ € ☐ cént.

☐ € ☐ cént.

8. Elige el nombre de estos cuerpos geométricos.

Escribe el nombre de cada cuerpo geométrico.

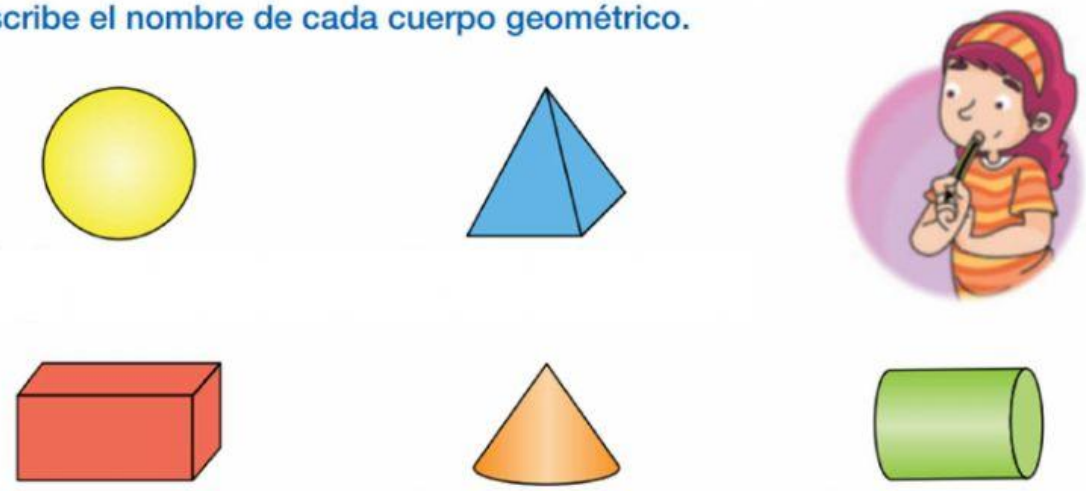

7. Observa y resuelve.

- ¿Cuántas tazas hay en 8 cajas como esta?

☐ ○ ☐ = ☐

Hay ☐ tazas.

- ¿Cuántas bolitas tienen 6 collares como este?

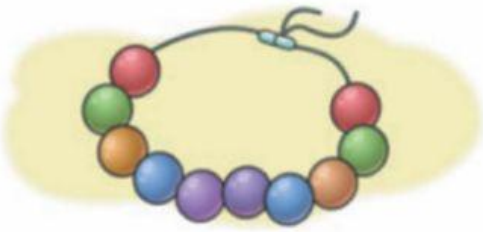

☐ ○ ☐ = ☐

Tienen ☐ bolitas.

LIVEWORKSHEETS

9. Lee y resuelve.

Raquel tenía en la hucha 5 € y 43 céntimos.
Mete una moneda de 2 € y después saca 60 céntimos.
¿Cuánto dinero tiene ahora en la hucha?

¿Qué debes hacer para responder?

☐ primero sumar, después restar

☐ primero restar, después sumar

DATOS

Tenía ▶ ☐ € = ☐ céntimos

Mete ▶ ☐ € = ☐ céntimos

Saca ▶ ☐ céntimos

OPERACIONES

1º ○

2º ○

☐ céntimos = ☐ € y ☐ céntimos

SOLUCIÓN Ahora tiene ☐ y ☐ céntimos.

.....

- Enrique compra una gorra de 2,95 €.
  Entrega para pagar un billete de 5 €.
  ¿Cuántos euros y céntimos le devolverán?

DATOS ☐ € = ☐ céntimos

☐ € = ☐ céntimos

OPERACIÓN ○

☐ céntimos

☐ € y ☐ céntimos

SOLUCIÓN Le devolverán ☐ y ☐ céntimos.

LIVEWORKSHEETS

En la biblioteca del colegio había 94 libros. Ayer devolvieron 19 libros y hoy han entregado 20. ¿Cuántos libros hay ahora en la biblioteca?

¿Qué debes hacer para responder?

- ☐ primero sumar, después restar
- ☐ primero restar, después sumar

DATOS

Había ☐

Devuelven ☐

Entregan ☐

OPERACIONES

1º ○

2º ○

SOLUCIÓN Ahora hay ☐ libros.

LIVEWORKSHEETS