EXAMEN CIENCIAS SOCIALES P5.

1. Escribe cómo se llaman las siguientes representaciones de la superficie terrestre:

LIVEWORKSHEETS

EXAMEN CIENCIAS SOCIALES P5.

2. Escribe cómo se llaman los elementos del mapa señalados con flechas:

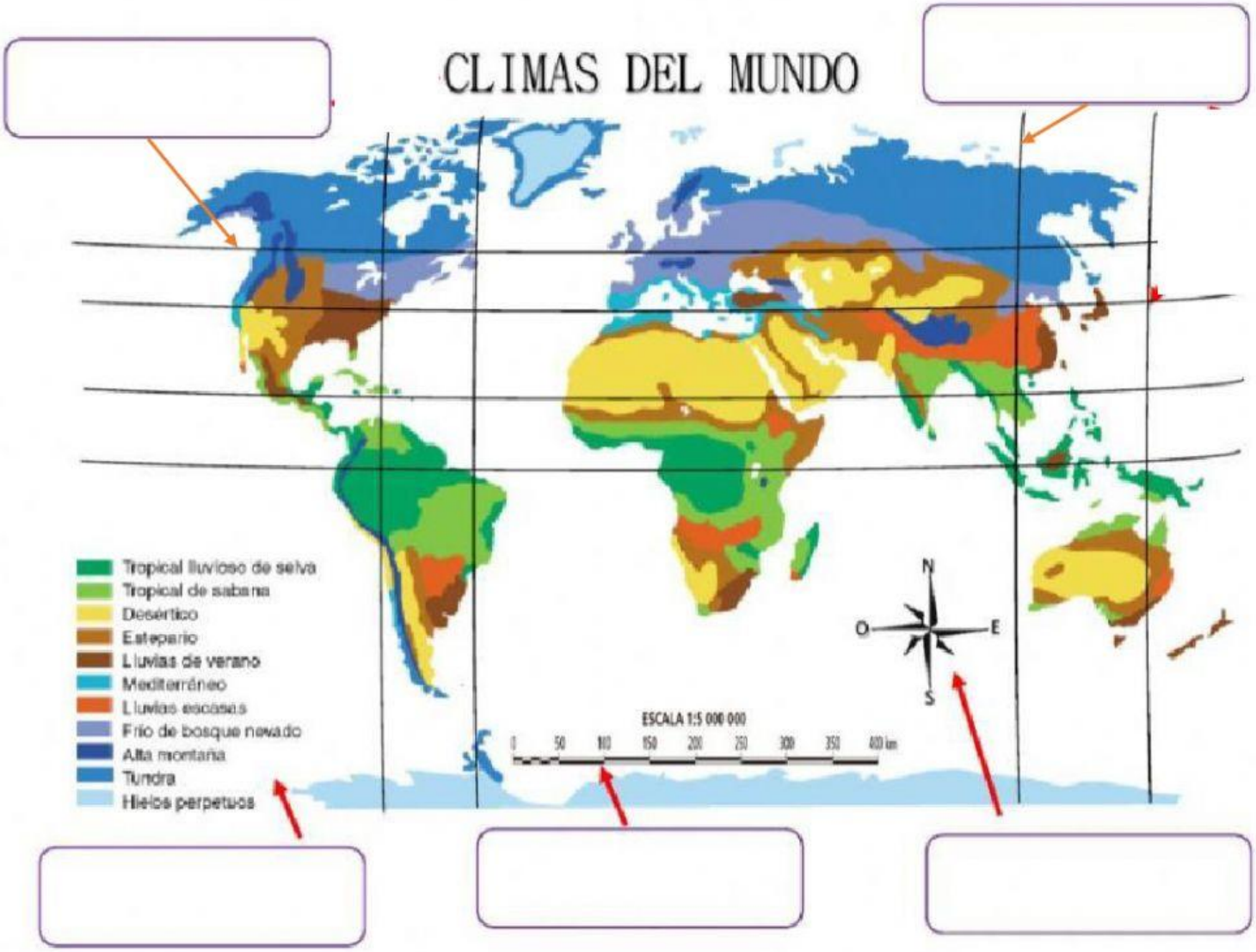

LIVEWORKSHEETS

EXAMEN CIENCIAS SOCIALES P5.

3. Observa la escala del mapa y escoge una distancia estimada entre los siguientes puntos:

- Entre Sevilla y Madrid:
- Entre Madrid y Alicante:
- Entre Madrid y Valencia:
- Entre Valencia y Alicante:
- Entre Sevilla y Alicante:

LIVEWORKSHEETS

EXAMEN CIENCIAS SOCIALES P5.

4. Elige las coordenadas correctas de los siguientes puntos:

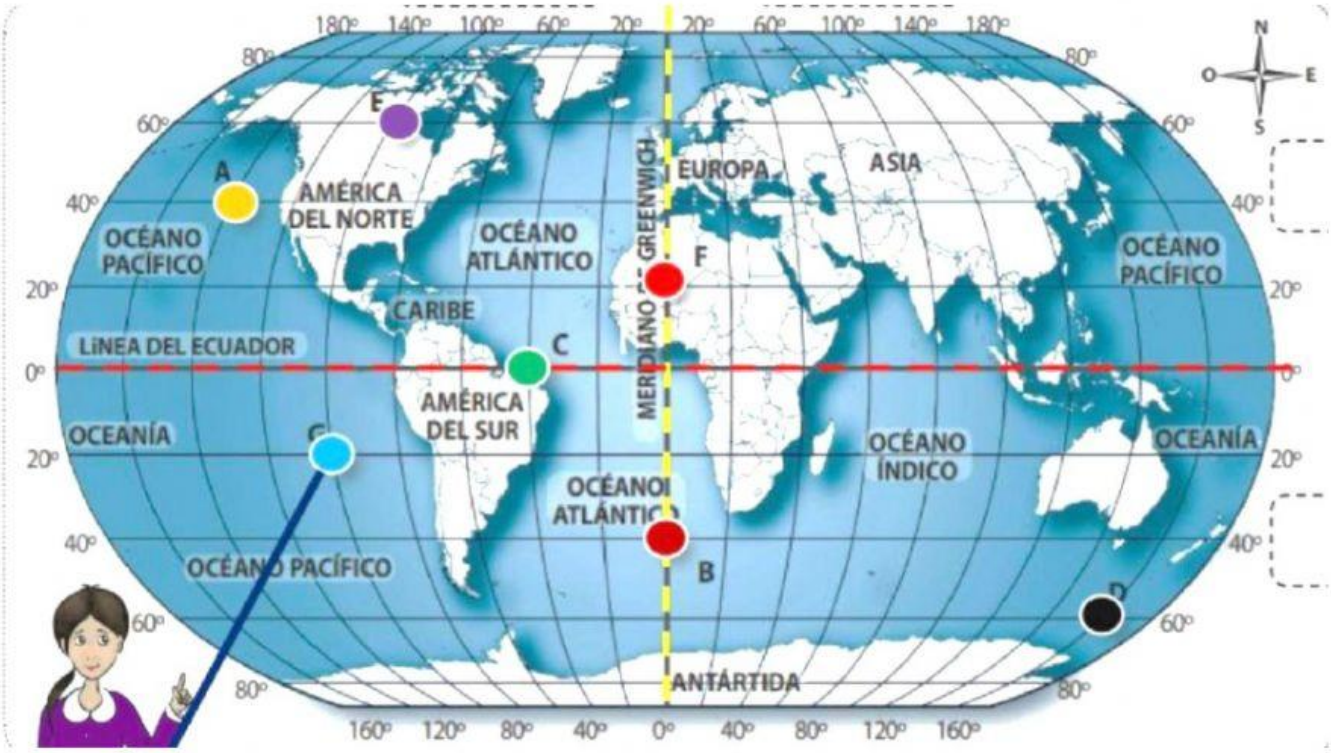

A: _____ **E:** _____

B: _____ **F:** _____

C: _____ **G:** _____

D: _____

5. Escribe a qué elementos se refieren las siguientes definiciones:

- Relieve plano de gran extensión:
- Desembocadura de un río donde se acumulan sedimentos:
- Superficie pequeña de tierra rodeada por mar por todas partes menos por una, como un saliente de la playa que se adentra en el mar.
- Superficie enorme de tierra rodeada por mar por todas partes menos por una, como un saliente de un país que se adentra en el mar:
- Fila grande de montañas:
- Terreno amplio y plano situado a cierta altura sobre el nivel del mar:

LIVEWORKSHEETS

EXAMEN CIENCIAS SOCIALES P5.

6. Une cada elemento geográfico con el punto correspondiente en el mapa:

Mar Mediterráneo

Gran Llanura Europea

Montes Escandinavos

Pirineos

Alpes

Cáucaso

Río Támesis

Mar Negro

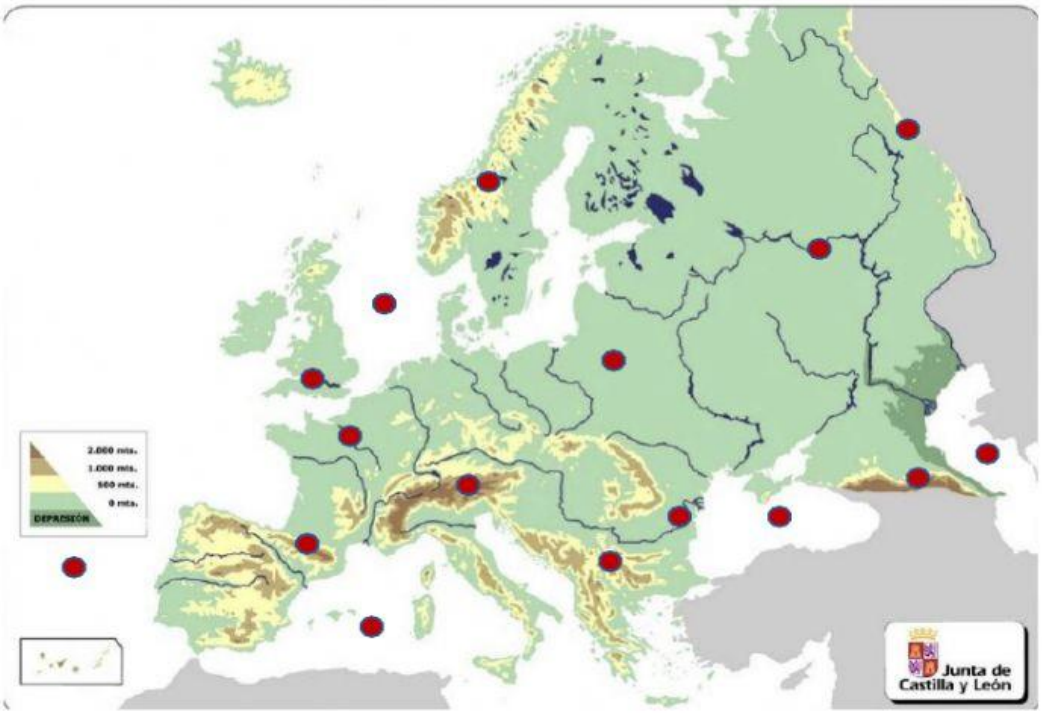

Balcanes

Río Volga

Río Danubio

Río Sena

Mar Caspio

Mar del Norte

Océano Atlántico

Montes Urales

LIVEWORKSHEETS

EXAMEN CIENCIAS SOCIALES P5.

7. Une cada río y cada unidad de relieve con el punto correspondiente en el mapa:

Sistema Central

Río Guadiana

Río Duero

Sistema Ibérico

Río Ebro

Río Segura

Río Tajo

Sistema Bético

Pirineos

Meseta Central

Cordillera Cantábrica

Río Guadalquivir

LIVEWORKSHEETS

EXAMEN CIENCIAS SOCIALES P5.

8. Escribe en la leyenda del mapa el nombre de cada clima de España.

9. Escribe a qué tipo de clima se refiere en cada descripción:

- Temperaturas suaves todo el año. Precipitaciones frecuentes todo el año. Predomina en Galicia, la costa cantábrica y País Vasco.

- Temperaturas suaves en invierno y en verano mucho calor, precipitaciones escasas que suelen ocurrir en primavera y en verano. Es el clima que tenemos en Murcia y toda la costa mediterránea.

- Temperaturas muy bajas en invierno y suaves en verano. Pre ipitaciones abundantes que suelen ser en forma de nieve.

LIVEWORKSHEETS

EXAMEN CIENCIAS SOCIALES P5.

- Temperaturas suaves todo el año, precipitaciones escasas. Predomina en las islas Canarias.

LIVEWORKSHEETS